พิกัดภูมิศาสตร์

พิกัดภูมิศาสตร์ _____

เส้นเมริเดียน

_____

_____

_____

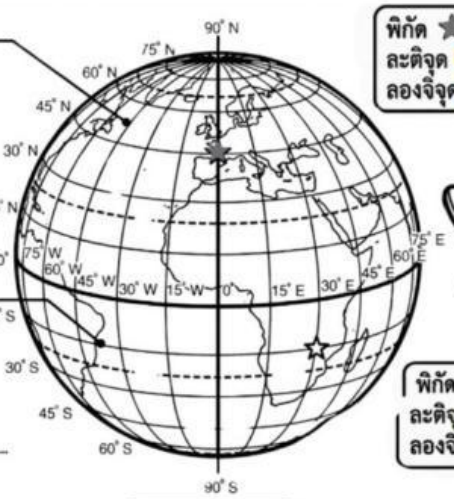

พิกัด ★ คือ
ละติจุด ● องศาเหนือ
ลองจิจุด ● องศา

เส้นขนานละติจุด

_____

_____

_____

พิกัด ☆ คือ
ละติจุด ● องศาใต้
ลองจิจุด ● องศาตะวันออก

ละติจุด (LATITUDE)

ลองติจุด (LONGITUDE)

_____

_____

_____

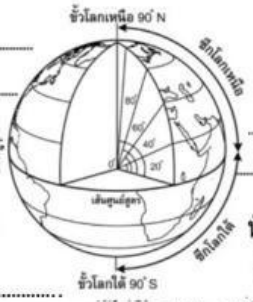

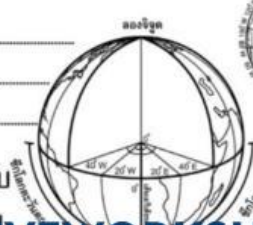

_____

_____

_____

นับไปทางซีกโลก_____ใช้อักษร_____กำกับ

นับไปทางซีกโลก_____ใช้อักษร_____กำกับ

นับไปทางซีกโลก_____ใช้อักษร_____กำกับ

นับไปทางซีกโลก_____ใช้อักษร_____กำกับ

ชื่อ.....ชั้น.....เลขที่.....

LIVEWORKSHEETS