LECCIÓN DEL SEGUNDO PARCIAL
ÁREA: MATEMÁTICA
QUINTO BÁSICO

1. **Marca las afirmaciones correctas. . (2 Ptos.)**

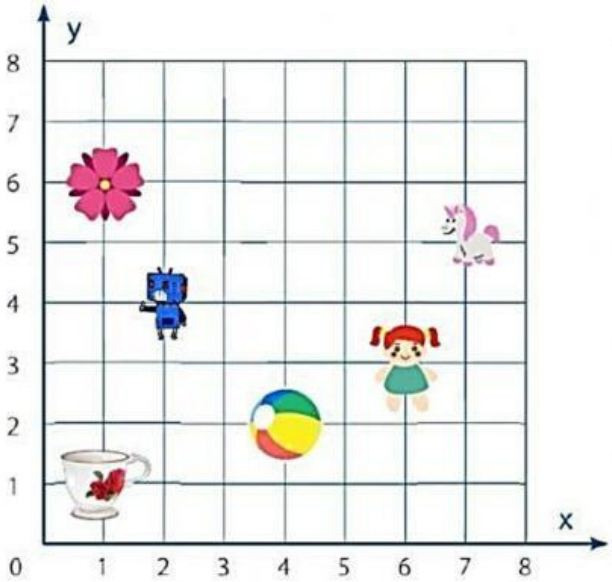

- La está ubicada en el punto (1; 6)
- El está ubicada en el punto (5; 7)
- La está ubicada en el punto (6; 3)
- El está ubicada en el punto (2; 4)
- La está ubicada en el punto (2; 2)
- La está ubicada en el punto (4; 2)

2. **Escribe las coordenadas de los puntos representados en el plano cartesiano. (2 Ptos.)**

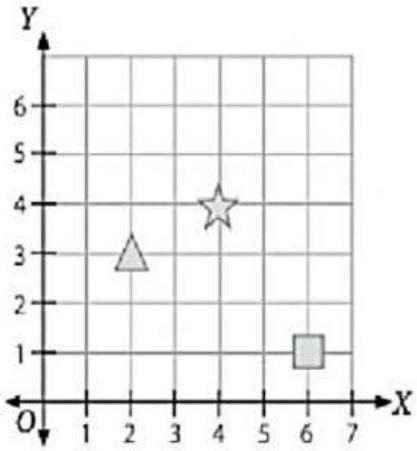

a. La está ubicadas en (,).

b. La está ubicada en (,).

c. La está ubicada en (,).

LIVEWORKSHEETS

3. **Lee y resuelve los siguientes problemas. No te olvides de poner los signos a tus operaciones . (4 Ptos.)**

✓ En un vivero sembraron **126 845** árboles de pino, **238 719** árboles de eucalipto y **319 456** árboles frutales. ¿Cuántos árboles sembraron en total?

Cm	Dm	Um	C	D	U

✓ Un museo recibió **654 389** visitantes durante el año. Si **278 945** fueron niños, ¿cuántos visitantes fueron adultos?

Cm	Dm	Um	C	D	U

4. **Resuelve la siguiente multiplicación. (2 Ptos.)**

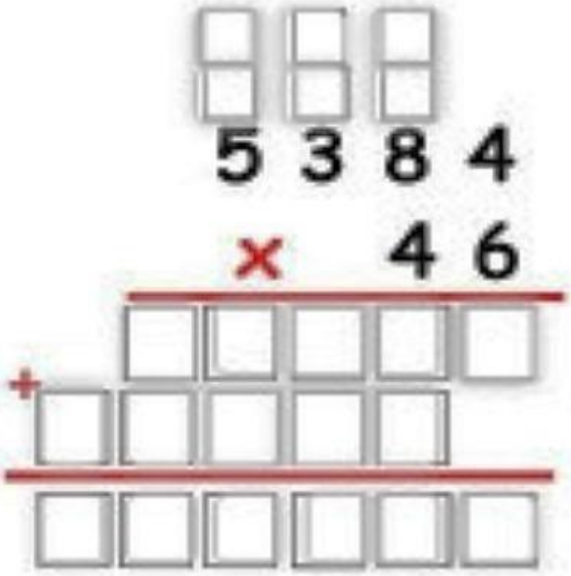

LIVEWORKSHEETS