UJIAN MATEMATIK MINGGU 2 (MAC)

KERTAS 2

Jawab semua soalan.

NAMA :

Tarikh :

1. Padankan pecahan di bawah.

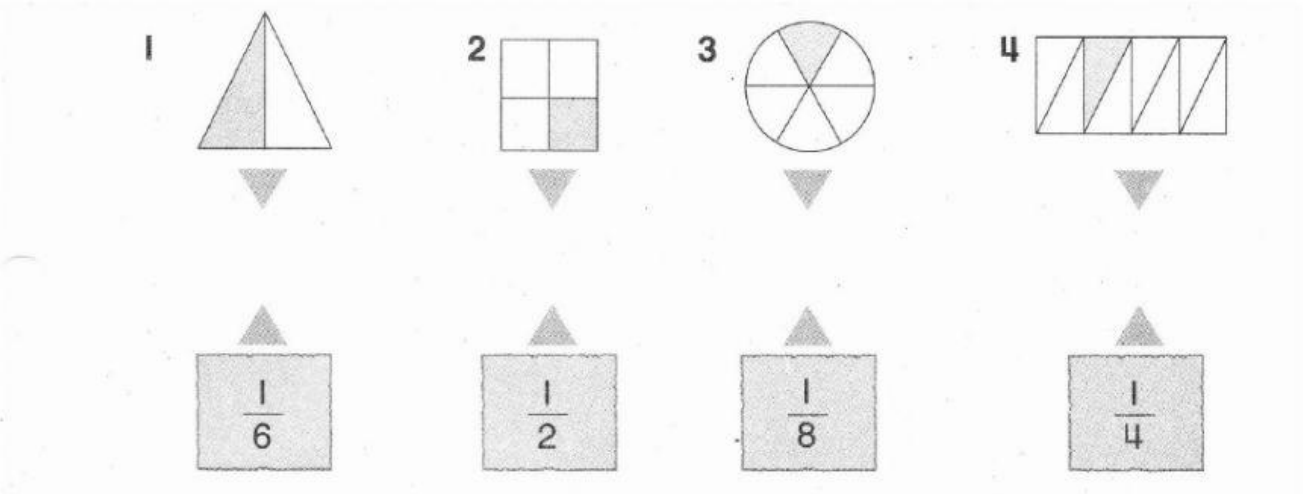

2. Tulis pecahan berdasarkan rajah berikut.

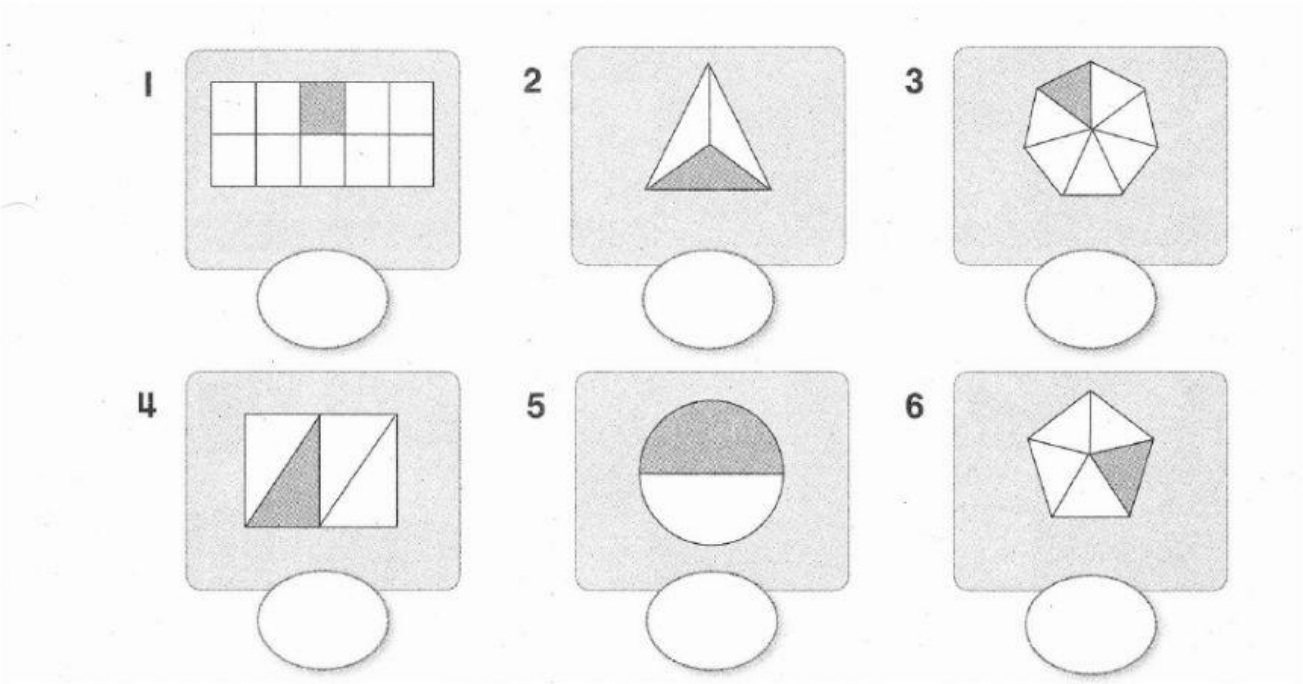

LIVEWORKSHEETS

3. Rajah 1 menunjukkan sebuah bulatan yang dibahagikan kepada beberapa bahagian yang sama besar.

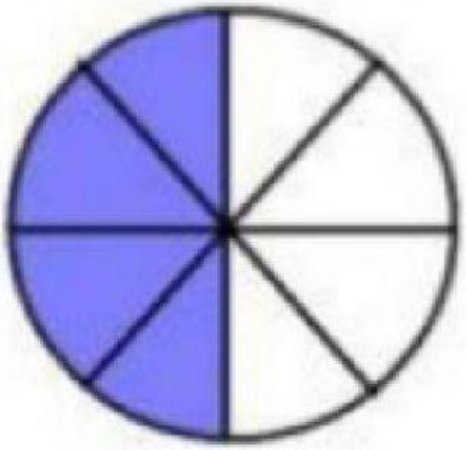

Rajah 1

Tulis dalam perkataan pecahan yang mewakili kawasan berlorek daripada bulatan itu.

4. Rajah 2 terdiri daripada beberapa segi tiga sama sisi yang sama besar.

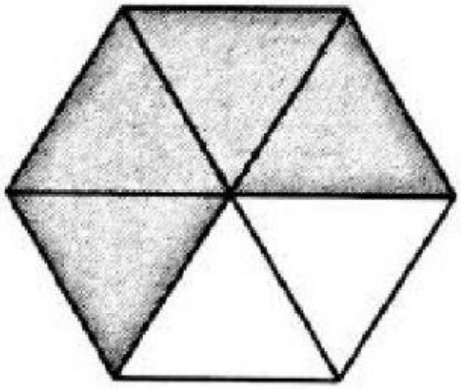

Rajah 2

Berapakah pecahan daripada seluruh rajah itu yang dilorek?

LIVEWORKSHEETS

5. Tulis pecahan yang berikut dalam perkataan.

$\frac{6}{8}$

$\frac{13}{15}$

$\frac{12}{20}$

6. Padankan pecahan kawasan berlorek.

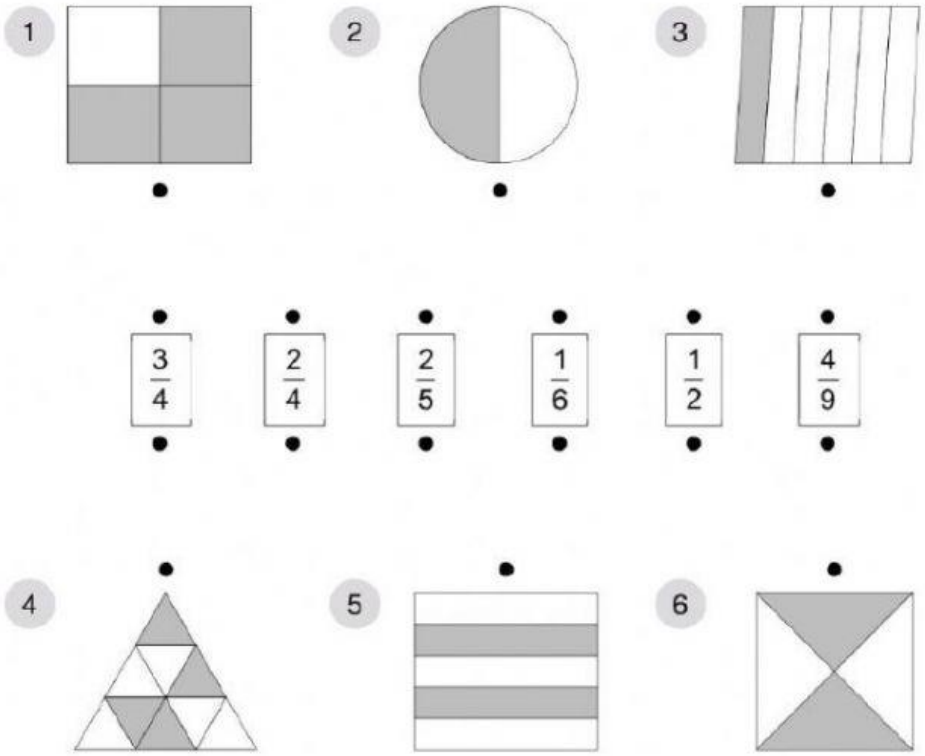

LIVEWORKSHEETS

7. Pilih pecahan setara yang betul bagi kawasan berlorek.

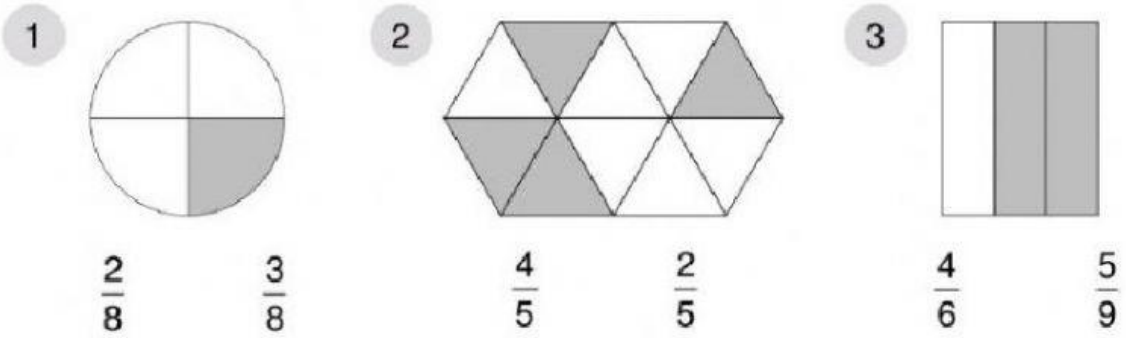

8. Suaikan kepada pecahan yang betul. Kemudian, tuliskan pecahan dalam perkataan.

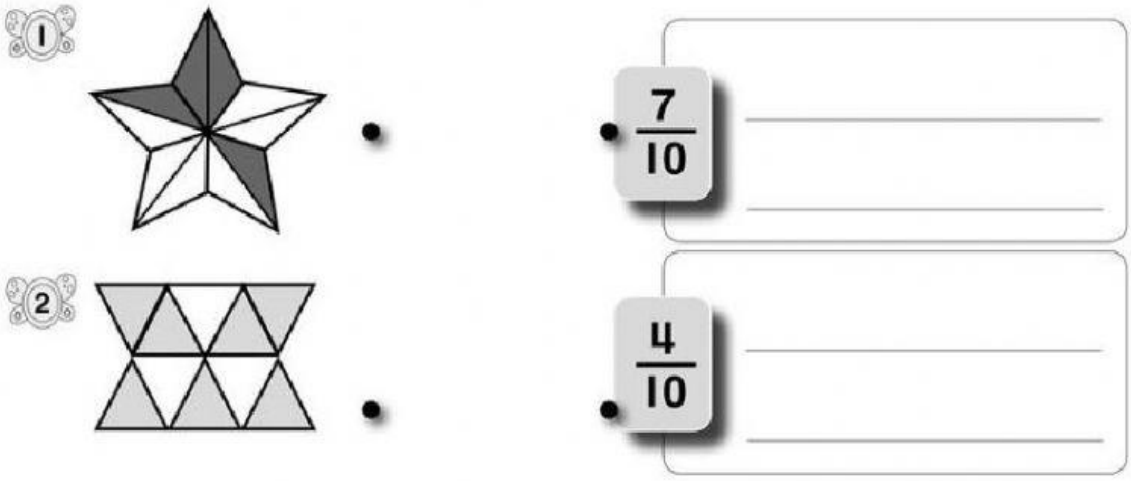

9. Pilih pecahan yang lebih besar.

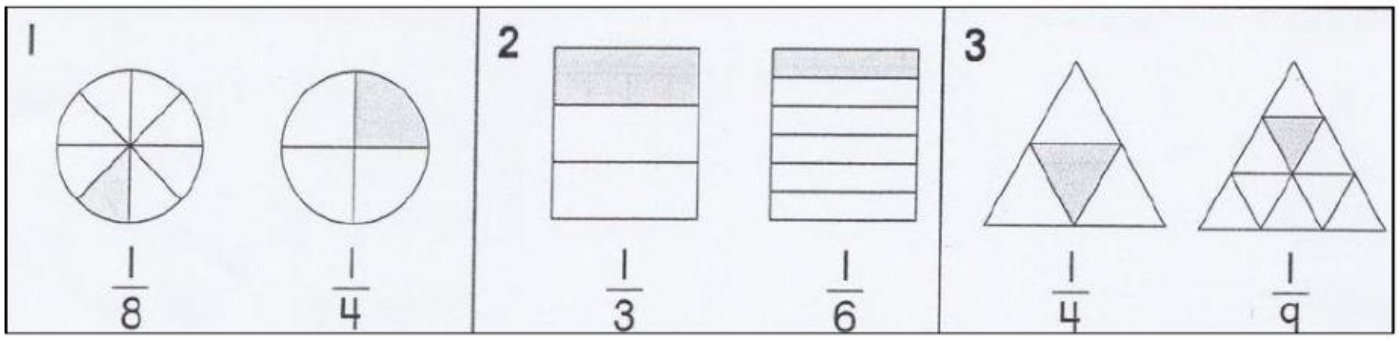

LIVEWORKSHEETS

10. Tulis **'betul'** pada pernyataan yang betul dan **'salah'** pada pernyataan yang salah.

$\frac{4}{8}$ lebih besar daripada $\frac{5}{8}$ ☐

$\frac{2}{5}$ lebih besar daripada $\frac{4}{5}$ ☐

$\frac{8}{9}$ lebih kecil daripada $\frac{7}{9}$ ☐

$\frac{1}{2}$ lebih banyak daripada $\frac{3}{4}$ ☐

$\frac{2}{6}$ kurang daripada $\frac{2}{4}$ ☐

11. Cari Hasil darab yang berikut.

6 x 4 =

121 x 5 =

315 x 3 =

35 x 4 =

251 x 5 =

88 x 6 =

415 x 6 =

281 x 5 =

190 x 3 =

115 x 2 =

255 x 4 =

50 x 6 =

12. Tukar perpuluhan kepada pecahan.

0.2 =

0.8 =

0.5 =

0.9 =

1.0 =

0.6 =

0.7 =

0.3 =

LIVEWORKSHEETS

13. Tukar pecahan kepada perpuluhan dalam perkataan.

Lima persepuluh =

Lapan persepuluh =

Satu persepuluh =

Tiga persepuluh =

Dua persepuluh =

14. Pilih perpuluhan yang lebih besar.

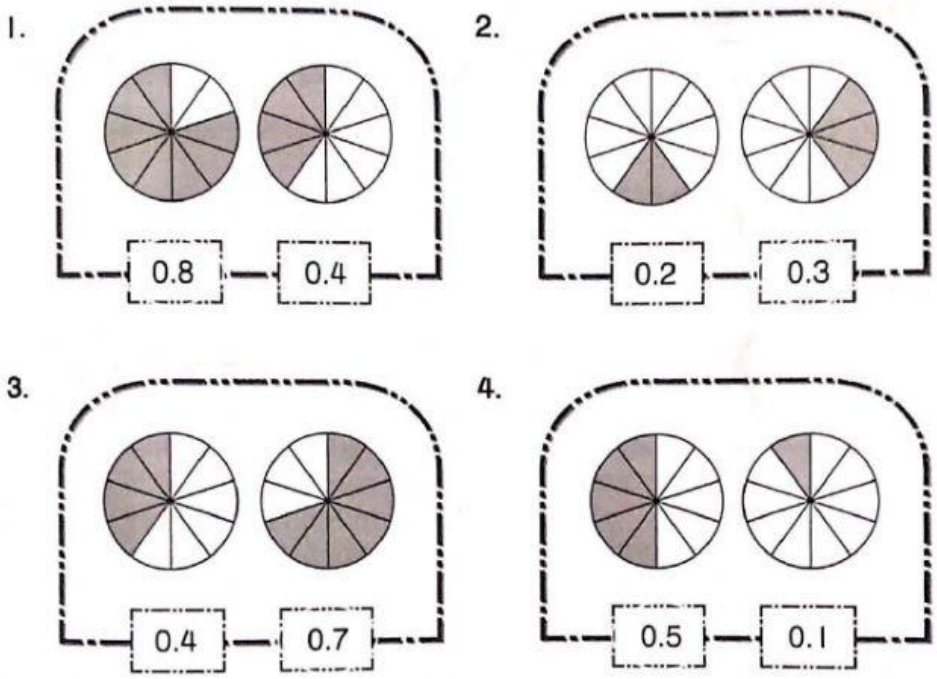

15. Tulis "lebih besar daripada" atau "lebih kecil daripada"`

LIVEWORKSHEETS

16. Lengkapkan garis nombor.

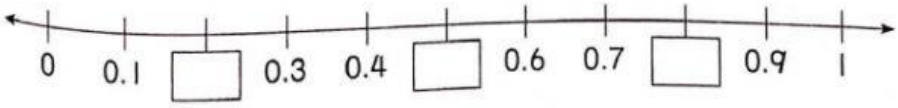

17. Letakkan di tempat yang betul.

Sifar perpuluhan sembilan	**0.1**
0.5	Sifar perpuluhan tujuh
Sifar perpuluhan tiga	

$\frac{1}{10}$	
$\frac{5}{10}$	
0.9	
0.7	
0.3	

LIVEWORKSHEETS

18. Tulis perpuluhan yang berikut dalam perkataan.

0.3 =

0.6 =

0.9 =

0.8 =

1.3 =

2.5 =

0.7 =

19. Selesaikan.

83 – 34 + 29 = ___

58 + 25 – 43 = ___

985 – 450 + 130 = ___

495 + 109 – 276 = ___

369 + 468 – 531 = ____

852 – 471 + 258 = ____

8743 – 4682 + 1357 = ____

7236 + 1973 – 4179 = ____

- Kertas Soalan Tamat -

LIVEWORKSHEETS