ชื่อ-สกุล.....ชั้น.....เลขที่.....

แบบฝึกหัดที่ 2
เรื่อง โจทย์ปัญหาการบวก

ตอนที่ 1 โยงเส้นจับคู่โจทย์กับคำตอบให้ถูกต้อง

ปีที่แล้วมีเกษตรกรดีเด่น 1,400 คน ปีนี้มีเกษตรกรดีเด่นเพิ่มขึ้นกว่าปีที่แล้ว 763 คน ปีนี้มีเกษตรกรดีเด่นกี่คน

๑,๖๕๙

น้องออมเงินได้ ๑,๑๘๕ บาท ซึ่งน้อยกว่าพี่ 474 บาท พี่ออมเงินได้กี่บาท

59,000

พรีมสะสมเปลือกหอยได้ ๙๑,๐๕๕ อัน ซึ่งสะสมได้น้อยกว่าของพีทอยู่ 8,270 อัน พีทสะสมเปลือกหอยได้กี่อัน

2,163

โรงงานแห่งหนึ่งผลิตวิตามินซีได้ครั้งละ 47,000 เม็ด ผลิตวิตามินเอได้มากกว่าวิตามินซีครั้งละ 12,000 เม็ด โรงงานแห่งนี้ผลิตวิตามินเอได้กี่เม็ด

๙๙,๓๒๕

โรงงานแห่งหนึ่งจ่ายค่าไฟฟ้า 452,000 บาท จ่ายค่าน้ำประปามากกว่าค่าไฟฟ้า 80,037 บาท โรงงานแห่งนี้จ่ายค่าน้ำประปาทั้งหมดเท่าไร

532,037

LIVEWORKSHEETS

ตอนที่ 2 ลากสัดส่วนบาร์โมเดลใส่ใน ☐ พร้อมเลือกคำตอบใน ☐ ให้ถูกต้อง

เครื่องเสียงราคา 12,000 บาท ซึ่งถูกกว่าราคาของคอมพิวเตอร์ 6,500 บาท คอมพิวเตอร์ราคาเท่าไร

ขั้นที่ 1 ทำความเข้าใจปัญหา

โจทย์ถาม : คอมพิวเตอร์ราคาเท่าไร

โจทย์บอก : เครื่องเสียงราคา ☐ บาท

ถูกกว่าราคาของคอมพิวเตอร์ ☐ บาท

ขั้นที่ 2 วางแผนแก้ปัญหาโดยใช้รูปบาร์โมเดล

12,000	12,000	6,500

ขั้นที่ 3 แสดงวิธีทำ

วิธีทำ

☐

\+ 6,500

☐

ขั้นที่ 4 ตรวจคำตอบ

☐

\- 6,500

☐

<u>ตอบ</u> ☐ บาท

LIVEWORKSHEETS

ตอนที่ 3 ลากสัดส่วนบาร์โมเดลเติมลงใน ☐ พร้อมเติมคำตอบให้สมบูรณ์

1. บริษัทปลากระป๋องตราสามแม่ครัวผลิตปลากระป๋องเดือนแรกได้ 36,540 กระป๋อง เดือนที่สองผลิตได้มากกว่าเดือนแรก 12,850 กระป๋อง เดือนที่สองบริษัทปลากระป๋องตราสามแม่ครัวผลิตปลากระป๋องได้เท่าไร

วางแผนแก้ปัญหาโดยใช้รูปบาร์โมเดล



ประโยคสัญลักษณ์ 36,540 ◯ ☐ = ☐

ตอบ ☐ กระป๋อง

2. รถจักรยานยนต์ราคาถูกกว่ารถยนต์ 575,400 บาท รถจักรยานยนต์ราคา 73,800 บาท รถยนต์ราคาเท่าไร

ตอบ ☐ บาท

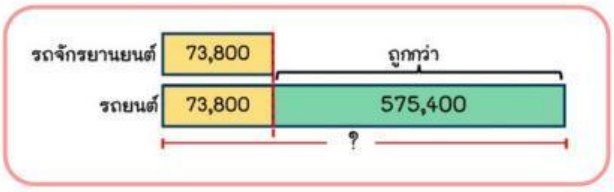

3. โรงงานเครื่องปั้นดินเผาผลิตแก้วได้ปีละ 1,348,900 ใบ ผลิตชามมากกว่าแก้วปีละ 150,841 ใบ โรงงานแห่งนี้ผลิตชามได้ปีละกี่ใบ

ตอบ ☐ ใบ

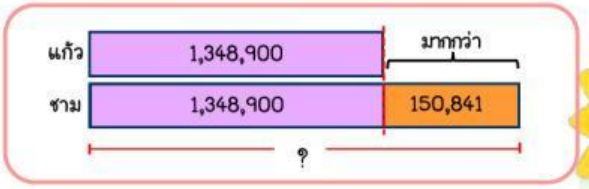

LIVEWORKSHEETS