INSTITUCIÓN EDUCATIVA N°40525
SAN SANTIAGO
PUYCA – LA UNIÓN - AREQUIPA

## FICHA INTERACTIVA MATEMÁTICA– 2°

# Resolvemos problemas juntando

**1. Lee el siguiente problema.**

El señor Draco vende en la feria regalos para eventos especiales.

| | Peluches | Ramo de rosas |
|---|---|---|
| Día lunes | 21 | 19 |
| Día martes | 15 | 17 |

¿Cuántos regalos vendió Draco el día martes?

**2. Comprende el problema.**

a) ¿De quién nos habla el problema?

b) ¿Qué vende en la feria el señor Draco?

c) ¿Cuántos peluches vendió Draco el martes? Pinta

15 21 19

d) ¿Cuántos ramos de rosas vendió Draco el martes? Pinta

19 15 17

PIP Nancy Ale Zambrano

Prof. Yuber Cárdenas Bustamante

LIVEWORKSHEETS

e) ¿Qué te pide averiguar el problema? Encierra tu respuesta.

f) ¿Qué material te ayudará a resolver el problema?

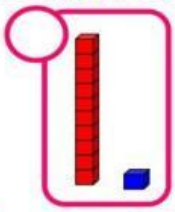

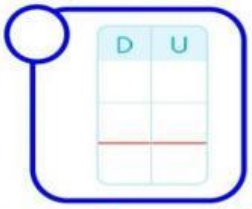


g) ¿Qué acción vas a realizar para resolver el problema?

Juntar Separar

3. Aplica tu estrategia y resuelve el problema de formas distintas.

Resuelve con material base diez.

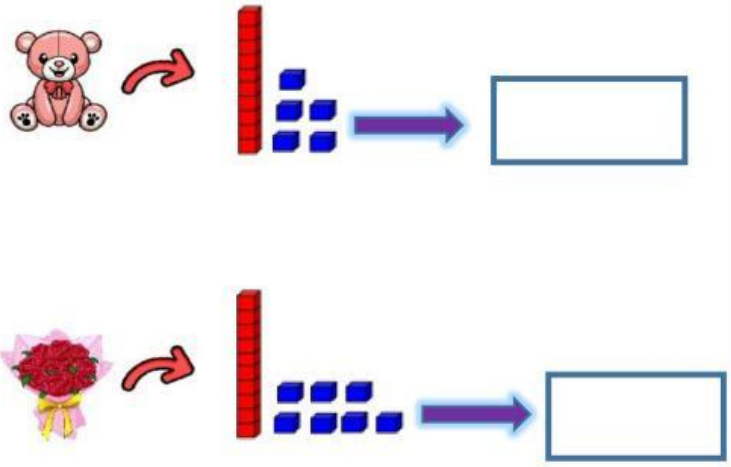

Resuelve usando TVP

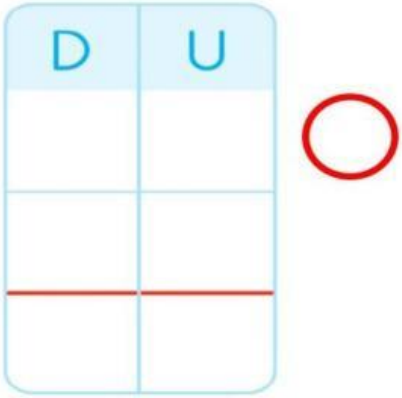


4. Damos respuesta al problema: ¿Cuántos regalos vendió Draco el día martes?



LIVEWORKSHEETS

INSTITUCIÓN EDUCATIVA N°40525
SAN SANTIAGO
PUYCA – LA UNIÓN - AREQUIPA

# Seguimos aprendiendo

1. Observa la tabla y responde. ¿Cuántos peluches vendió en total el señor Draco?

| | Peluches | Ramos de rosas |
|---|---|---|
| Día lunes | 21 | 19 |
| Día martes | 15 | 17 |

¿Qué acción realizarás para saber el total?

Juntar  Separar

-Resuelve de distintas formas:

Resuelve con material base diez.

Peluches que vendió el lunes.

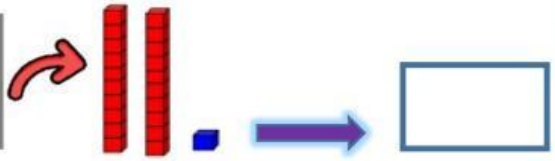

Peluches que vendió el martes.

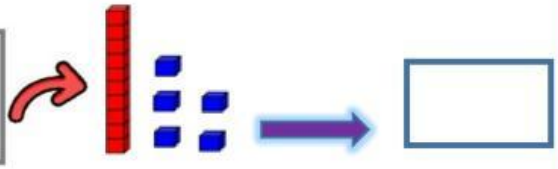

Resuelve usando TVP

| D | U |
|---|---|
| | |
| | |
| | |

Respuesta:

¿Cuántos peluches vendió en total el señor Draco?

PIP Nancy Ale Zambrano  Prof. Yuber Cárdenas Bustamante

LIVEWORKSHEETS

**2.** Lee la tabla y responde. ¿Cuántos libros de matemática tiene en total el salón del 2° "C"?

| | Libros del salón 2° "C" | |
|---|---|---|
| | Libros de matemática | Libros de comunicación |
| Nuevos | 16 | 24 |
| Usados | 15 | 18 |

¿Qué acción realizarás para saber el total?

Juntar Separar

-Resuelve de distintas formas:

Resuelve con material base diez.

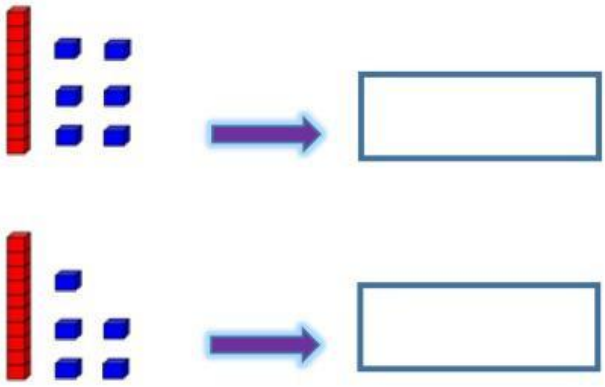

Resuelve usando TVP

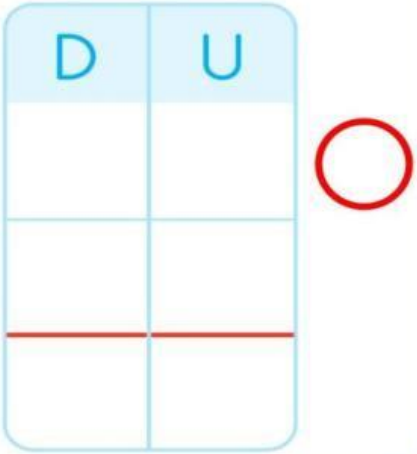


Respuesta:

¿Cuántos libros de matemática tiene en total el salón del 2° "C"?


LIVEWORKSHEETS

## 3.¿Cuántos libros nuevos tiene en total el salón del 2° "C"?

| | Libros del salón 2° "C" | |
|---|---|---|
| | Libros de matemática | Libros de comunicación |
| Nuevos | 16 | 24 |
| Usados | 15 | 18 |

¿Qué acción realizarás para saber el total?

Juntar  Separar

-Resuelve de distintas formas:

Resuelve con material base diez.

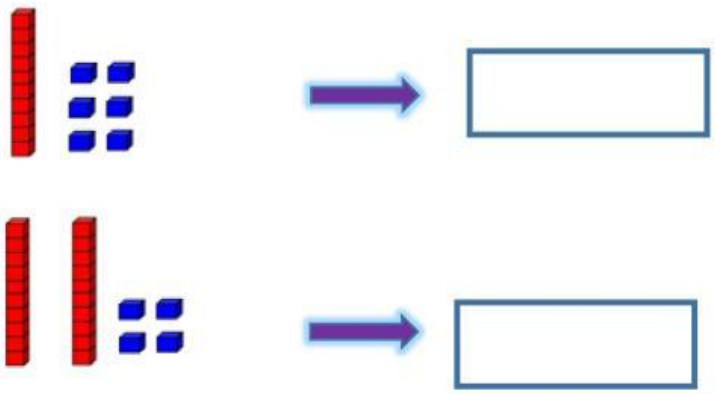

Resuelve usando TVP

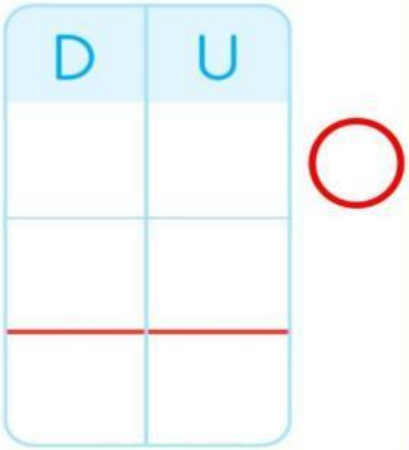


Respuesta:

¿Cuántos libros nuevos tiene en total el salón del 2° "C"?



LIVEWORKSHEETS