# LKPD

## BANGUN DATAR

Perhatikan  Video berikut ini

Perhatikan materi presentasi berikut ini

LIVEWORKSHEETS

# LKPD

## BANGUN DATAR

1. **TEKSFIELD**

**Bangun datar segi empat yang keempat sisinya sama Panjang dan keempat sudutnya siku-siku atau 90 adalah….**

2. SINGLE CHOISE

Berikut ini yang bukan merupakan bangun datar Adalah……..

3. CHECKBOXES

Pertanyaan yang benar Adalah……

☐ Persegi memilih 4 sisi ☐ lingkaran memiliki 6 sisi ☐ Segitiga memiliki 3 sisi

4. SELECT

☐ Persegi ☐ Segitiga
☐ Persegi Panjang ☐ Lingkaran

Nama bangun datar dibawah ini Adalah…..

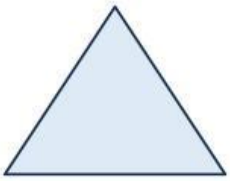

LIVEWORKSHEETS

# LKPD

## BANGUN DATAR

5. **WORD SEARCH**

Temukan 3 kata pada bentuk dibawah ini

| | | | | |
|---|---|---|---|---|
| S | S | I | S | I |
| M | U | L | I | N |
| O | S | D | K | T |
| O | K | C | U | K |
| U | G | K | M | T |

6. **SPEAK**

Sebutkan nama bangun datar berikut dengan benar!

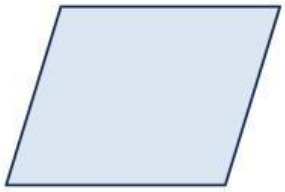

7. **LISTENING**

Dengarkan suara berikut dan Tuliskan jawaban dengan tepat!

LIVEWORKSHEETS

# LKPD

## BANGUN DATAR

8 **DRAG & DROP**

Tentukan rumus yang sesuai dengan gambar

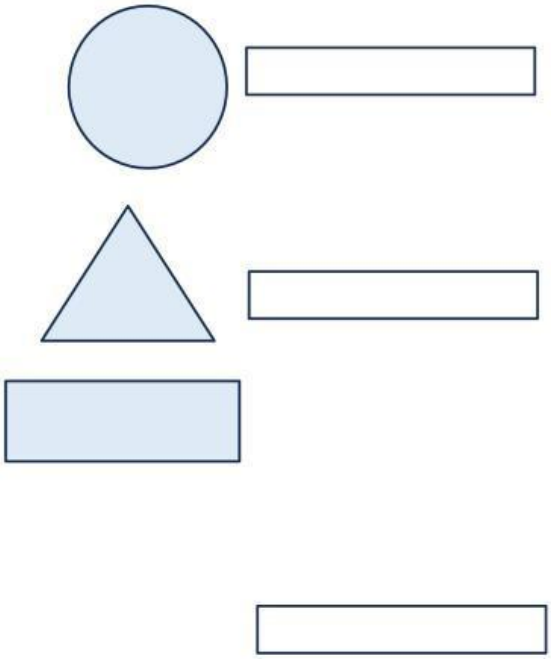

$l = \frac{1}{2}\ xalas\ x\ tinggi$

$L = \pi\ x\ r\ x\ r$

LIVEWORKSHEETS

# LKPD

## BANGUN DATAR

9. JOIN

Buatlah garis kejawaban yang benar

Persegi Panjang

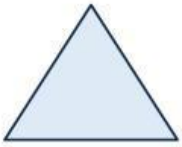

Lingkaran

Segitiga

LIVEWORKSHEETS

# LKPD

## BANGUN DATAR

LIVEWORKSHEETS