ใบงาน 05 เรื่อง น้อยหน่าอยากกินขนม
หน่วยการเรียนรู้ที่ 1 เรื่อง การแก้ปัญหา
แผนการจัดการเรียนรู้ที่ 5 เรื่อง การตรวจสอบเงื่อนไข
รายวิชาวิทยาศาสตร์และเทคโนโลยี เทคโนโลยี รหัสวิชา ว16101 ภาคเรียนที่ 1 ชั้น

คำชี้แจง จากตารางดานลาง นอยหนาอยูที่ชอง 7B ใหนอยหนาเดินตามผังงานที่กำหนดให้



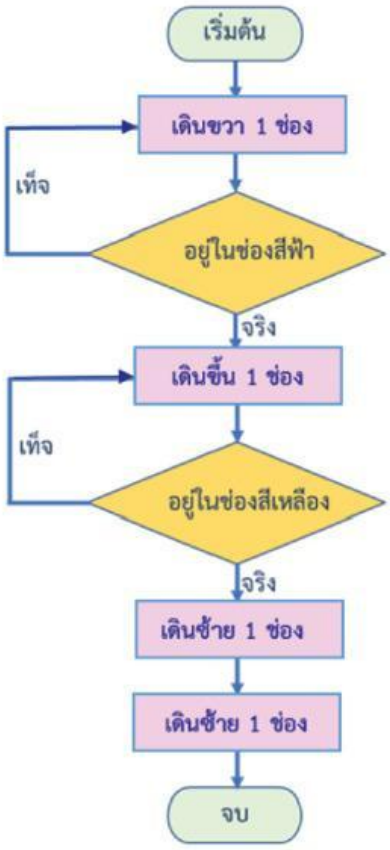

1. สิ่งที่นอยหนาไดกินคือ .....

2. ถานอยหนาอยากกินเคก (2E) จะตองปรับผังงานการเดินทางอยางไร

.....

.....

.....

.....

LIVEWORKSHEETS

3. เขียนผังงานเพื่อให้น้อยหน่าได้กินไอศกรีม (2A) จากตารางต่อไปนี้

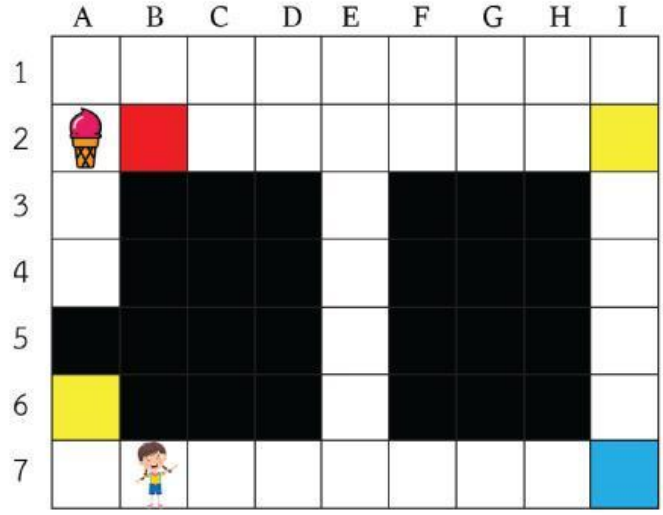

(น้อยหน่าไม่สามารถเดินผ่านช่องสีดำได้)

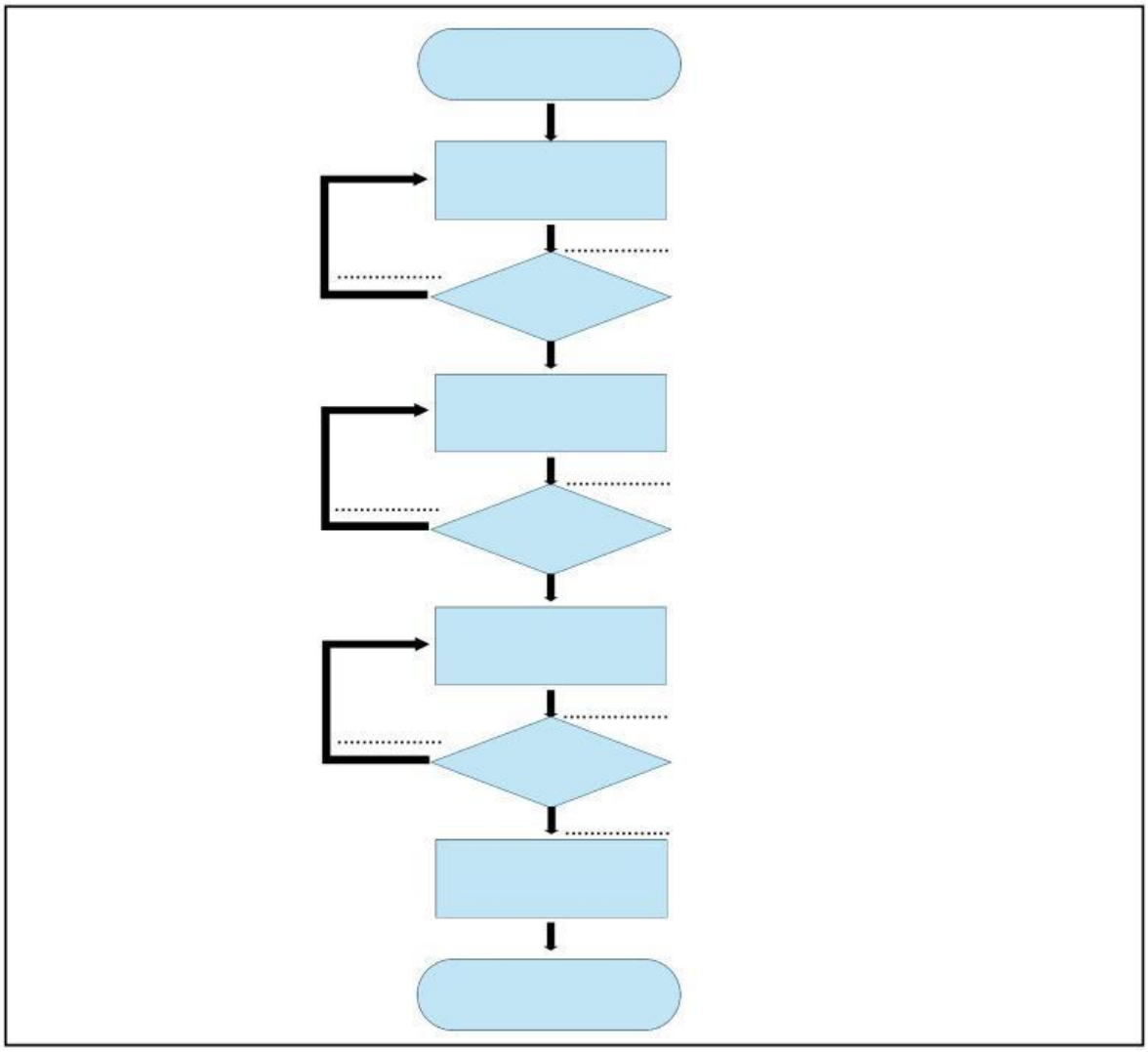

LIVEWORKSHEETS