Hari Ke-1

Kelas 1

Nama: .....

Waktu : 10 Menit

Ayo Mengelompokkannya!

Di kamar Adi, ada banyak mainan yang berserakan di lantai. Adi ingin merapikannya ke dalam kotak mainan. Mari kita bantu Adi menghitung mainannya sebelum dimasukkan!

LIVEWORKSHEETS

Kelas 1

Nama: .....

1. Ada berapa mainan mobil-mobilan yang ada di kamar Adi?
2. Ada berapa buah bola yang ada di dekat tempat tidur?

Nama Benda	Gambar Benda	Banyaknya
Mobil-mobilan	.....	.....
Bola	.....	.....

LIVEWORKSHEETS

Hari Ke-2

Kelas 1

Nama: .....

Waktu : 10 Menit

Ayo Mencari!

Mari kita bantu Ibu menata meja makan! Ibu meletakkan sendok dan garpu di atas meja.

Di sebelah kiri ada 4 sendok :

Di sebelah kanan ada 3 garpu :

Jika kita gabungkan semua alat makan tersebut, mari kita tuliskan dalam kalimat matematika menggunakan simbol + dan =

+ = ?

4 Sendok 3 Garpu

LIVEWORKSHEETS

Kelas 1

Nama: .....

1. Hitunglah seluruh alat makan setelah digabungkan! Tuliskan jawabannya pada kotak di bawah ini:

2. Sekarang, yuk berlatih menulis simbolnya!

LIVEWORKSHEETS

Hari Ke-3

Minggu Ke-3 Kelas 1

Nama: .....

Waktu : 10 Menit

Ayo Berhitung dengan Gambar!



Di kebun belakang rumah ada banyak pohon buah-buahan termasuk pohon apel dan pohon jeruk. Siti memetik 6 apel dan Kakaknya memetik 4 apel. Berapa banyak buah yang dipetik keduanya?

LIVEWORKSHEETS

Kelas 1

Nama: .....

1. Hitunglah buah apel yang dipetik Siti dan Kakak dari kebun belakang rumah!

Siti

Kakaknya

LIVEWORKSHEETS

Hari Ke-4

Kelas 1

Nama: .....

Waktu : 10 Menit

Ayo Menghitung!

Lani memiliki 4 buku cerita di lemari. Hari ini, Ayah membelikan Lani 2 buku cerita baru sebagai hadiah karena Lani rajin membersihkan rumah. Berapa jumlah buku cerita Lani sekarang?



.....

LIVEWORKSHEETS

Kelas 1

Nama: .....



Di halaman rumah, ada 5 ekor burung sedang memakan umpan. Tidak lama kemudian, datang lagi 4 ekor burung ikut bergabung. Ada berapa ekor burung yang ada di halaman rumah sekarang?

.....

LIVEWORKSHEETS

Hari Ke-5

Kelas 1

Nama: .....

Waktu : 10 Menit

Aku Bisa Berlatih Mandiri!

Sore hari, Beni merapikan meja belajarnya yang berantakan. Beni menemukan 5 buah pensil warna di atas meja. Kemudian, saat membersihkan kolong meja, Beni menemukan 4 buah pensil warna lagi yang terjatuh. Beni mengumpulkan semua pensil warna itu kembali ke dalam kotaknya.

LIVEWORKSHEETS

Kelas 1

Nama: .....

Bantu Beni menghitung total pensil warna yang berhasil dikumpulkannya!

1. Berapa banyak pensil warna yang ditemukan Beni di atas meja?

2. Berapa banyak pensil warna yang ditemukan Beni di kolong meja?

3. Tuliskan kalimat matematika penjumlahan seluruh pensil warna Beni!

Jadi, jumlah seluruh pensil warna Beni sekarang adalah ..... buah

LIVEWORKSHEETS