POST TEST

MATEMATIKA

Materi : Lingkaran



NAMA : _____

KELAS : _____

LIVEWORKSHEETS

POST TEST
Materi : Lingkaran

KERJAKAN SOAL BERIKUT

1. Jika suatu garis hanya memiliki satu titik potong dengan lingkaran, maka garis tersebut disebut

A. Garis Potong
B. Garis Sejajar
C. Garis Singgung
D. Garis Berimpit

2. Perhatikan gambar berikut.

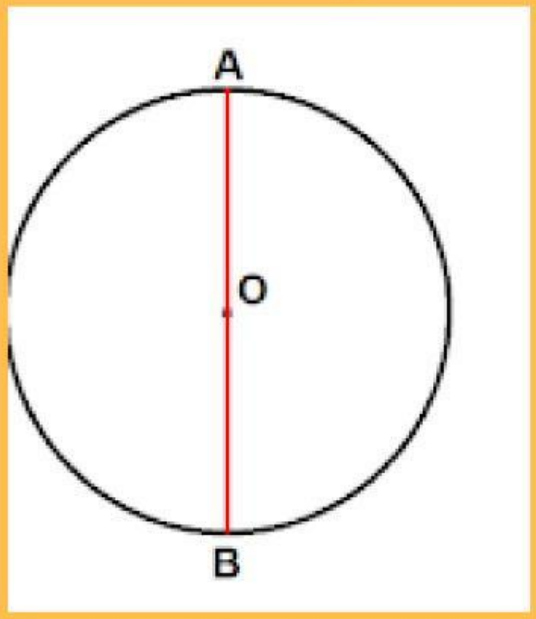

besar sudut AOB adalah

A. 360°
B. 200°
C. 90°
D. 180°

LIVEWORKSHEETS

3. Jika jari-jari lingkaran ditarik ke titik singgung, maka hubungan jari-jari dan *20 poin garis singgung adalah
   A. tegak lurus
   B. sejajar
   C. Membentuk sudut lancip
   D. Berimpit

4. Perhatikan gambar berikut

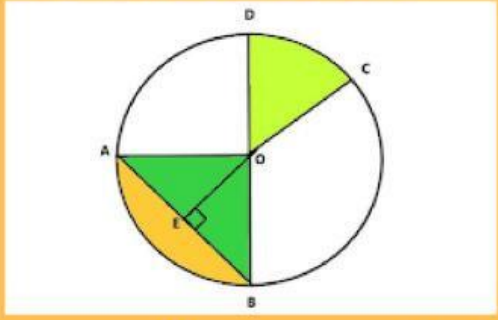

   Bagian yang diarsir warna kuning disebut
   A. Busur
   B. Tali busur
   C. Juring
   D. Tembereng

5. Perhatikan gambar berkut

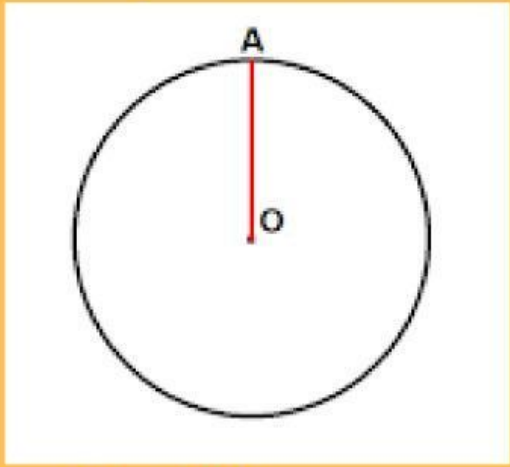

   Panjang OA adalah
   A. Busur
   B. Tali busur
   C. Juring
   D. Tembereng

LIVEWORKSHEETS