BANGUN RUANG

Nama : _____

Kelas : _____

Berilah tanda centang (✓) pada jawaban yang benar!

1. Manakah benda yang berbentuk kubus?

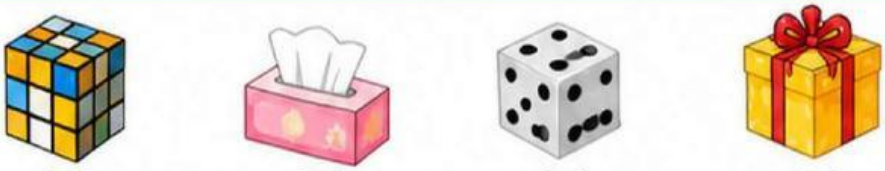

2. Manakah benda yang berbentuk balok?



3. Manakah benda yang berbentuk tabung?

4. Manakah benda yang berbentuk kerucut?

5. Manakah benda yang berbentuk bola?

LIVEWORKSHEETS

BANGUN RUANG

Nama : _____

Kelas : _____

A. Beri tanda centang (✓) pada gambar yang berbentuk kubus!

☐ ☐ ☐ ☐ ☐ ☐

B. Beri tanda centang (✓) pada gambar yang berbentuk balok!

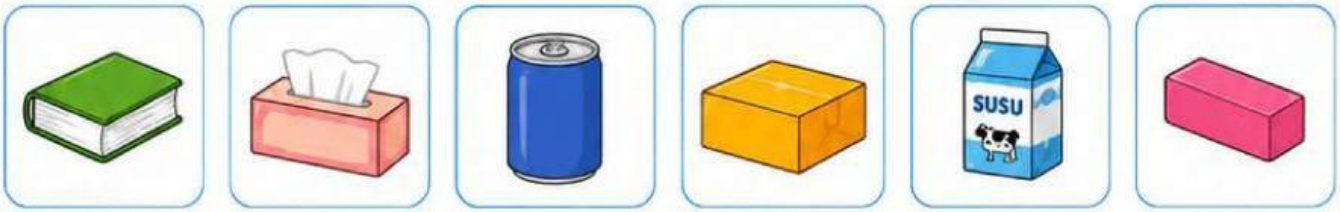

☐ ☐ ☐ ☐ ☐ ☐

C. Beri tanda centang (✓) pada gambar yang berbentuk tabung!

☐ ☐ ☐ ☐ ☐ ☐

LIVEWORKSHEETS

BANGUN RUANG

Nama : _____

Kelas : _____

Hubungkan gambar dengan nama yang sesuai!

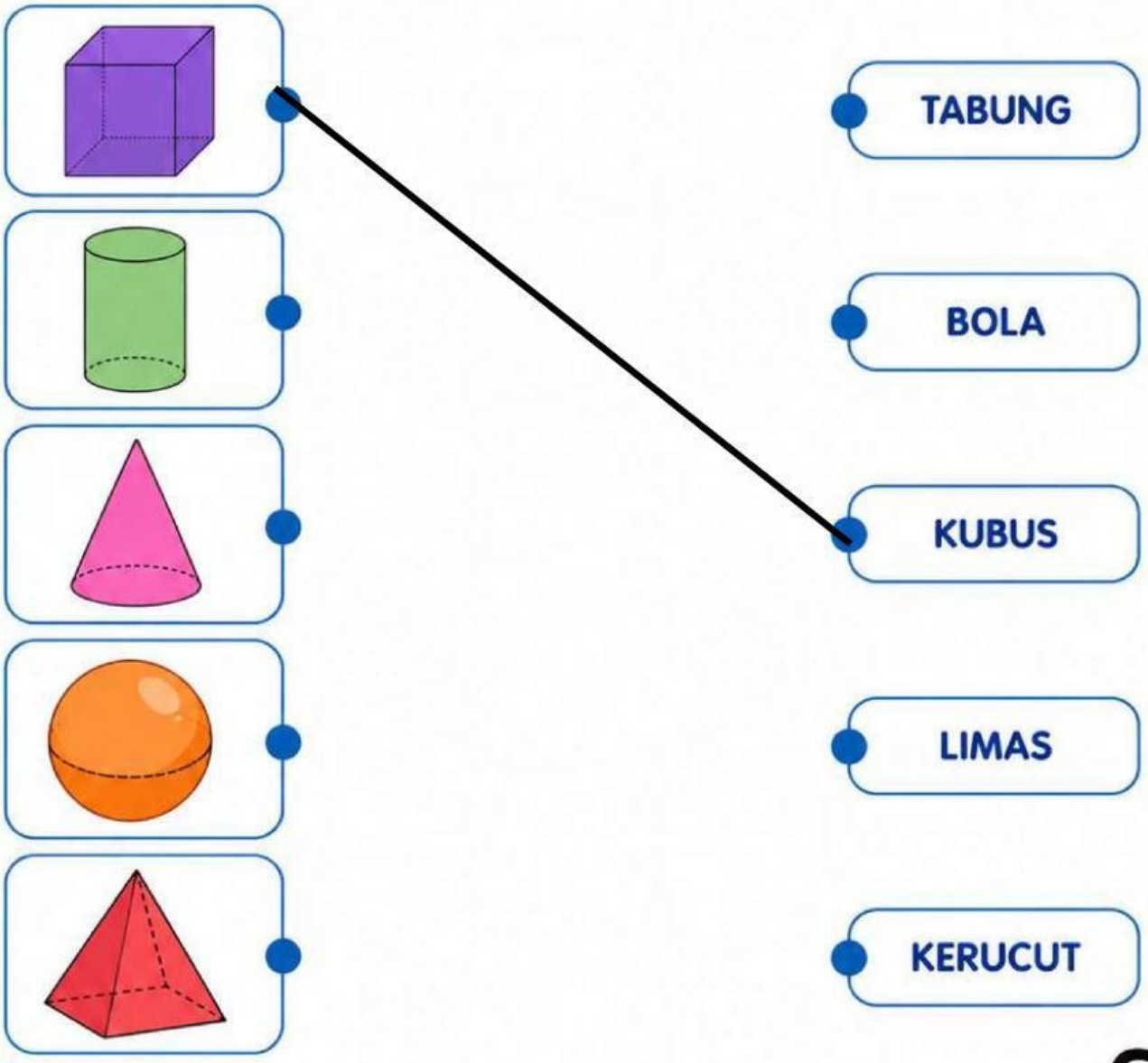

LIVEWORKSHEETS

BANGUN RUANG

Nama : _____

Kelas : _____

Pasangkan gambar benda konkrit dengan gambar bangun ruang di bawah ini!

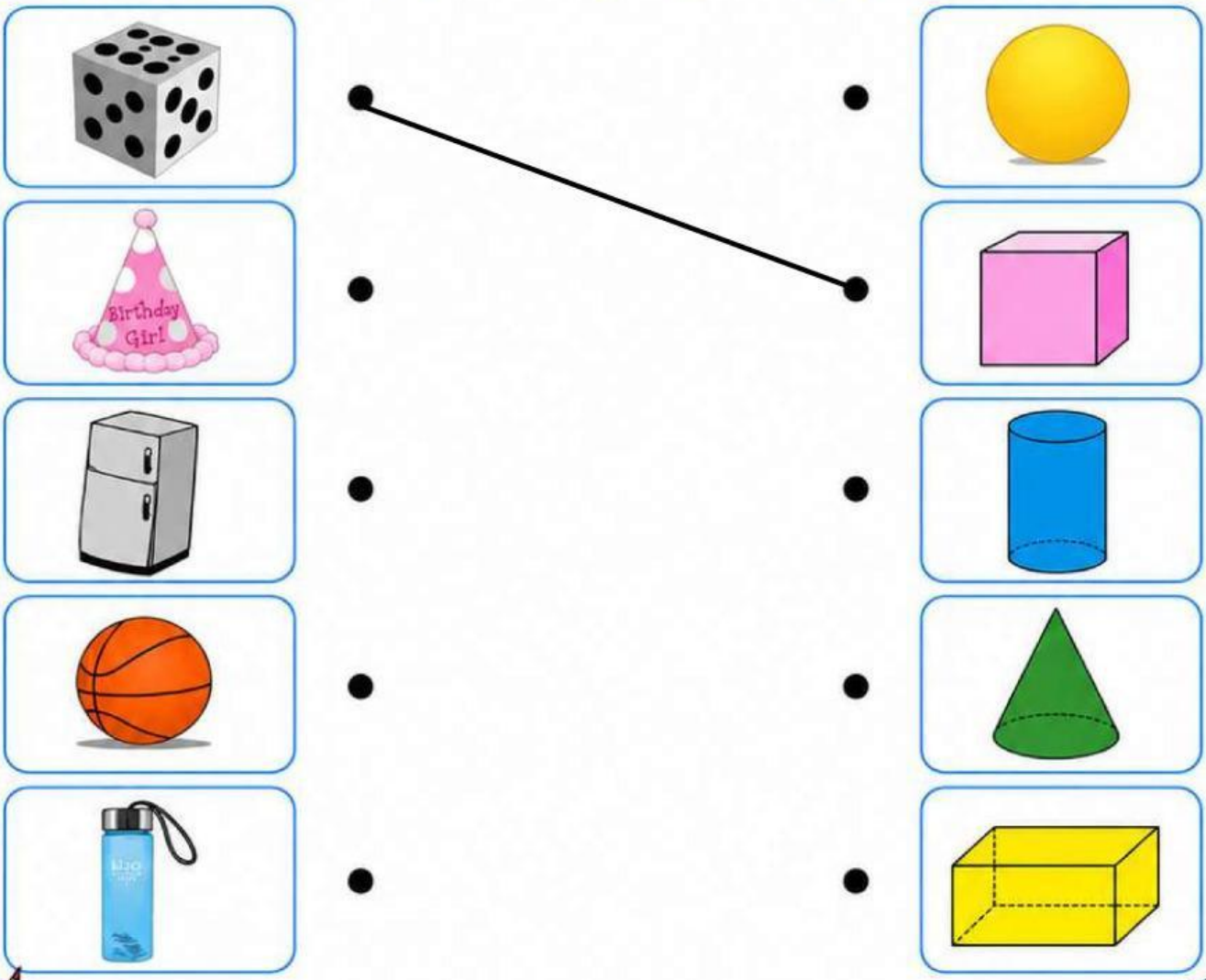

LIVEWORKSHEETS

BANGUN RUANG

Nama : _____

Kelas : _____

Pasangkan Bangun Ruang dengan Ciri-cirinya!

Tarik garis untuk memasangkan dengan benar!

1.

2.

3.

4.

5.

- Memiliki 2 sisi datar dan 1 sisi lengkung
- Memiliki rusuk lengkung tanpa rusuk

- Memiliki 6 sisi berbentuk persegi yang sama
- Memiliki 12 rusuk
- Memiliki 8 titik sudut

- Memiliki 1 sisi lengkung tanpa rusuk dan titik sudut

- Memiliki 1 sisi lengkung dan 1 sisi datar
- Memiliki 1 rusuk lengkung dan 1 titik puncak

- Memiliki 6 sisi, 12 rusuk, dan 8 titik sudut
- Sisi yang berhadapan berbentuk persegi panjang

LIVEWORKSHEETS

BANGUN RUANG

Nama : _____

Kelas : _____

Berapa banyak rusuk pada bangun ruang berikut?

1. 

2. 

24

3.

4.

5.

LIVEWORKSHEETS

BANGUN RUANG
ISI TITIK-TITIK

Nama : _____

Kelas : _____

Petunjuk: Isilah titik-titik pada kotak kosong dengan nama bangun ruang yang tepat sesuai dengan gambar yang diberikan!

1. → .....

2. → .....

3. → .....

4. → .....

5. → .....

6. 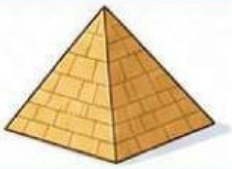 → .....

Kerjakan dengan teliti dan semangat!

LIVEWORKSHEETS

BANGUN RUANG

Nama : _____

Kelas : _____

Hitunglah banyak rusuk pada setiap bangun ruang berikut!

1. Kubus

Banyak rusuk = 12

2. Balok

Banyak rusuk = _____

3. Tabung

Banyak rusuk = _____

4. Prisma Segitiga

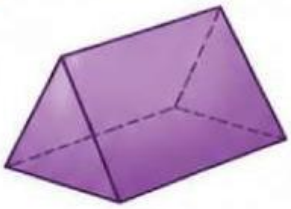

Banyak rusuk = _____

5. Limas Segitiga

Banyak rusuk = _____

6. Limas Segiempat

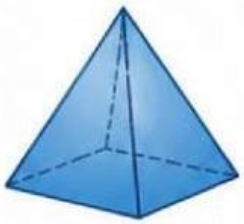

Banyak rusuk = _____

7. Prisma Segi Lima

Banyak rusuk = _____

8. Kerucut

Banyak rusuk = _____

9. Prisma Segi Enam

Banyak rusuk = _____

LIVEWORKSHEETS

BANGUN RUANG

Nama : _____

Kelas : _____

Jawablah pertanyaan berikut dengan menuliskan jawaban singkat pada garis yang tersedia!

1.

   Benda di samping berbentuk apa?

   Jawab : Kubus

2.

   Benda di samping berbentuk apa?

   Jawab : _____

3.

   Benda di samping berbentuk apa?

   Jawab : _____

4.

   Benda di samping berbentuk apa?

   Jawab : _____

5.

   Benda di samping berbentuk apa?

   Jawab : _____

6.

   Benda di samping lebih mirip bangun ruang apa?

   Jawab : _____

7.

   Benda di samping lebih mirip bangun ruang apa?

   Jawab : _____

8.

   Benda di samping lebih mirip bangun ruang apa?

   Jawab : _____

LIVEWORKSHEETS

TEKA-TEKI BANGUN RUANG

Nama : _____

Kelas : _____

Petunjuk:

1. Temukan nama bangun ruang yang tersembunyi dalam kotak huruf.
2. Kata dapat ditulis mendatar (→), menurun (↓), atau diagonal (↘).
3. Lingkari atau beri tanda pada kata yang kamu temukan.

K	U	B	U	S	A	B	C	D	E
X	Y	Z	A	B	A	L	O	K	F
P	Q	R	S	T	U	V	W	X	Y
P	R	I	S	M	A	B	C	D	Z
A	B	C	D	E	F	G	H	I	J
T	A	B	U	N	G	K	L	M	N
O	P	Q	R	S	T	U	V	W	X
L	I	M	A	S	B	C	D	E	F
A	B	C	D	U	F	G	K	I	J
K	L	M	N	O	P	Q	R	S	T

Daftar Kata yang Dicari

- KUBUS .....
- BALOK .....
- PRISMA .....
- TABUNG .....
- LIMAS .....

Tahukah Kamu?

Bangun ruang adalah benda tiga dimensi yang memiliki panjang, lebar, dan tinggi.

Tuliskan di sini:

1. _____
2. _____

LIVEWORKSHEETS