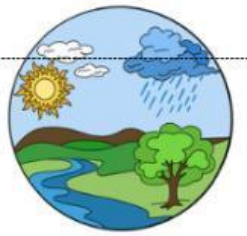

دورة المـــــــاء

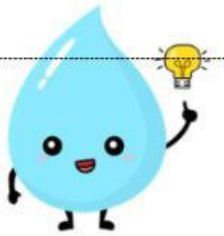

١	هي غيوم تتشكل بالقرب من سطح الأرض			
	الغيمة	المطر	الضباب	البرد
٢	تجمع من قطرات الماء أو بلورات ثلج في الجو وتكون على ارتفاعات مختلفة			
	الغيمة	المطر	الضباب	البرد
٣	التحول من الحالة السائلة الى الحالة الغازية			
	التبخر	التكثف	التجمد	الهطول
٤	التحول من الحالة الغازية الى الحالة السائلة			
	التبخر	التكثف	التجمد	الهطول
٥	حركة الماء المستمرة بين سطح الأرض والغلاف الجوي:			
	التبخر	دورة الاكسجين	دورة الكربون	دورة الماء
٦	ماذا نسمي الماء عندما يكون على شكل غاز في الغلاف الجوي			
	بردًا	ماء متكثفًا	بخار ماء	ثلجًا
٧	أي مما يلي يعد من أشكال الهطول			
	برد	ثلج	مطر	جميع ما سبق
٨	ما نوع الهطول المتكون عندما تكون درجة حرارة الهواء أعلى من درجة التجمد (اكثر من صفر)			
	برد	ثلج	مطر	ماء متكثف
٩	ما نوع الهطول المتكون عندما تكون درجة حرارة الهواء أقل من درجة التجمد (أقل من صفر)			
	برد	ثلج	مطر	ماء متكثف
١٠	ما نوع الهطول المصاحب للعواصف الرعدية			
	برد	ثلج	مطر	ماء متكثف

اكتبي البيانات على الرسم لتوضح العمليات التي تحدث في دورة الماء:

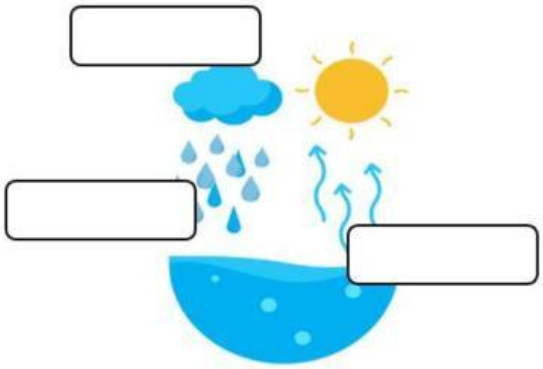

معلمتك : امل فقيري

LIVEWORKSHEETS