LOS CUERPOS GEOMÉTRICOS

1. Selecciona los poliedros.



2. Clasifica estos prismas y pirámides según sus bases.

Prismas triangular

Prisma cuadrangular

Prisma pentagonal

Pirámide Hexagonal

Pirámide cuadrangular

LIVEWORKSHEETS

3. Pon el nombre a estos cuerpos geométricos y a cada una de sus partes.

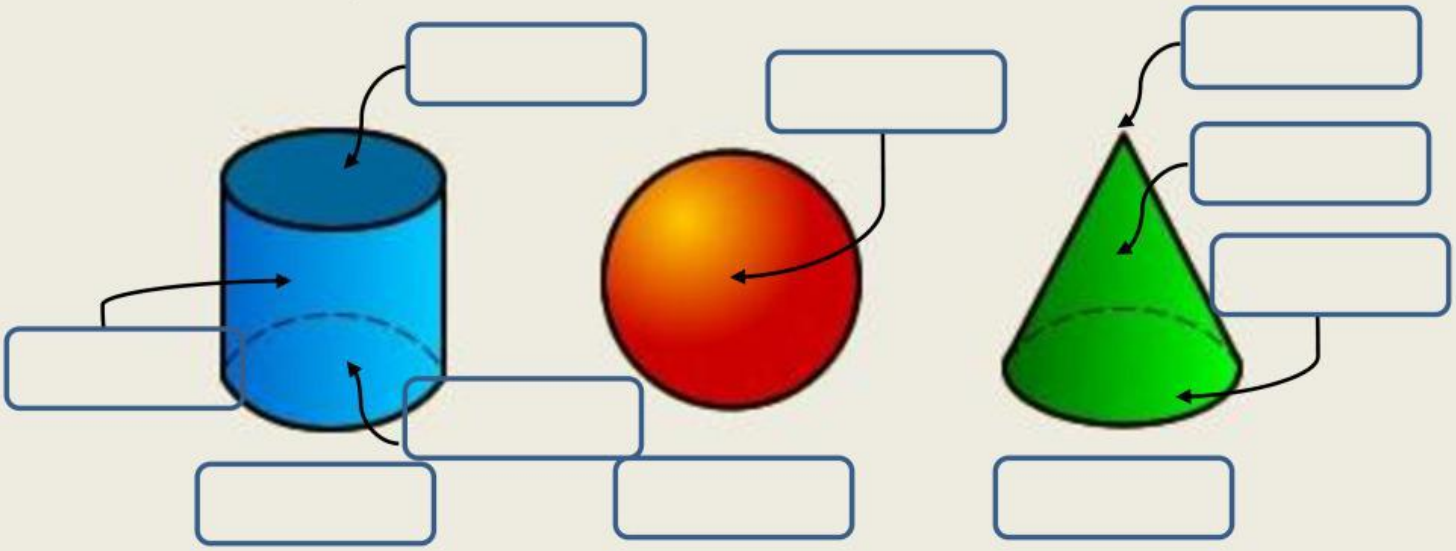

4. Elige las oraciones que son verdaderas.

- ☐ Un cilindro es un prisma cuadrangular.
- ☐ Un pirámide cuadrangular tiene 4 caras, 5 vértices y 8 aristas.
- ☐ Una esfera es un cuerpo redondo.
- ☐ Una pirámide pentagonal tiene 6 vértices.
- ☐ Un prisma triangular tiene 8 vértices.
- ☐ En una pirámide todas las caras laterales son triangulares.
- ☐ Un prisma hexagonal todas las caras laterales son triangulares.

5. Elige el cuerpo geométrico de la definición.

Es un cuerpo redondo que tiene dos bases.

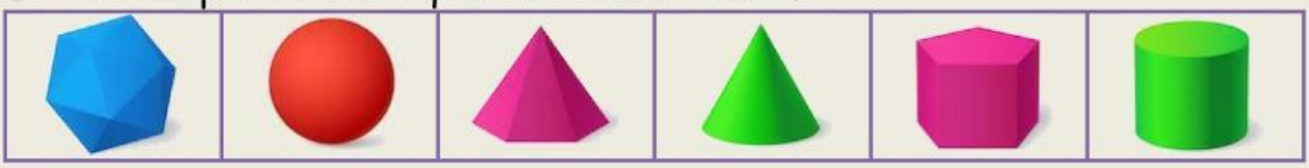

Es un prisma pentagonal

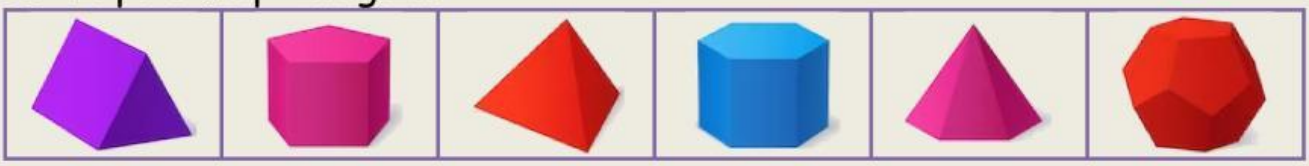

LIVEWORKSHEETS