Lembar Kerja Peserta Didik

LKPD

Simetri Dan Sudut Pada Bangun Datar

Nama :

Kelas :

LIVEWORKSHEETS

HITUNG SIMETRI LIPAT

Bacalah soal dengan cermat, lalu tuliskan jumlah simetri lipat dari masing-masing bangun datar berikut!

Nama bangun datar: _____

Jumlah simetri: _____

Nama bangun datar: _____

Jumlah simetri: _____



Nama bangun datar: _____

Jumlah simetri: _____

Nama bangun datar: _____

Jumlah simetri: _____

Nama bangun datar: _____

Jumlah simetri: _____

Nama bangun datar: _____

Jumlah simetri: _____

LIVEWORKSHEETS

MENGIDENTIFIKASI SUDUT

PETUNJUK : Hubungkan sudut dengan kategori yang tepat:

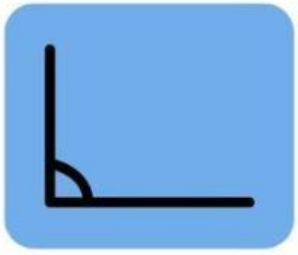

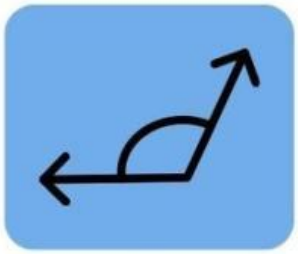

- SUDUT LANCIP
- SUDUT SIKU
- SUDUT TUMPUL

LIVEWORKSHEETS