LEMBAR KERJA DIGITAL

PELUANG

LOGIN

Nama

Kelas

Ok

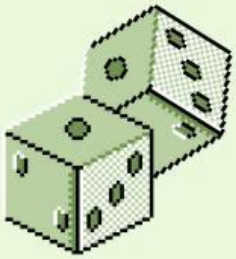

Dalam percobaan pelemparan dua buah dadu bersisi enam, tentukan peluang munculnya kejadian-kejadian berikut ini! Seret dan tempatkan tombol berikut untuk menjawab.

1 4 6 9 10 11

Peluang mata dadu yang muncul berjumlah 5

$\frac{\square}{36}$

Peluang keduanya memiliki mata dadu sama

$\frac{\square}{36}$

Peluang keduanya adalah mata dadu ganjil

$\frac{\square}{36}$

Peluang setidaknya salah satu mata dadu adalah 1

$\frac{\square}{36}$

Peluang keduanya adalah mata dadu 6

$\frac{\square}{36}$

Peluang mata dadu yang muncul jika dijumlahkan lebih dari 8

$\frac{\square}{36}$

LIVEWORKSHEETS

LEMBAR KERJA DIGITAL

PELUANG

Kunci Jawaban

LOGIN

Nama

Kelas

Ok

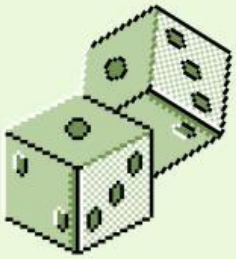

Dalam percobaan pelemparan dua buah dadu bersisi enam, tentukan peluang munculnya kejadian-kejadian berikut ini! Seret dan tempatkan tombol berikut untuk menjawab.

1 4 6 9 10 11

Peluang mata dadu yang muncul berjumlah 5

$\frac{4}{36}$

Peluang keduanya memiliki mata dadu sama

$\frac{6}{36}$

Peluang keduanya adalah mata dadu ganjil

$\frac{9}{36}$

Peluang setidaknya salah satu mata dadu adalah 1

$\frac{11}{36}$

Peluang keduanya adalah mata dadu 6

$\frac{1}{36}$

Peluang mata dadu yang muncul jika dijumlahkan lebih dari 8

$\frac{10}{36}$

LIVEWORKSHEETS

Nama: Kelas:

Versi Cetak



PELUANG

Dalam percobaan pelemparan dua buah dadu bersisi enam, tentukan peluang munculnya kejadian-kejadian berikut ini! Pilih jawabanmu dari pilihan yang disediakan.

1 | 4 | 6 | 9 | 10 | 11

Peluang mata dadu yang muncul berjumlah 5

$\frac{\square}{36}$

Peluang keduanya memiliki mata dadu sama

$\frac{\square}{36}$

Peluang keduanya adalah mata dadu ganjil

$\frac{\square}{36}$

Peluang setidaknya salah satu mata dadu adalah 1

$\frac{\square}{36}$

Peluang keduanya adalah mata dadu 6

$\frac{\square}{36}$

Peluang mata dadu yang muncul jika dijumlahkan lebih dari 8

$\frac{\square}{36}$

LIVEWORKSHEETS