LKPD

BANGUN DATAR

Perhatikan video berikut ini :

Perhatikan materi presentasi berikut ini :

LIVEWORKSHEETS

LKPD

BANGUN DATAR

1 TEKSFIELD

Bangum datar segi empat yang keempat sisinya sama Panjang dan keempat sudutnya siku-siku atau 90° adalah....

2 SINGELCHOICE

Berikut ini yang bukan merupakan bangun datar adalah....

3 CHECKBOXES

Pernyataan yang benar adalah...

- [ ] Persegi memiliki 4 sisi
- [ ] Lingkaran memiliki 6
- [ ] sisi Segitiga memiliki 3 sisi

4 SELECT

Nama bangun datar dibawah ini adalah...



- [ ] persegi
- [ ] segitiga
- [ ] persegi panjang
- [ ] lingkaran

LIVEWORKSHEETS

LKPD

BANGUN DATAR

5 WORD SEAERCH

Temukan tiga kata pada kotak di bawah ini:

S	S	I	S	I
M	U	L	I	N
O	S	D	K	T
D	K	C	U	K
U	G	X	M	T

6 SPEAK

Sebutkan nama bangun datar berikut dengan tepat:



7 LISTENING

Dengarkan suara berikut dan tuliskan dengan tepat:

8 DRAG & DROP

Tentukan Rumus yang sesuai dengan gambar:

LIVEWORKSHEETS

LKPD

BANGUN DATAR

JOIN

Buatlah garris ke jawaban yang benar!



LIVEWORKSHEETS