Gamtos testas

1. Kaip vadinasi šios buveinės?

	

2 taškai

2. Nurodyk po 2 pievos ir miško gyventojus.

PIEVA

_____

_____

MIŠKAS

_____

_____

2 taškai

3. Parašyk po du teiginius, kuo miškas ir pieva naudingi žmonėms ir gyvūnams.

_____

_____

_____

_____

4 taškai

4. Kodėl nevalia darkyti miško paklotės? Užbaik sakinį.

Miško paklotės nevalia rauti ar kitaip jai kenkti, nes _____

_____

1 taškas

5. Kuris iš šių gyvūnų yra žolėdis? Pažymėk.

		

Kodėl šis gyvūnas vadinamas žolėdžiu?

_____

2 taškai

LIVEWORKSHEETS

6. Kuris iš šių gyvūnų yra plėšrūnas? Pažymėk.

		

Kodėl šis gyvūnas vadinamas plėšrūnu?

_____

2 taškai

7. Kas kuo maitinasi? Sudaryk mitybos grandinę (surašyk organizmų pavadinimus).

		

..... ⇨ ..... ⇨ .....

3 taškai

8. Kokias žinai natūralias buveines? Parašyk 3 pavadinimus.

..... , ... , ...

3 taškai

9. Kaip žmogus gali pakenkti natūralioms buveinėms?

_____

1 taškas

10. Parašyk po du pievų ir miškų augalus.

PIEVA	MIŠKAS
.....	.....
.....	.....

2 taškai

11. Kodėl natūraliose buvenėse mažėja kai kurių organizmų, pvz. varlių? Parašyk dvi jų nykimo priežastis.

_____

_____

2 taškai

Galėjai surinkti 24 taškus, surinkai _____

LIVEWORKSHEETS