LKPD

BANGUN DATAR

Perhatikan video berikut ini:

Perhatikan materi presentasi berikut ini:

Materi

Materi

LIVEWORKSHEETS

LKPD

BANGUN DATAR

1. **TEKSFIEL**

Bangun datar segi empat yang keempat sisinya sama panjang dan keempat sudutnya siku-siku atau 90° adalah...

2. **SINGLE CHOICE**

Berikut ini yang bukan merupakan bangun datar adalah....

3. **CHECK CHOICE**

Pertanyaan yang benar adalah.....

- Persegi memiliki 4 sisi
- Lingkaran memiliki 6 sisi
- Segitiga memiliki 3 sisi

4. **SELECT**

Nama bangun datar di bawah ini adalah.....

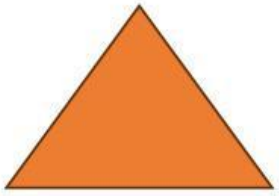

- Persegi
- Segitiga
- Persegi panjang
- Lingkaran

LIVEWORKSHEETS

LKPD

BANGUN DATAR

5. **WORD SEARCH**

Temukan 3 kata pada kotak di bawah ini....

S	S	I	S	I
M	U	L	I	N
O	S	D	K	T
D	K	C	U	K
U	G	X	M	T

6. **SPEAK**

Sebutkan nama bangun datar berikut dengan tepat!

LIVEWORKSHEETS

LKPD

BANGUN DATAR

7. **LISTENING**

Dengarkan suara berikut dan tuliskan jawabannya dengan tepat!

8. **DRAG & DROP**

Tentukan rumus yang sesuai dengan gambar.



$L = \frac{1}{2} \times alas \times tinggi$

$L = Panjang \times Lebar$

$L = \pi \times r \times r$

LIVEWORKSHEETS

LKPD

BANGUN DATAR

9. **JOIN**

Buatlah garis ke jawaban yang benar.....



Persegi Panjang

Lingkaran

Segitiga

LIVEWORKSHEETS