Pilih jawapan yang betul

1. Rajah 1 menunjukkan satu situasi.

Rajah 1

Apakah deria yang digunakan dalam situasi di atas?

A Deria rasa

B Deria sentuhan

C Deria bau

2. Rajah 2 menunjukkan seorang pelajar menjalankan satu aktiviti.

Rajah 2

Apakah kemahiran proses sains yang terlibat?

A Memerhati

B Mengelas

C Berkomunikasi

LIVEWORKSHEETS

Rajah 3

3. Apakah Peraturan Bilik Sains yang ditunjukkan dalam rajah 3 di atas?

A. Beratur sebelum masuk ke dalam Bilik Sains

B. Buang sisa pepejal ke dalam tong sampah

C. Buang sisa cecair ke dalam tong sampah

4. Rajah 4 menunjukkan proses tumbesaran manusia.

Rajah 4

Antara berikut, yang manakah perubahan yang berlaku semasa proses tumbesaran manusia?

A Saiz badan

B Warna iris

C Jenis rambut

LIVEWORKSHEETS

5. Bagaimanakah manusia membiak?

A Melahirkan anak dan bertelur

B Melahirkan anak

C Bertelur

6. Rajah 5 menunjukkan sarang burung.

Rajah 5

Bagaimanakah burung menjaga telurnya?

A. Burung membuat sarang di atas dahan pokok

B. Burung menyembunyikan telur di dalam tanah

C. Burung bertelur dengan sedikit

7.

Rajah 6

Bagaimanakah haiwan di atas membiak?

A Melahirkan banyak anak

B Bertelur sedikit

C Bertelur banyak

LIVEWORKSHEETS

8. Rajah 7 menunjukkan kitar hidup seekor katak.

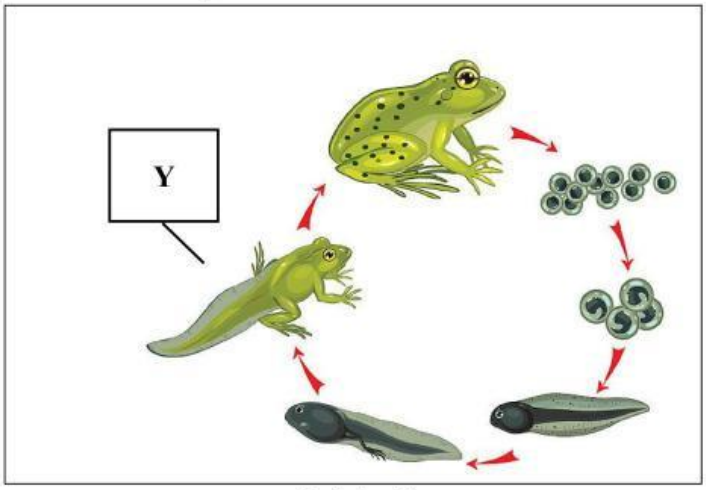

Rajah 7

Apakah **Y**?

A Berudu

B Katak dewasa

C *Anak katak*

9. Rajah 8 menunjukkan kitar hidup rama-rama.

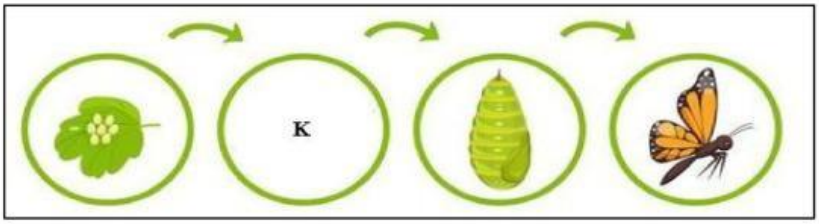

Apakah K ?

A

C

B

LIVEWORKSHEETS

10 Rajah 9 menunjukkan seekor haiwan.



Rajah 9

Haiwan yang manakah membiak dengan cara yang sama seperti haiwan diatas?

A



B



C

LIVEWORKSHEETS

11 **Rajah 10**

Berdasarkan rajah di atas, keperluan asas tumbuhan yang ditunjukkan ialah _____

A Air

B Ruang

C Cahaya matahari

12. Rajah 11 menunjukkan peringkat tumbesaran tumbuhan.

Rajah 11

Apakah yang dapat diperhatikan daripada rajah di atas?

A. Bilangan daun berkurang

B. Bilangan daun bertambah

C. Ketinggian pokok berkurang

LIVEWORKSHEETS

13. Rajah 12 menunjukkan pemerhatian terhadap percambahan biji benih.

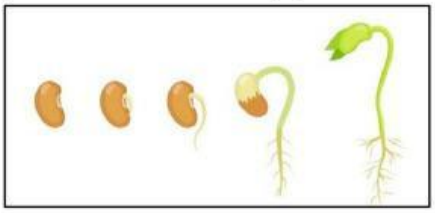

Rajah 12

Antara berikut, yang manakah keperluan asas biji benih untuk bercambah?

A. Air, udara dan suhu yang sesuai

B. Air, ruang dan udara

C. Air, udara dan cahaya matahari

14 Tumbuhan manakah TIDAK mendapat keperluan asas yang mencukupi

A

B



C

LIVEWORKSHEETS

15

Rajah 13

Berdasarkan rajah di atas, apakah kepentingan tumbuh-tumbuhan yang ingin ditunjukkan?

A Membekalkan udara untuk bernafas

B Sebagai habitat dan tempat berlindung haiwan

C Sebagai sumber makanan

LIVEWORKSHEETS