Soal Latihan PSAS Matematika Kelas 5

SDIT Salman Al Farisi 2

1. Perhatikan gambar berikut!

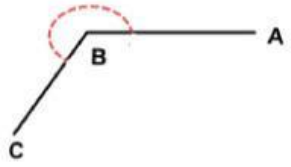

Sudut pada gambar di atas adalah ...

A. sudut lancip
B. sudut siku-siku
C. sudut tumpul
D. sudut refleks

2. Sudut yang besarnya kurang dari 90° disebut ...

A. sudut tumpul
B. sudut siku-siku
C. sudut lancip
D. sudut lurus

3. Sudut 135° termasuk ...

A. sudut lancip
B. sudut siku-siku
C. sudut tumpul
D. sudut penuh

4. Sudut lurus besarnya adalah ...

A. 90°
B. 180°
C. 270°
D. 360°

5. Sudut penuh besarnya ...

A. 180°
B. 270°
C. 360°
D. 90°

6. Sudut yang lebih dari 90° tetapi kurang dari 180° disebut ...

A. lancip
B. tumpul
C. siku-siku
D. lurus

LIVEWORKSHEETS

7. Perhatikan gambar berikut!

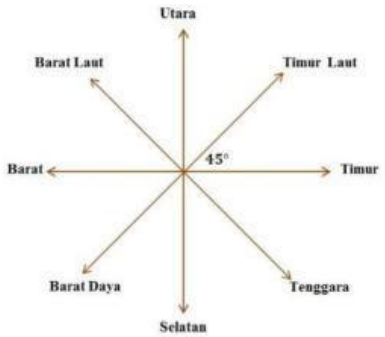

Sudut yang terbentuk dari arah timur dan barat laut menunjukkan sudut ....

A. 30°
B. 45°
C. 90°
D. 135°

8. Perhatikan gambar berikut!

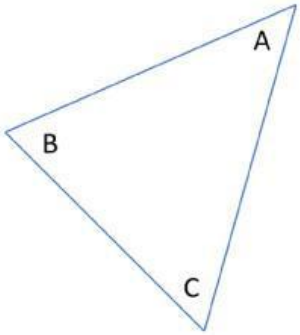

Jika sudut A = 45° dan sudut B = 60°, maka besar sudut C adalah ...

A. 70°
B. 75°
C. 80°
D. 85°

9. Bangun datar yang memiliki 4 sisi sama panjang dan 4 sudut siku-siku adalah ...

A. persegi panjang
B. persegi
C. jajar genjang
D. layang-layang

10. Bangun datar yang memiliki dua pasang sisi sejajar dan dua pasang sudut sama besar....

A. belah ketupat
B. trapesium
C. persegi
D. segitiga

LIVEWORKSHEETS

11. Perhatikan gambar berikut!

Persegi panjang mempunyai … pasang sisi sejajar.

A. 1
B. 2
C. 3
D. 4

12. Bangun datar yang memiliki diagonal berpotongan saling tegak lurus yaitu….

A. trapesium
B. jajargenjang
C. layang-layang
D. persegi panjang

13. Bangun yang TIDAK memiliki simetri lipat adalah…

A. jajargenjang
B. persegi panjang
C. layang-layang
D. belah ketupat

14. Bangun yang memiliki dua diagonal saling tegak lurus dan saling membagi 2 sama panjang adalah …

A. persegi panjang
B. belah ketupat
C. trapesium
D. lingkaran

15. Belah ketupat memiliki simetri putar sebanyak.…

A. 1
B. 2
C. 3
D. 4

16. Bangun yang hanya memiliki satu pasang sisi sejajar adalah …

A. persegi
B. trapesium
C. belah ketupat
D. persegi panjang

LIVEWORKSHEETS

17. Data nilai ulangan kelas 5 sebagai berikut:
8, 7, 9, 8, 6, 8, 7, 9, 8, 7, 7, 9, 8, 6, 9, 8, 7

Nilai yang paling kecil adalah …

A. 6
B. 7
C. 8
D. 9

18. Perhatikan gambar berikut!

Nama Buah	Jumlah Buah
Pisang	
Apel	
Jeruk	
Stroberi	
Semangka	

Gambar di atas merupakan diagram …

A. piktogram
B. batang
C. garis
D. tabel

19. Data: 5, 7, 8, 10, 4, 5, 9, 8, 7, 5, 10, 8, 7

Selisih nilai tertinggi dan terendah adalah …

A. 6
B. 5
C. 4
D. 3

20. Data hasil panen padi tiap tahun akan mudah dipahami jika disajikan dalam bentuk….

A. tabel
B. narasi
C. cerita
D. kalimat

21. Jumlah siswa kelas 5 ada 30 anak.
Apabila terdapat 18 siswa laki-laki, maka siswa perempuan ada ….

A. 10
B. 11
C. 12
D. 13

LIVEWORKSHEETS

22. Data berikut yang paling kecil adalah:
450, 405, 540, 504

A. 450
B. 405
C. 540
D. 504

23. Bilangan tujuh ratus tiga puluh lima ribu ditulis ...

A. 735.000
B. 753.000
C. 735.500
D. 703.500

24. Angka 6 pada 468.321 menempati nilai ...

A. puluhan
B. ratusan
C. ribuan
D. puluh ribuan

25. Bilangan terbesar dari:
456.789, 465.789, 456.978

A. 456.789
B. 456.978
C. 465.789
D. 456.879

26. 575.960 ... 575.690

Tanda yang tepat untuk mengisi titik-titik Adalah....

A. <
B. >
C. =
D. ≤

27. Urutan dari terkecil:

345.000, 298.000, 410.000 adalah....

A. 298.000, 345.000, 410.000
B. 345.000, 298.000, 410.000
C. 410.000, 345.000, 298.000
D. 298.000, 410.000, 345.000

28. Nilai tempat angka 3 pada 234.567 adalah ...

A. ratus ribuan
B. puluh ribuan
C. ribuan
D. ratusan

LIVEWORKSHEETS

29. Perhatikan pola bilangan berikut!

585.000, 590.000, … , 600.000

Bilangan sebelum 600.000 adalah …

A. 590.500
B. 595.000
C. 595.500
D. 596.000

30. Kakak membawa 7 lembar uang seratus ribuan dan 4 lembar uang lima puluh ribuan untuk membeli Sepatu seharga Rp835.500,00. Uang kembalian kakak Adalah….

A. Rp63.500,00
B. Rp64.500,00
C. Rp73.500,00
D. Rp74.500,00

LIVEWORKSHEETS