PROPIEDADES DE LAS FUNCIONES

Observa la gráfica y estudia sus propiedades:

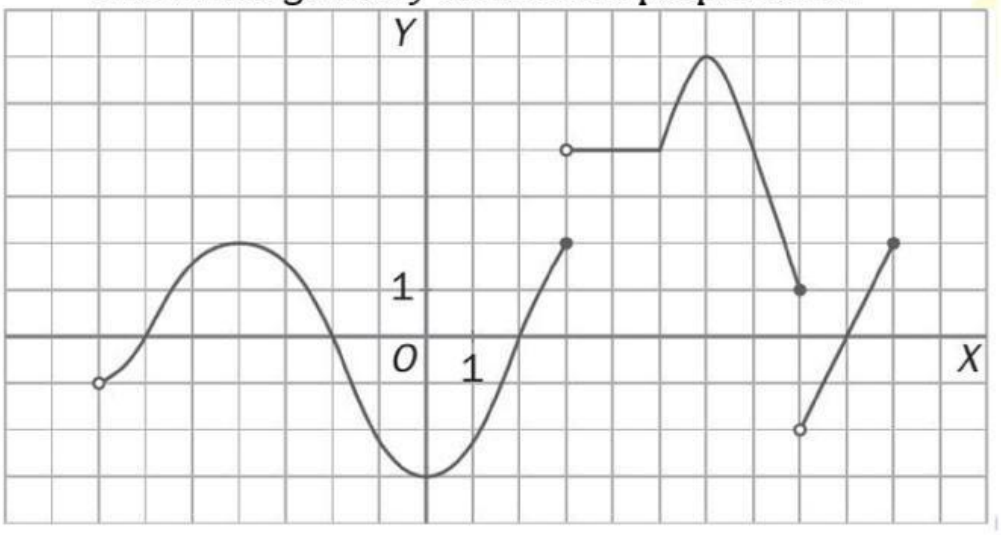

a) Dominio y recorrido

D = R =

b) Calcula

f(-4) = f(4) = f(8) =

c) Continuidad

d) Cortes con los ejes

Eje OX: Eje OY:

e) Simetría

f) Monotonía:

Crecimiento: decrecimiento

g) Extremos:

Máximos relativos: Máximo absoluto:
Mínimos relativos: Mínimo absoluto:

LIVEWORKSHEETS

Observa la gráfica y estudia sus propiedades:

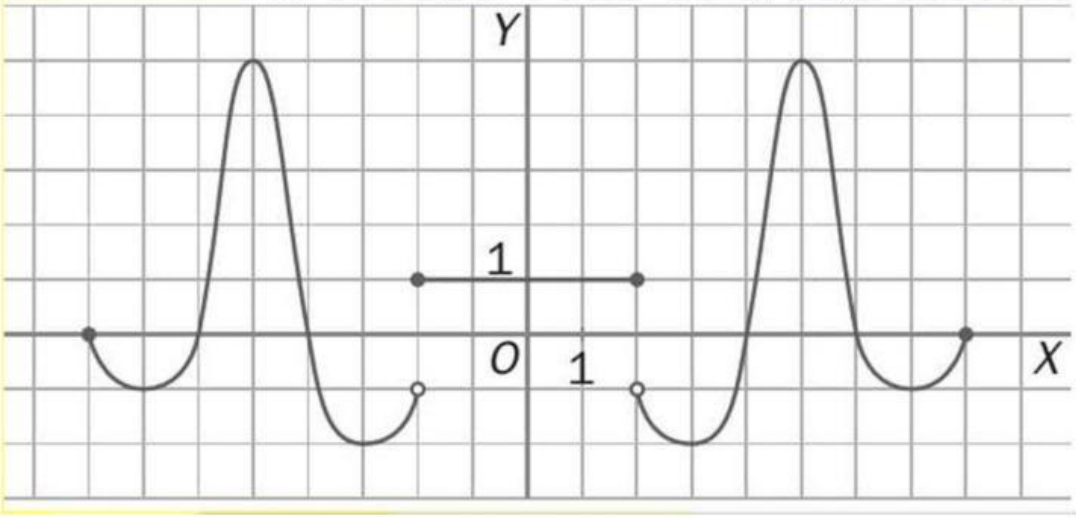

a) Dominio y recorrido

D = R =

b) Calcula

f(-5) = f(3) = f(7) =

c) Continuidad

d) Cortes con los ejes

Eje OX: Eje OY:

e) Simetría

f) Monotonía:

Crecimiento: decrecimiento

g) Extremos:

Máximos relativos: Máximos absolutos:
Mínimos relativos: Mínimos absolutos:

LIVEWORKSHEETS

Observa la gráfica y estudia sus propiedades:

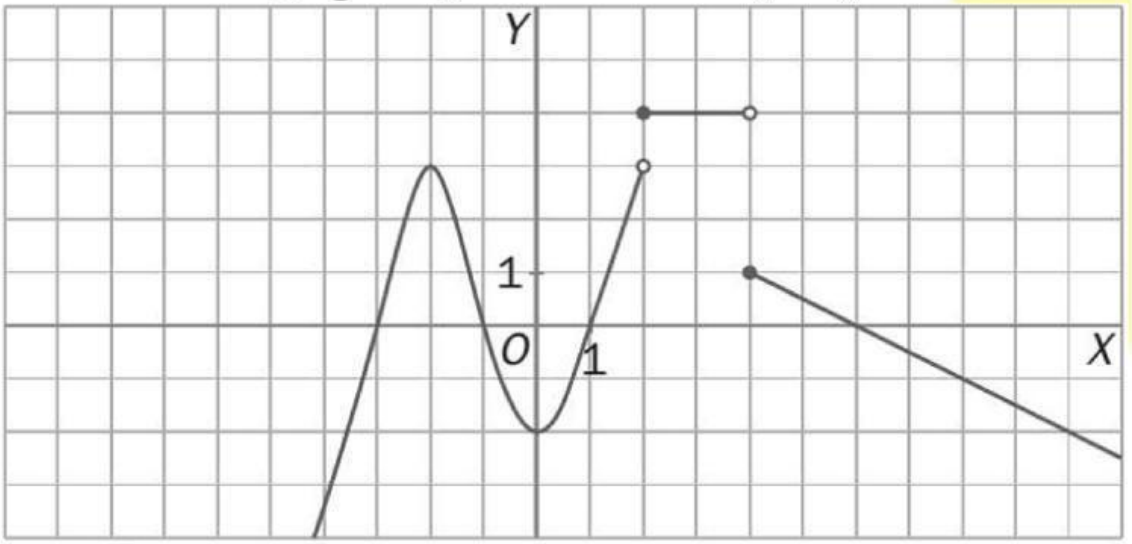

a) Dominio y recorrido

D = R =

b) Calcula

f(-2) = f(4) = f(8) =

c) Continuidad

d) Cortes con los ejes

Eje OX: Eje OY:

e) Simetría

f) Monotonía:

Crecimiento: decrecimiento

g) Extremos:

Máximos relativos: Máximo absoluto:
Mínimos relativos: Mínimo absoluto:

LIVEWORKSHEETS