Name:_____ Date:_____

Interpretem Gràfics Estadístics

1. Diagrama de Barres: Esports ⚽

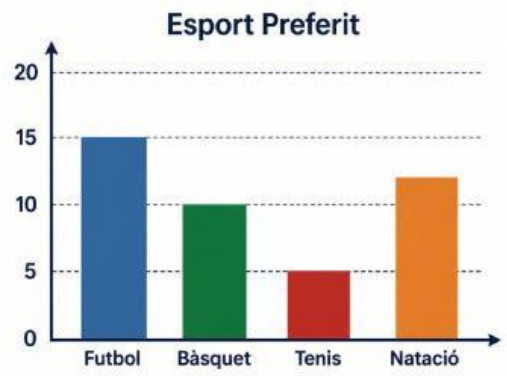

1. Quin és l'esport més popular i quantes persones l'han triat?

---

2. Quantes persones en total prefereixen el bàsquet o el tenis?

---

2. Diagrama de Sectors: Transport 🚌

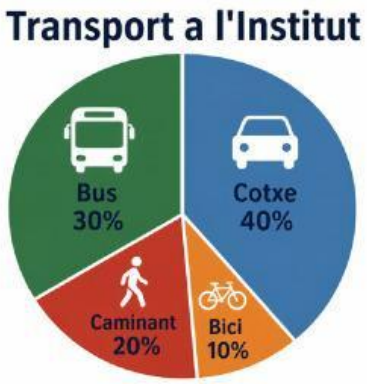

3. Quin mitjà de transport utilitza la majoria de l'alumnat per anar a l'institut?

---

4. Si a l'institut hi ha 200 alumnes en total, quants hi van caminant?

---

3. Pictograma: Lectura de Llibres 📚

5. Quants llibres en total es van llegir al mes de gener?

---

6. En quin mes es van llegir exactament 8 llibres?

LIVEWORKSHEETS

4. Histograma: Alçada de l'Alumnat 📏

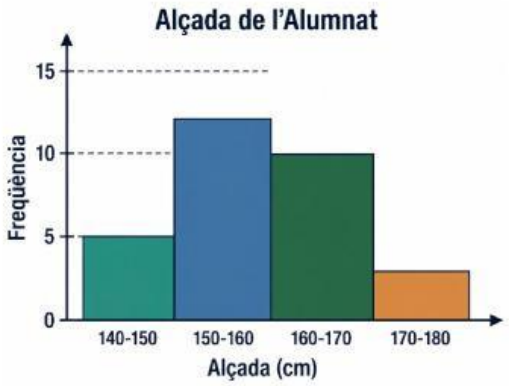

7. En quin interval d'alçada hi ha més alumnes?

---

8. Quants alumnes mesuren 160 cm o més?

---

5. Diagrama de Línies: Temperatura 🌡️

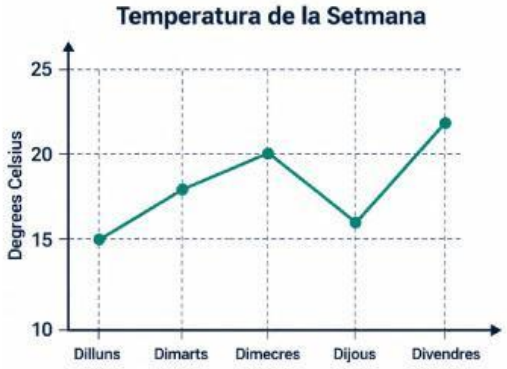

9. Quina va ser la temperatura més alta de la setmana i quin dia es va registrar?

---

10. Quina va ser la diferència de temperatura entre el dimecres i el dijous?

LIVEWORKSHEETS