سلطنة عُمان
وزارة التربية والتعليم

امتحـان مادة الرياضيات للصف الخامس
الفصل الدراسي الثاني / الدور الأول
للعام الدراسي ١٤٤٦/ ١٤٤٧هـ - ٢٠٢٤/٢٠٢٥م
الفترة الصباحية

- زمن الامتحان: ساعة ونصف
- الإجابة في الدفتر نفسه.
- الدرجة الكلية للامتحان: ٤٠ درجة.
- عدد صفحات أسئلة الامتحان: (٧).
- تكتب الإجابة بالقلم الأزرق أو الأسود.
- يسمح باستخدام: المسطرة، المنقلة، المثلث القائم، الورق الشفاف.
- **لا يسمح** باستخدام: الآلة الحاسبة.

الصفحة	الدرجة		التوقيع بالاسم	
	بالأرقام	بالحروف	المصحح الأول	المصحح الثاني
١	٦			
٢	٥			
٣	٦			
٤	٦			
٥	٦			
٦	٦			
٧	٥			
المجموع			جمعه	مراجعة الجمع
المجموع الكلي	٤٠			

أقرأ التعليمات الآتية في البداية:

- **أ**جب عن **جميع** الأسئلة في الفراغ المخصص في ورقة الأسئلة.
- وضح **كل** خطوات حلك في دفتر الأسئلة.
- درجة كل سؤال أو جزء من السؤال مكتوبة في اليسار بين الحاصرتين [].

اسم الطالب	
الصف	

LIVEWORKSHEETS

المادة : الرياضيات الصف الخامس الفصل الدراسي الثاني
الدور الأول ٢٠٢٤/٢٠٢٥م (الفترة الصباحية)

١) حوط المنوال لمجموعة البيانات الأتية :

الفيل ، الأسد ، الزرافة ، الأسد ، النمر

الفيل　　الأسد　　الزرافة　　النمر

[١]

٢) احسب
مساحة المستطيل المجاور

_____ سم^{٢}

[١]

٣) رتب الأعداد العشرية الأتية من الأصغر إلى الأكبر:

٤,٢٤　　٤,٤　　٤　　٤,٢

_____ ، _____ ، _____ ، _____

الأصغر　　الأكبر

[٢]

٤) ضع علامة (√) في المكان المناسب

العبارة	صواب	خطأ
الزاوية القائمة هي زاوية قياسها يساوي ٩٠° بالضبط		
الزاوية المنفرجة هي زاوية قياسها أقل من ٩٠°		

[١]

٥) اكتب حجم السائل المشار إليه
بالسهم في الاناء المجاور

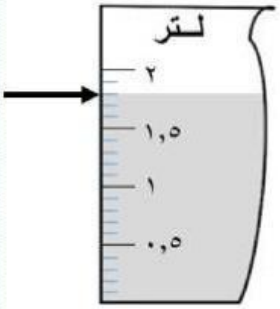

_____ لتر

[١]

الدرجة | ٦ | |

يتبع/٢

LIVEWORKSHEETS

٦) الجدول المجاور يوضح عدد الزوار لمعرض السيارات خلال ٥ أيام
اكتب عدد الزوار لهذا المعرض في يوم الثلاثاء

تمثل
| = ١٠ زوار

اليوم	الأصواتُ
السبتُ	II
الأحدُ	IIII
الاثنينِ	I
الثلاثاءُ	~~IIIII~~
الأربعاءُ	IIII~~IIIII~~

[١]

_____ زائر

٧) من الشكل المجاور
اكتب الوقت بنظام ١٢ ساعة .

[١]

_____

٨) من الأشكال الأتية :

[٢]



(١)

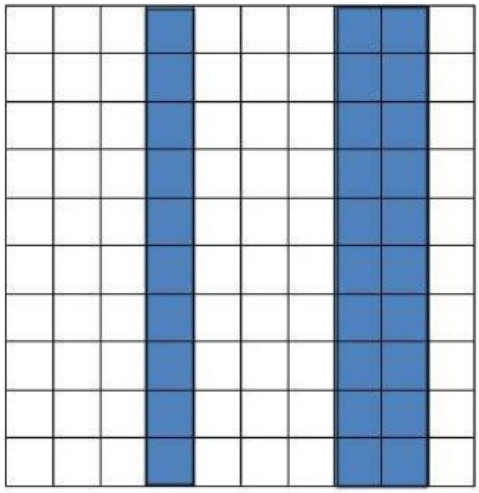

(٢)

اكتب النسبة المئوية للمساحة المظللة في كل مخطط؟

(١) _____ % (٢) _____ %

٩) **حوط** المثلث حاد الزاويا.

[١]

الدرجة	٥	

يتبع/٣

LIVEWORKSHEETS

١٠) اكتب الوقت الذي تشير إليه الساعة المجاورة.

_____ [١]

١١) عند رمي حجر نرد منتظم ذو ٦ أوجه.
صل احتمال الأحداث في العمود الأول مع فرصة حدوثها في العمود الثاني.

ظهور عدد زوجي
ظهور عدد أكبر من ٧
ظهور عدد أقل من ٢

مستحيل
غير مرجح
متساو
مرجح
مؤكد

[٢]

١٢) **حوط** النسبة المئوية التي تكافئ الكسر $\frac{٢}{٣}$

٪٢٠ ٪٤٠ ٪٦٠ ٪٨٠

[١]

١٣) اكتب رتبة التماثل الدوراني في الشكل الآتي :

_____ [١]

١٤) ظلل المربع الصحيح حسب الانعكاس في خطي المرآة.

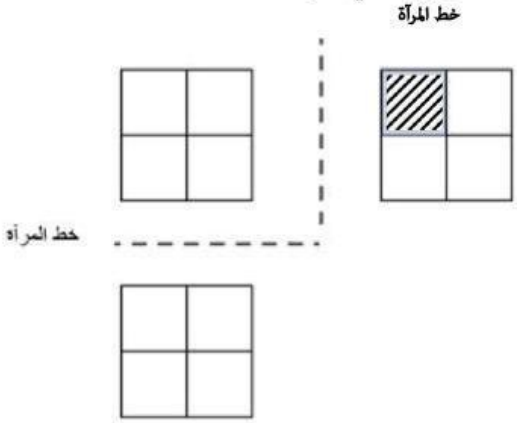

[١]

الدرجة	٦	

يتبع/٤

LIVEWORKSHEETS

١٥) اكتب الأعداد الأتية في الموقع المناسب على خط الأعداد: [٢]

$$٢\frac{١}{٢} \text{ ، } ١\frac{١}{٤} \text{ ، } \frac{٣}{٨}$$



١٦) عمر أحمد ٧ أيام في التاريخ الموضح في التقويم. [١]

أكتب تاريخ ميلاد أحمد.

مارس ٢٠٢٤						
الأحد	الاثنين	الثلاثاء	الأربعاء	الخميس	الجمعة	السبت
					١	٢
٣	٤	٥	٦	٧	٨	٩
١٠	١١	١٢	١٣	١٤	١٥	١٦
١٧	١٨	١٩	٢٠	٢١	٢٢	٢٣
٢٤	٢٥	٢٦	٢٧	٢٨	٢٩	٣٠
٣١						

_____ / _____ / _____

١٧) الرسم البياني الخطي المجاور يوضح ارتفاع درجة حرارة الماء (بالدرجة السيليزية) في اناء الطبخ. [١]

أكتب الوقت الذي وصلت فيه درجة الحرارة ٨٠° س.

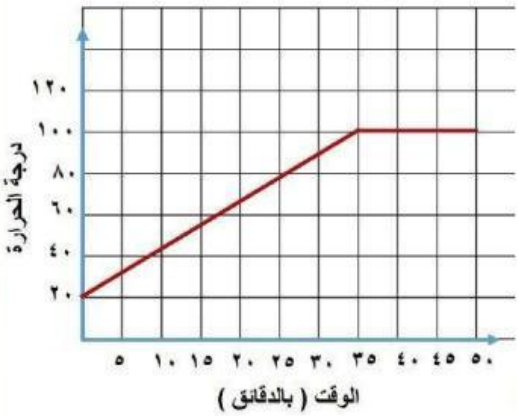

_____ دقيقة

١٨) مستطيل أبعاده ٧ سم ، ٣ سم . [١]

أحسب محيطه.

_____ سم

١٩) الساعتان المجاورتان الأولى تمثل وقت خروج سامي من المنزل صباحاً، والثانية تمثل وقت عودته إلى المنزل مساءاً. [١]



حوط المدة الزمنية التي قضاها سامي خارج المنزل

الأولى

الثانية

٣:٥٨ ٤:٥٨ ٥:٥٨ ٦:٥٨

الدرجة	٦	

يتبع/٥

LIVEWORKSHEETS

٢٠) في الشكل الآتي أكمل شبكة الهرم الثلاثي.



[١]

٢١) باستخدام الأرقام ٢ ، ٣ ، ٥ أكمل العملية الحسابية الأتية:

٣ ٨ ,٥ ٤

+

٥ ٩

[٢]

٢٢) باستخدام المسطرة أرسم خطاً مستقيماً بطول ٤٨ ملم.

[١]

٢٣) يمثل الرسم البياني المجاور

درجات الحرارة في أربع مدن.

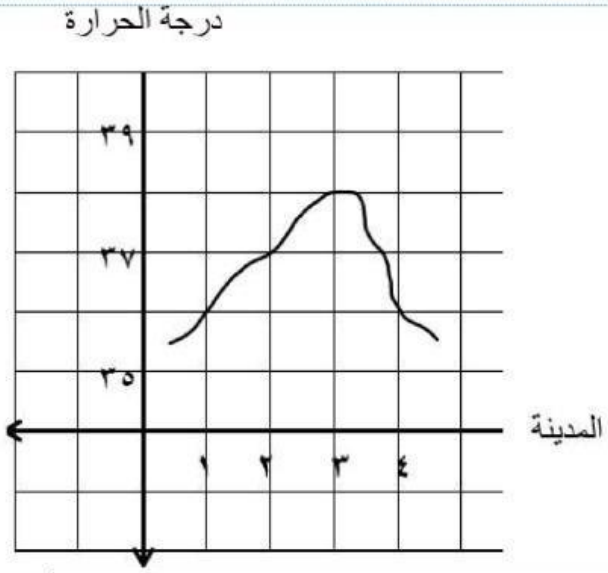

أكمل الجدول الآتي من الرسم :

المدينة	١	٢	٣	٤
درجة الحرارة		٣٧		

[٢]

الدرجة | ٦ | | يتبع/٦

LIVEWORKSHEETS

٢٤) الجدول الآتي يوضح اللون المفضل لدى طلاب الصف الخامس.

اللون	الأبيض	الأحمر	الأخضر
التكرار	١٦	٨	١٠

اكمل الرسم البياني لعرض هذه البيانات.

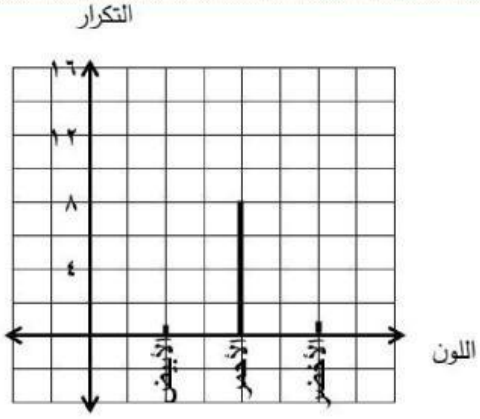

[١]

٢٥) أرسم صورة المثلث الآتي بالانعكاس على خط المرآة

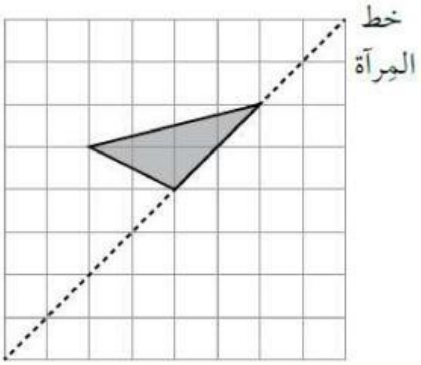

[١]

٢٦) اشترى سعيد ١٨ كرتوناً من العصير لمتجره، فإذا كان $\frac{٢}{٣}$ من الكراتين بنكهة البرتقال.

فكم كرتوناً أشترى سعيد بنكهة البرتقال؟

_____ كرتون [١]

٢٧) استخدم الأرقام ٤ ، ٥ ، ٦ لجعل العبارة الأتية صحيحة

(☐ - ☐) + ٢ × ☐ = ٩ [٢]

٢٨) تقول سارة :

عند دوران القرص فإن احتمال الحصول على عدد أكبر من ٨ حدث مؤكد.

هل ما تقوله ساره صحيح؟ نعم ☐ لا ☐

فسر ذلك.

.....

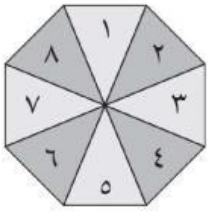

[١]

الدرجة	٦	

يتبع/٧

LIVEWORKSHEETS

٢٩) **حوط** طول المستطيل الذي مساحته ١٨ سم^{٢}، ومحيطه ١٨ سم، وعرضه ٣ سم

١ ٢ ٦ ٩

[١]

٣٠) يقول هلال : تم نقل المربع أ إلى المربع ب
بمقدار ٣ مربعات إلى اليمين و٢ إلى الأعلى
هل ما يقوله هلال صحيح؟

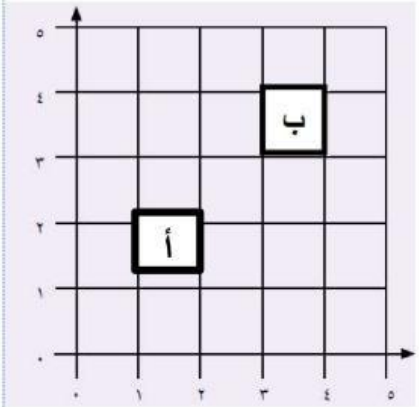

صحيح ☐ خطأ ☐

فسّر إجابتك.

_____

[١]

٣١) المنوال للأعداد الأتية هو ٥

٢ ، ٩ ، ٥ ، ٩ ، ٥ ، ٨ ، ☐ - ١

أكتب العدد المفقود.

[١]

٣٢) الجدول الآتي جزء من جدول التوقيت المدرسي.

١٠:٣٠	١٠:٤٥	١١:٣٠	١٢:١٥	١٢:٣٠
فترة الراحة	الرياضيات	العلوم	فترة الراحة	

اكتب المدة التي تستغرقها حصة الرياضيات.

_____

[١]

٣٣) اشترت عائشة عقد به ١٢ خرزة من الذهب و٤ خرزات من الفضة .
اكتب الكسر الذي يمثل الخرز الذهبي من مجموع خرزات العقد

_____

[١]

الدرجة	٥	

انتهت الأسئلة مع الدعاء للجميع بالتوفيق والنجاح.

LIVEWORKSHEETS