Bài tập 1: Chọn đáp án đúng.

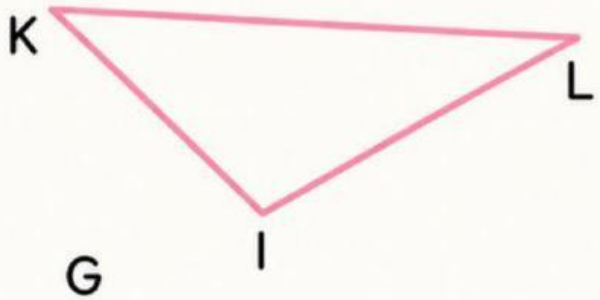

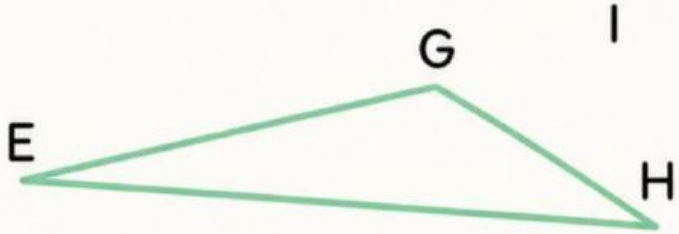

- Hình bên trên là hình Tam giác / Tứ giác ,

có 3 / 4 đỉnh,

là các đỉnh K, L, I / M, H, K ,

có 4 / 3 cạnh,

là các cạnh KI, IL,LK / KH, HL, HK .

- Hình bên dưới là hình Tứ giác / Tam giác ,

có 3 / 4 đỉnh,

là các đỉnh D, E, F / E, G, H ,

có 4 / 3 cạnh,

là các cạnh HF, GF, EF / EG, GH, HE .

LIVEWORKSHEETS

Bài tập 1: Chọn đáp án đúng.

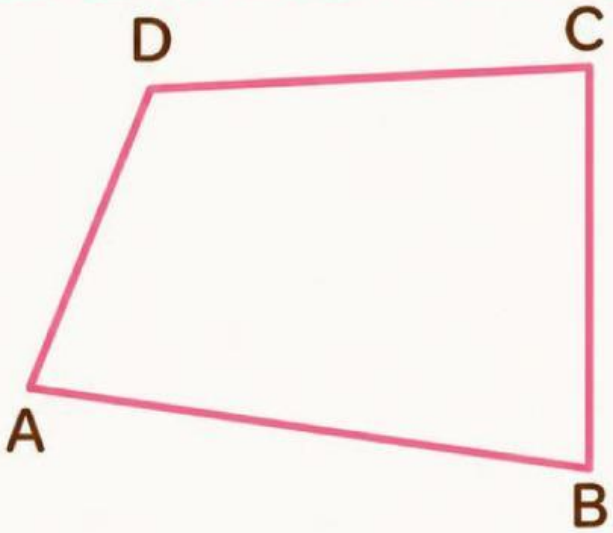

- Đây là hình Tam giác / Tứ giác ,

có 3 / 4 đỉnh,

là các đỉnh D, A, F, G / A, B, C, D ,

có 4 / 3 cạnh,

là các cạnh AB,BC,CD,DA / AB,BC,BD,DA .

- Đây là hình _____ / _____ ,

có ____ / ____ đỉnh,

là các đỉnh _____ / _____ ,

có ____ / ____ cạnh,

là các cạnh _____ / _____ .

LIVEWORKSHEETS

Bài tập 2: Chọn đáp án đúng.

1. Hình tam giác là hình có 3 đỉnh, 4 cạnh. **Đúng** **Sai**

2. Hình có 4 đỉnh, 4 cạnh là hình tứ giác. **Đúng** **Sai**

3. Hình có 3 đỉnh, 3 cạnh là hình tam giác. **Đúng** **Sai**

Bài tập 3: Điền vào chỗ trống.

.....

.....

Miếng Pizza có hình: .....

Mặt bàn có hình: .....

LIVEWORKSHEETS