Lembar Kerja Peserta Didik

LKPD

Ilmu Pengetahuan Sosial

Bab 2 Perubahan Musim dan Dampaknya

Nama: _____

Kelas: _____

LIVEWORKSHEETS

Dampak Perubahan Musim dalam Kehidupan Sehari-hari

Di bawah ini merupakan gambar-gambar dari dampak musim kemarau dan hujan. Tulislah di bawah gambar mana yang merupakan dampak dari musim kemarau dan musim hujan.

_____

_____

_____

_____

LIVEWORKSHEETS

Angin Muson Timur dan Barat

Di bawah ini merupakan gambar pergerakan angin muson di Indonesia. Amatilah panah di dalam gambar kemudian jawablah pertanyaan di bawah dengan benar.

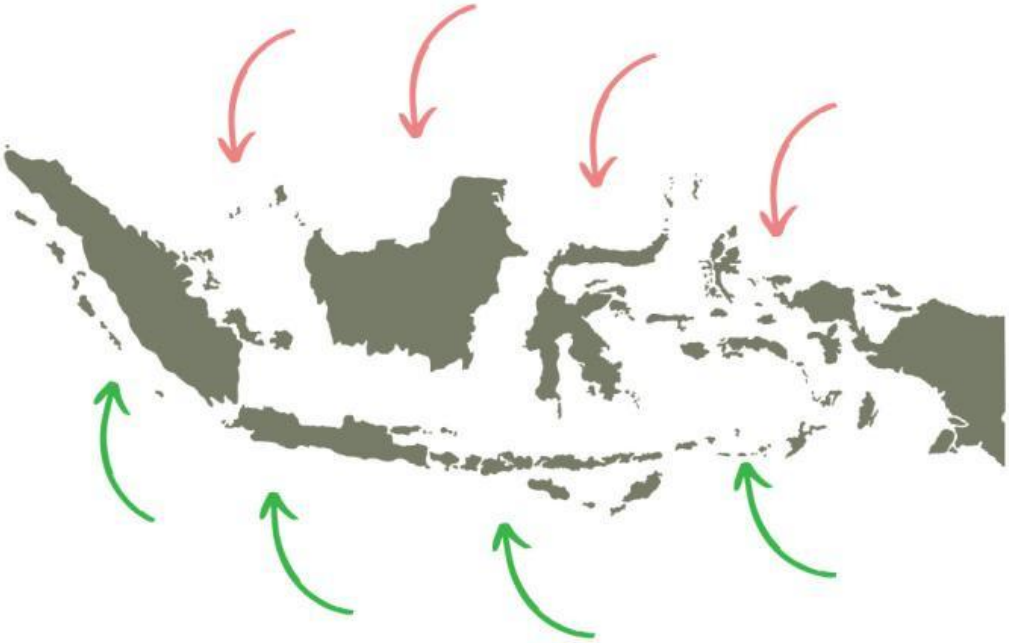

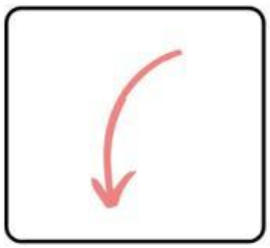

Angin muson: _____

Berasal dari: _____

Dampak: _____

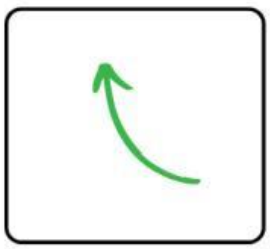

Angin muson: _____

Berasal dari: _____

Dampak: _____

LIVEWORKSHEETS

Perlengkapan untuk Setiap Perubahan Musim

Amatilah gambar-gambar di bawah ini, kemudian buatlah garis untuk menghubungkan benda sesuai dengan musim saat benda tersebut digunakan.

Musim Kemarau

Musim Hujan

LIVEWORKSHEETS

Kegiatan Menanam Padi Oleh Petani

Amatilah kedua gambar di bawah ini, kemudian berilah tanda centang pada lingkaran sesuai dengan kapan kegiatan tersebut dilakukan.

Menanam Padi

○ Musim Hujan ○ Musim Kemarau

Memanen Padi

○ Musim Hujan ○ Musim Kemarau

LIVEWORKSHEETS