Lembar Kerja Peserta Didik

Ilmu Pengetahuan Alam

Materi: Perubahan Energi

Nama: _____

Kelas: _____

LIVEWORKSHEETS

PERHATIKAN VIDEO BERIKUT INI!

AYO MENYANYI BERSAMA!

LIVEWORKSHEETS

Jawablah pertanyaan berikut ini dengan jawaban yang benar!

1. Matahari menghasilkan energi berikut? kecuali....

A. Energi panas
B. Energi cahaya
C. Energi bunyi

2. Contoh kegiatan yang memanfaatkan energi panas matahari adalah ....

A. Menyalakan televisi
B. Mengeringkan pakaian
C. Bermain sepak bola

3. Sumber energi yang tidak dapat diperbarui adalah....

A. Batubara
B. Air
C. Matahari

4. Contoh benda yang menggunakan energi listrik adalah ....

A. Setrika
B. Layang-layang
C. Bola

LIVEWORKSHEETS

Nama :

Kelas :

Sumber Energi

Hubungkan gambar sumber energi di bawah ini dengan namanya!

- Energi Air
- Energi Biogas
- Gelombang Laut
- Energi Matahari
- Energi Angin

LIVEWORKSHEETS

Ayo Kenali Sumber Energi

Nama:

Kelas:

PANDUAN: Amati gambar di bawah ini! Hubungkan gambar dengan jenis energi yang tepat!

Matahari

Kincir angin

Lampu

Gitar

Energi Bunyi

Energi Listrik

Energi Gerak

Energi Panas

LIVEWORKSHEETS

JAWABLAH PERTANYAAN BERIKUT!



Ini adalah
.....
menghasilkan energi
.....

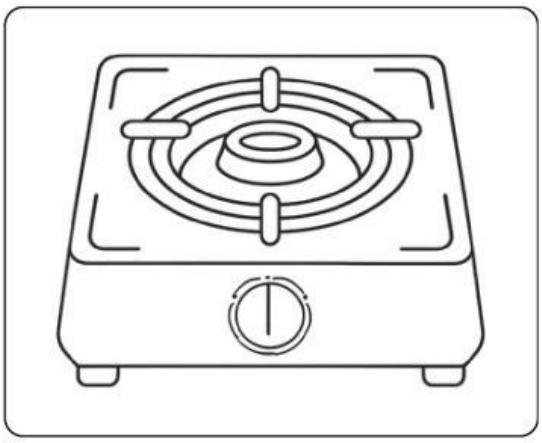

Ini adalah
.....
menghasilkan energi
.....

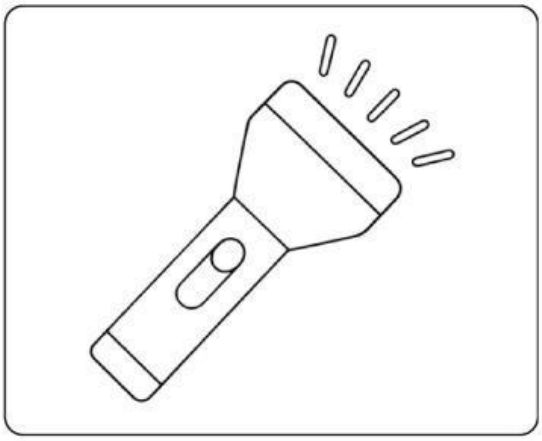

Ini adalah
.....
menghasilkan energi
.....

LIVEWORKSHEETS