LKPD
Matematika

Penjumlahan dan Pengurangan

Nama: Kelas:

LIVEWORKSHEETS

1+2=3

coba perhatikan video berikut

LIVEWORKSHEETS

Belajar Menghitung

Mari kita hitung jumlah hewan-hewan tersebut
dan mencatat jumlah yang tepat.

=

=



=



=



=

LIVEWORKSHEETS

Nama : _____ Nama : _____ Tanggal : / /

Hitung setiap hewan dalam kotak,
kemudian tarik garis jawaban angka yang benar!





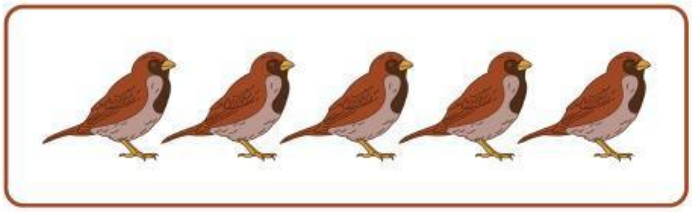

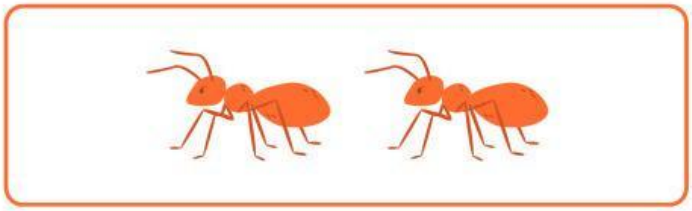

5

3

1

6

2

4

LIVEWORKSHEETS

Ayo Berlatih Hitung Cepat!

Hitung hasil penjumlahan dan pengurangan di bawah ini.
Tulis jawabannya di kotak!

2	+	4	=	
3	+	5	=	
2	+	8	=	
10	+	5	=	
8	+	3	=	
9	+	5	=	

LIVEWORKSHEETS

Nama:

Kelas:

PENGURANGAN

Jumlahkan gambar hewan di setiap baris.
Tulis hasilnya di kotak yang tersedia.











LIVEWORKSHEETS

Nama: _____ Tanggal: _____

Pengurangan dengan Cerita Sederhana

Arahan! Bacalah soal cerita berikut ini dengan teliti. Berilah tanda silang pada jawaban yang benar!

1. Lala memiliki 6 jepit rambut. 3 jepit rambut patah dan tidak bisa dipakai lagi. Berapa sisa jepit rambut Lala yang masih bagus?

A. 3 jepit rambut | B. 2 jepit rambut | C. 5 jepit rambut

2. Pada pohon mangga terdapat 10 buah mangga. Paman memetiknya sebanyak 5 buah. Berapa sisa buah mangga di pohon sekarang?

A. 3 mangga | B. 4 mangga | C. 5 mangga

3. Pada awalnya Tio memiliki 10 kelereng. Lalu 6 kelereng hilang. Berapa sisa kelereng yang dimiliki Tio sekarang?

A. 7 kelereng | B. 8 kelereng | C. 4 kelereng

4. Yudha berencana menjual 8 lukisan hasil karyanya. Lalu seorang seniman membeli 6 lukisan karya Yudha. Berapa sisa lukisan Yudha?

A. 6 lukisan | B. 2 lukisan | C. 8 lukisan

5. Nisa mengerjakan 5 tugas sekolah. Saat ini 4 tugas telah selesai dikerjakan Nisa. Berapa tugas sekolah Nisa yang masih belum selesai?

A. 4 tugas | B. 6 tugas | C. 1 tugas

LIVEWORKSHEETS