LKPD | Lembar Kerja Peserta Didik

GEOGRAFI

Kelas X

Lapisan Atmosfer

LIVEWORKSHEETS

LEMBAR KERJA PESERTA DIDIK (LKPD)

"ATMOSFER"

Petunjuk Belajar

a. Baca secara cermat bahan ajar sebelum mengerjakan tugas
b. Baca literatur lain untuk memperkuat pemahaman
c. Kerjakan setiap langkah sesuai tugas

TUGAS

A. Berilah keterangan pada setiap lapisan atmosfer bumi yang terdapat pada gambar berikut !

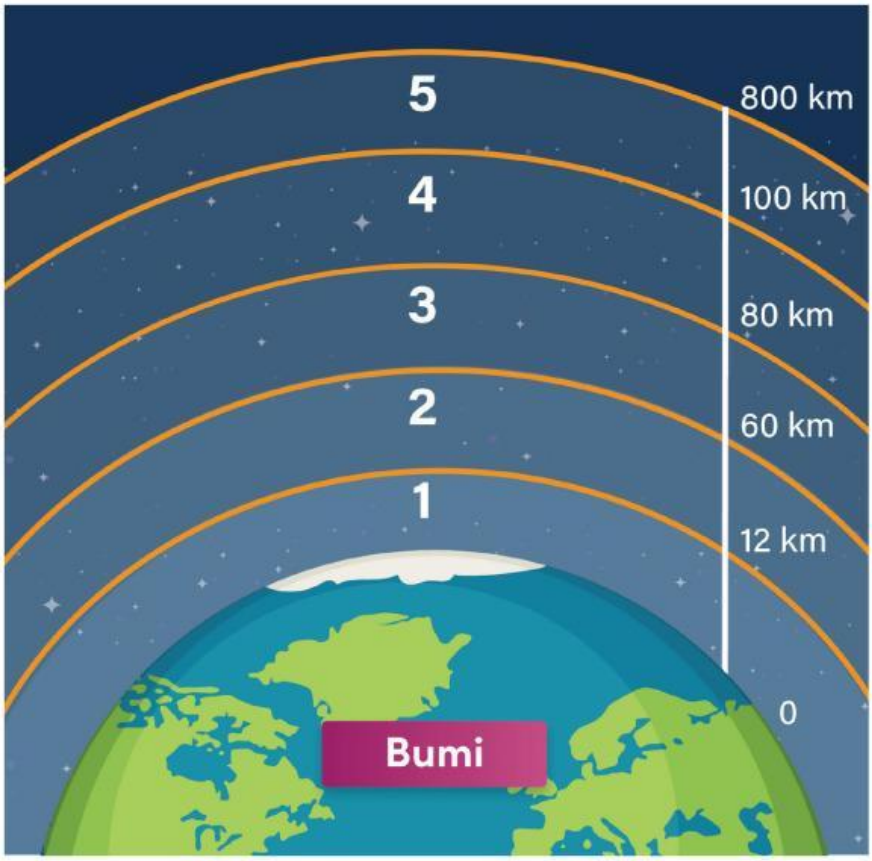

ATMOSFER	ANTROSFER	TROPOSFER
EKSOSFER	HIDROSFER	MESOSFER
TERMOSFER	STRATOSFER	BIOSFER

LIVEWORKSHEETS

B. Berilah keterangan pada gambar berikut terkait unsur-unsur cuaca !

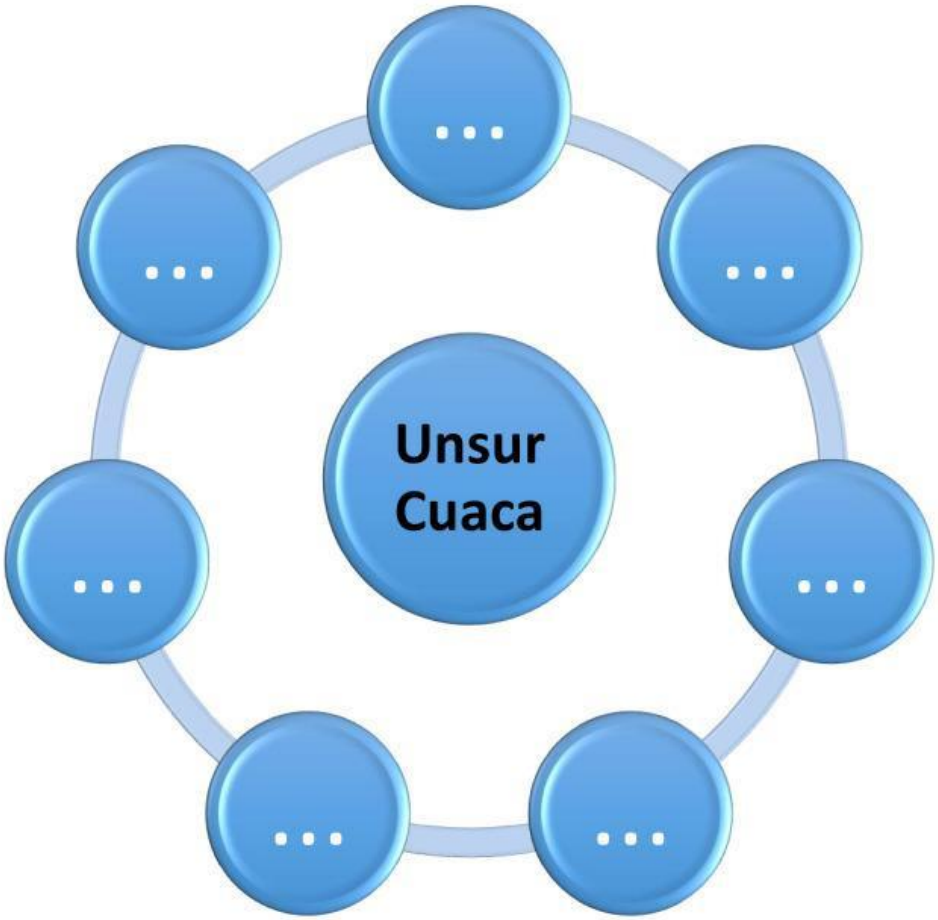

SINAR MATAHARI	MANUSIA	TEKANAN UDARA
AIR	KELEMBAPAN UDARA	ANGIN
AWAN	TANAH	API
CURAH HUJAN	SUHU UDARA	VEGETASI

LIVEWORKSHEETS

C. Pasangkan jenis penyebaran panas dengan gambar berikut !

TURBULENSI

KONVEKSI



ADVEKSI

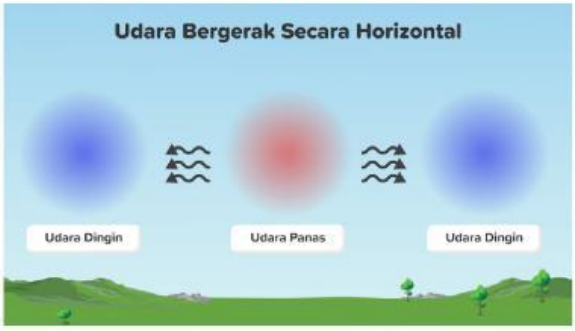

KONDUKSI

LIVEWORKSHEETS

D. Berilah keterangan jenis awan pada gambar berikut !

CUMULUS

STRATUS

CIRROCUMULUS

CIRRUS

CIRROSTRATUS

E. Berilah keterangan faktor-faktor yang memmpengaruhi suhu udara pada gambar berikut!

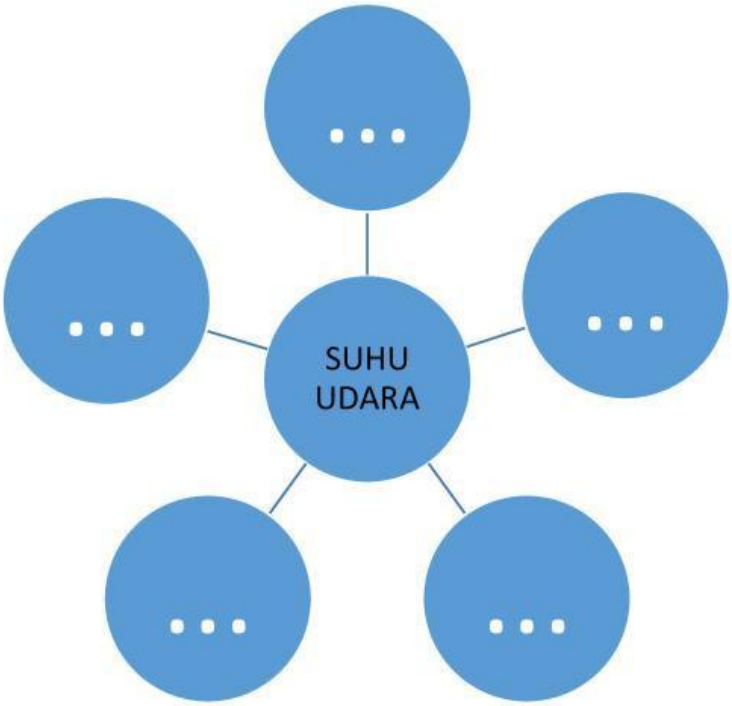

SUDUT DATANG SINAR MATAHARI

BANYAKNYA AWAN

LAMA SINAR MATAHARI

LETAK LINTANG

KETINGGIAN

AIR

TANAH

LIVEWORKSHEETS

F. Pasangkan jenis hujan dengan gambar berikut !

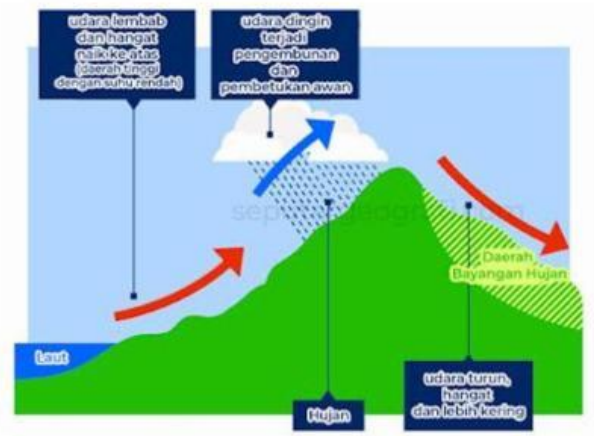

FRONTAL

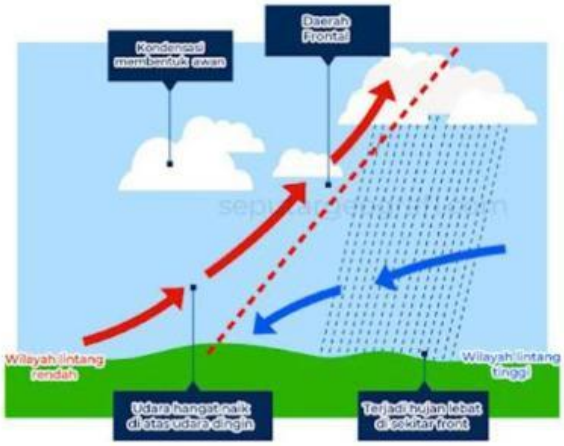

ZENITHAL

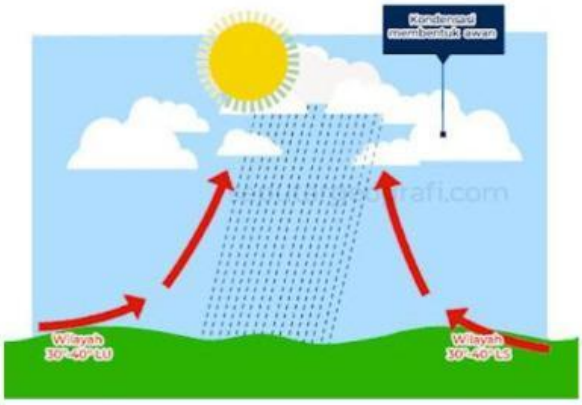

OROGRAFIS

LIVEWORKSHEETS