LKPD

MATEMATIKA KELAS 2

POSISI BENDA

Nama: Kelas:

LIVEWORKSHEETS

Ayo menyimak video

simaklah materi video yang ada di link YouTube ini

LIVEWORKSHEETS

Memberi warna

Pilihlah jawaban yang tepat dengan memberi warna pada kotak jawaban yang benar!

Dimanakah letak boneka?

atas meja | bawah meja

Dimanakah letak makanan?

Dalam kulkas | Luar kulkas

Apa yang terletak di tengah?

Pohon | Rumah

Apa yang didalam toples?

Roti | Permen

Apa yang terletak di sebelah kiri tas?

Pensil | Buku

Apa yang di atas rumah?

Burung | Sapi

Dimanakah letak ikan?

Atas laut | Dalam laut

Dimanakah letak bola?

Atas kursi | Bawah kursi

LIVEWORKSHEETS

Menyilang jawaban yang benar

ayo perhatikan gambarnya dimanakah posisi mereka, pilih posisi yang sesuai dengan gambarnya ya!

apel ada di .....

a. dalam
b. atas
c. belakang

apel ada di .....

a. dalam
b. atas
c. belakang

apel ada di .....

a. dalam
b. atas
c. bawah

kucing ada di .....

a. dalam
b. belakang
c. bawah

adi ada di .....

a. dalam
b. belakang
c. bawah

adi ada di .....

a. dalam
b. depan
c. bawah

monyet ada di .....

a. dalam
b. depan
c. bawah

monyet ada di .....

a. dalam
b. depan
c. samping



LIVEWORKSHEETS

Isilah titik-titik yang rumpang

Apel ..... Buku



Wortel ..... kelinci

Ikan ..... batu

Ikan ..... batu

Boneka ..... Kursi

Bola ..... Meja

Bola ..... Meja

Ikan ..... batu



Wortel ..... kelinci

Boneka ..... Kursi

Ikan ..... batu

Apel ..... Buku

LIVEWORKSHEETS

Suku kata yang rumpang

POSISI DAN LETAK

Tulislah suku kata di bawah ini sesuai dengan warnanya!

1. Buku-buku berada di _____ rak buku.
2. Globe berada di _____ lemari.
3. Karpet berada di _____ meja.
4. Pohon berada di _____ ruangan.
5. Tas berada di _____ boneka.
6. Mobil berada di _____ kardus.
7. Meja berada di _____ bantal.

LIVEWORKSHEETS