Bài tập 1: Chọn đáp án đúng.

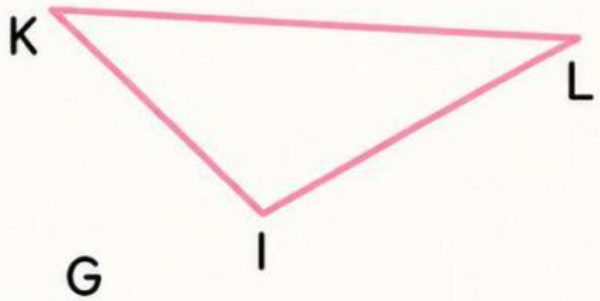

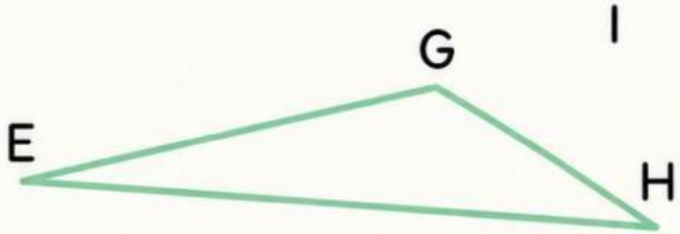

- Hình bên trên là hình ..... / .....,
  có ..... / ..... đỉnh,
  là các đỉnh ..... / .....,
  có ..... / ..... cạnh,
  là các cạnh ..... / ..... .

- Hình bên dưới là hình ..... / .....,
  có ..... / ..... đỉnh,
  là các đỉnh ..... / .....,
  có ..... / ..... cạnh,
  là các cạnh ..... / ..... .

LIVEWORKSHEETS

Bài tập 1: Chọn đáp án đúng.

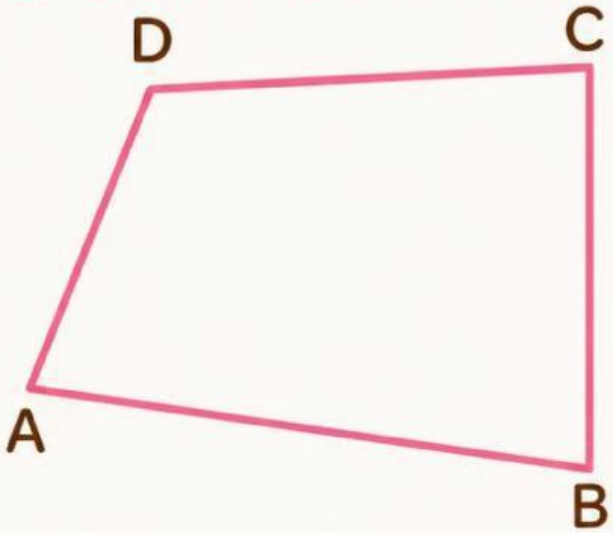

- Đây là hình ..... / ..... ,

có ..... / ..... đỉnh,

là các đỉnh ..... / ..... ,

có ..... / ..... cạnh,

là các cạnh ..... / ..... .

- Đây là hình ..... / ..... ,

có ..... / ..... đỉnh,

là các đỉnh ..... / ..... ,

có ..... / ..... cạnh,

là các cạnh ..... / ..... .

LIVEWORKSHEETS

Bài tập 2: Chọn đáp án đúng.

1 Hình tam giác là hình có 3 đỉnh, 4 cạnh.

2 Hình có 4 đỉnh, 4 cạnh là hình tứ giác.

3 Hình có 3 đỉnh, 3 cạnh là hình tam giác.

Bài tập 3: Điền vào chỗ trống.

.....

.....

Miếng Pizza có hình: .....

Mặt bàn có hình: .....

LIVEWORKSHEETS