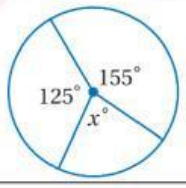
الاسم:

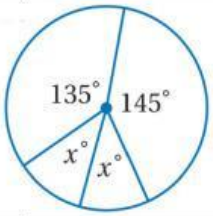
# 2 – 8 قياس الزوايا والأقواس

1/ من الشكل المجاور $x =$ – – –



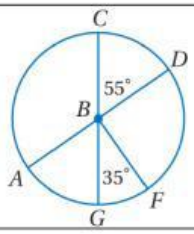

| | | | |
|---|---|---|---|
| A) 360° | B) 280° | C) 80° | D) 40° |

2/ من الشكل المجاور $x =$ – – –




| | | | |
|---|---|---|---|
| A) 360° | B) 280° | C) 80° | D) 40° |

3/ $\overline{AD}, \overline{CG}$ قطران في $\odot B$ فإن: $m\widehat{DF} =$ – – –




| | | | |
|---|---|---|---|
| A) 20° | B) 35° | C) 55° | D) 90° |

4/ من الشكل السابق في السؤال الثالث فإن: $m\widehat{CG} =$ – – –

| | | | |
|---|---|---|---|
| A) 90° | B) 180° | C) 325° | D) 360° |

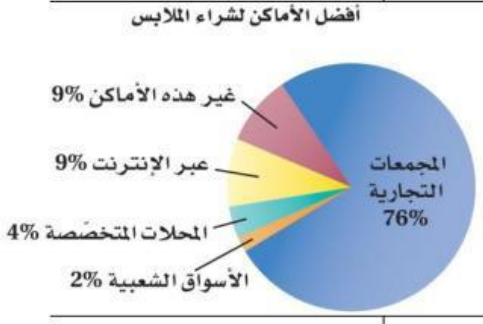
5/ من الشكل السابق في السؤال الثالث فإن: $m\widehat{GCF} =$ – – –

| | | | |
|---|---|---|---|
| A) 90° | B) 180° | C) 325° | D) 360° |

6/ في الدائرة نفسها أو في دائرتين متطابقتين، يكون القوسان متطابقين إذا وفقط إذا كانت الزاويتان المركزيتان المناظرتان لهما – – –

| | | | |
|---|---|---|---|
| A) متطابقتين | B) متكاملتين | C) متتامتين | D) متحالفتين |

7/ تسوّق: يعرض الشكل المجاور نتائج استطلاع حول المكان المفضل لشراء الملابس، شمل مجموعة من الشباب: ما قياس القوس المقابل لفئة التسوق في كلّ من المجمعات التجارية والمحلات المتخصصة؟





| | | | |
|---|---|---|---|
| A) 284.4° | B) 270° | C) 255.6° | D) 14.4° |

8/ من السؤال السابق: القوس المقابل لفئة التسوق في – – – وَ – – – متطابقان.

| | |
|---|---|
| A) المجمعات التجارية والمحلات المخصصة | B) غير هذه الأماكن وعبر الانترنت |
| C) المجمعات التجارية وعبر الانترنت | D) المجمعات التجارية والأسواق الشعبية |

LIVEWORKSHEETS

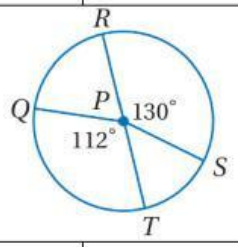



9/ في العجلة الدوارة في الشكل المجاور $m\widehat{HK} =$ ــ ــ ــ

| | | | |
|---|---|---|---|
| A) $40°$ | B) $60°$ | C) $100°$ | D) $220°$ |

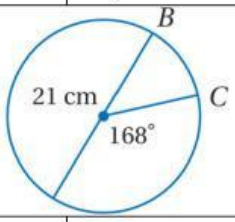
10/ في العجلة الدوارة السابقة $m\widehat{JKG} =$ ــ ــ ــ

| | | | |
|---|---|---|---|
| A) $40°$ | B) $60°$ | C) $100°$ | D) $220°$ |




11/ $RT$ قطر في $\odot P$. إذا كان $r = 2in$ فإن:
طول القوس $\widehat{RS}$ مقربًا إلى أقرب جزء من مئة يساوي ــ ــ $\ell =$

| | | | |
|---|---|---|---|
| A) $4.54\ in$ | B) $3.91\ in$ | C) $2.27\ in$ | D) $1.95\ in$ |




12/ طول القوس $\widehat{BC}$ مقربًا لأقرب جزء من مئة يساوي ــ ــ ــ $\ell =$

| | | | |
|---|---|---|---|
| A) $2.20\ cm$ | B) $4.40\ cm$ | C) $30.79\ cm$ | D) $61.58\ cm$ |



13/ قطعت خديجة فطيرة تفاح أربع قطع على طول أربع أنصاف أقطار،
فكانت الزوايا المركزية للأقسام الأربعة هي: $3x, 5x, 6x - 10, 4x + 10$
فإن قياس كل من الزوايا الأربع على التوالي هو: ــ ــ ــ ــ

| | |
|---|---|
| A) $50°, 100°, 90°, 120°$ | B) $60°, 100°, 110°, 90°$ |
| C) $20°, 90°, 100°, 130°$ | D) $60°, 100°, 70°, 90°$ |

14/ اقرن قياس الزاوية المركزية بنوع الوجبة المقدمة على الطائرة.



## العمود الثاني

90° /1

54° /2

216° /3

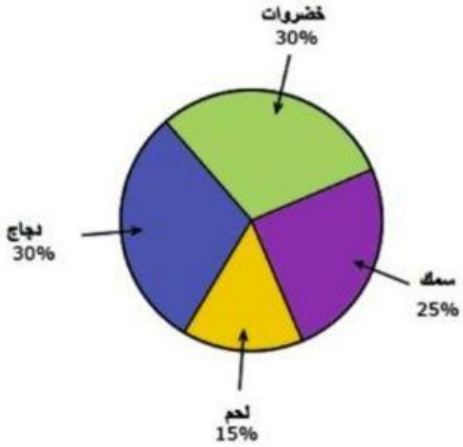
108° /4

198° /5



غنياتي لكِ بالعوق/

معلمتك المحبة/ د. إيمان التركي




## العمود الأول

( ــ ــ ) سمـــــــــك

( ــ ــ ) خضروات ودجاج

( ــ ــ ) لحـــــــــم

( ــ ــ ) دجـــــــاج

LIVEWORKSHEETS