ورقة عمل طبقا للخطة التربوية الفردية

مدرسة أبو سعيد الخدري مادة الرياضيات الصف الحادي عشر عام

اسم الطالب :

جد عدد أوجه المجسمات التالية:

-1

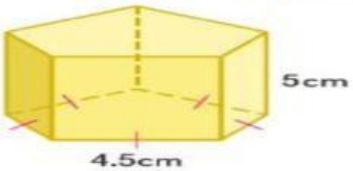

عدد الأوجه = ☐

-2

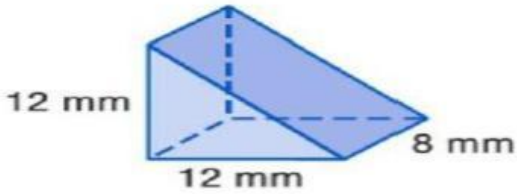

عدد الأوجه = ☐

-3

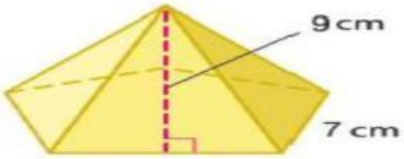

عدد الأوجه = ☐

LIVEWORKSHEETS