LEMBAR KERJA PESERTA DIDIK

LKPD

ILMU PENGETAHUAN SOSIAL

KERAGAMAN ASPEK KERUANGAN DAN WAKTU DI INDONESIA

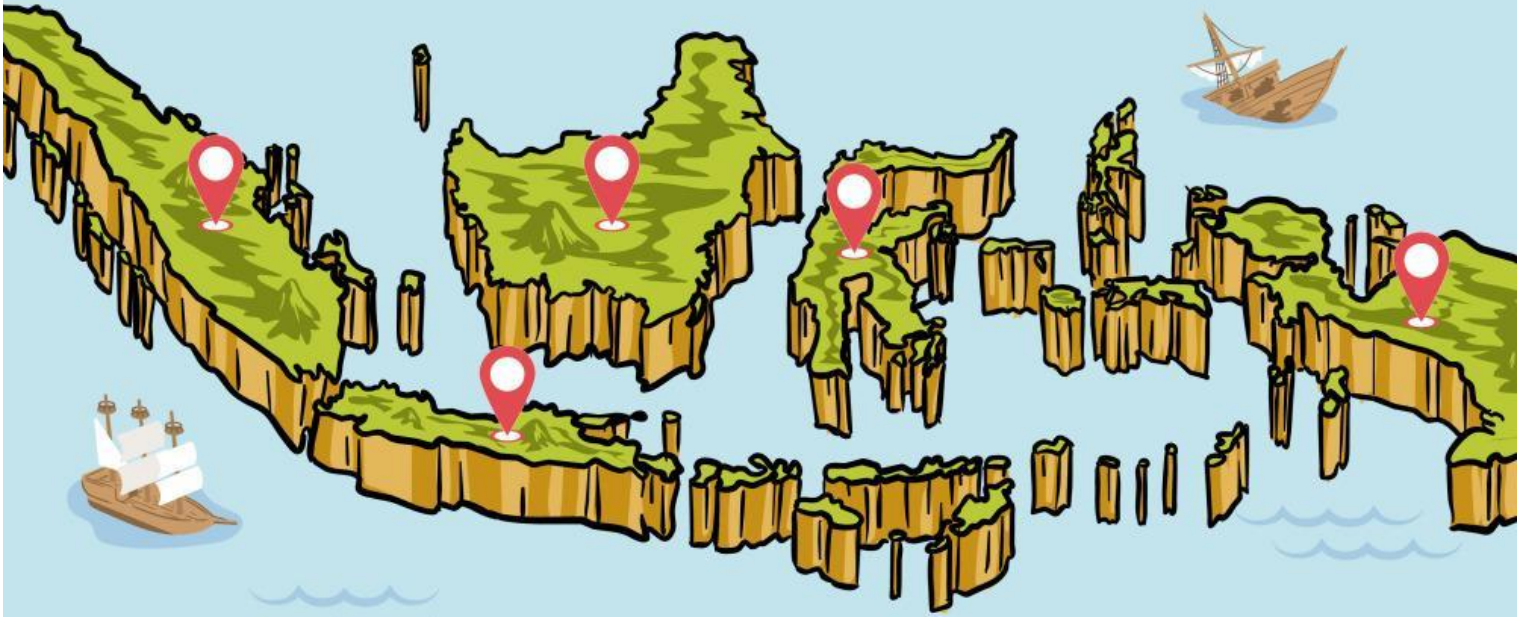

A. IDENTITAS PESERTA DIDIK

Nama: Kelas:

LIVEWORKSHEETS

B. TUJUAN PEMBELAJARAN

Setelah mengerjakan LKPD ini, peserta didik diharapkan mampu:

1. Menjelaskan pengertian keragaman aspek keruangan
2. Menjelaskan pengertian aspek waktu
3. Menyebutkan contoh keragaman wilayah di Indonesia
4. Menjelaskan perubahan yang terjadi dari waktu ke waktu

C. PETUNJUK PENGERJAAN

1. Bacalah materi dengan teliti
2. Jawablah setiap pertanyaan dengan benar
3. Kerjakan secara mandiri atau kelompok
4. Diskusikan jika ada yang belum dipahami

LIVEWORKSHEETS

D. KEGIATAN 1: MENGELOMPOKKAN KERAGAMAN RUANG

Beri tanda (✓) pada kolom yang tepat!

No	Pernyataan	Keragaman Ruang	Aspek Waktu
1	Daerah pantai banyak nelayan		
2	Transportasi dulu masih tradisional		
3	Daerah pegunungan banyak petani		
4	Teknologi semakin canggih		
5	Kota memiliki banyak gedung tinggi		

LIVEWORKSHEETS

E. KEGIATAN 2: PILIHAN GANDA

Petunjuk: Pilihlah jawaban yang paling tepat dengan memberi tanda silang (X) pada huruf a, b, c, atau d!

1. Keragaman ruang adalah...

A. Perbedaan wilayah
B. Persamaan wilayah
C. Perubahan waktu
D. Perpindahan manusia

2. Contoh keragaman ruang adalah...

A. Gunung dan pantai
B. Waktu pagi dan malam
C. Jam dan kalender
D. Tahun dan bulan

3. Aspek waktu berkaitan dengan...

A. Tempat
B. Perubahan
C. Wilayah
D. Peta

4. Contoh perubahan waktu adalah...

A. Laut
B. Sungai
C. Teknologi berkembang
D. Gunung

5. Mata pencaharian nelayan terdapat di daerah...

A. Pegunungan
B. Pantai
C. Kota
D. Hutan

LIVEWORKSHEETS

F. KEGIATAN 3: ISIAN SINGKAT

Petunjuk: Jawablah pertanyaan-pertanyaan di bawah ini dengan jawaban yang singkat dan tepat!

1. Keragaman ruang adalah

_____

2. Aspek waktu adalah

_____

3. Contoh keragaman ruang di Indonesia adalah

_____

4. Contoh perubahan dari waktu ke waktu adalah

_____

5. Manfaat keragaman adalah

_____

G. KEGIATAN 4: SUSUN KATA (ANAGRAM)

Susun huruf berikut menjadi kata yang benar!

1. TAINPA → _____
2. GNUGUN → _____
3. UTKWA → _____
4. NELYAAN → _____
5. KOAT → _____

LIVEWORKSHEETS

H. KEGIATAN 5: PILIH GAMBAR

Pilih gambar yang menunjukkan keragaman ruang

LIVEWORKSHEETS

I. KEGIATAN 6: PILIH GAMBAR

Pilih gambar yang menunjukkan perubahan waktu

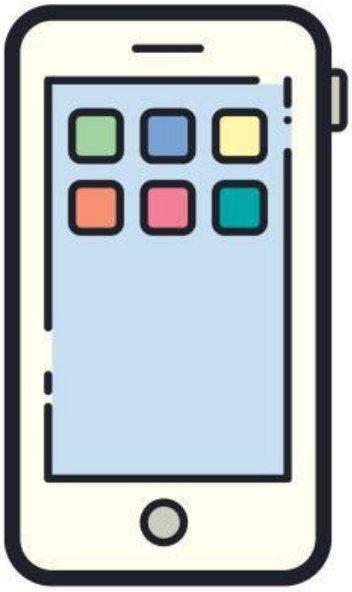



LIVEWORKSHEETS

KESIMPULAN

Tuliskan kesimpulanmu tentang:
Keragaman ruang dan perubahan waktu di Indonesia!

LIVEWORKSHEETS