الاسم :

مملكة البحرين
وزارة التربية والتعليم
مدرسة البديع الابتدائية للبنين

الصف :

أ) صنف كلا من أزواج الزوايا الآتية إلى : متتامتين ، أو متكاملتين، أو غير ذلك :

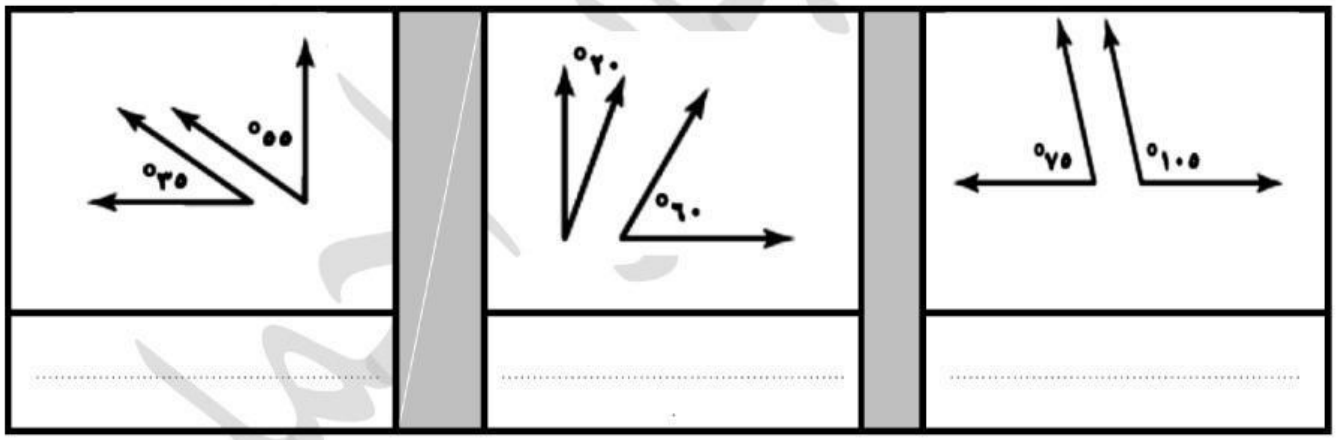

ب) أوجد قيمة س في كل من الأشكال الآتية بدون استخدام المنقلة :

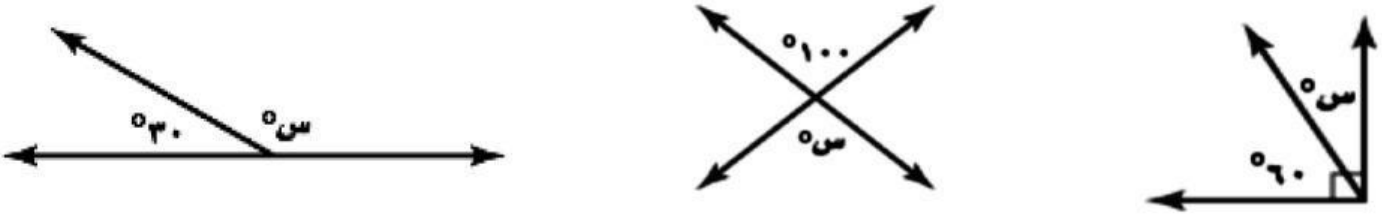

س = ... ° س = ... ° س = ... °

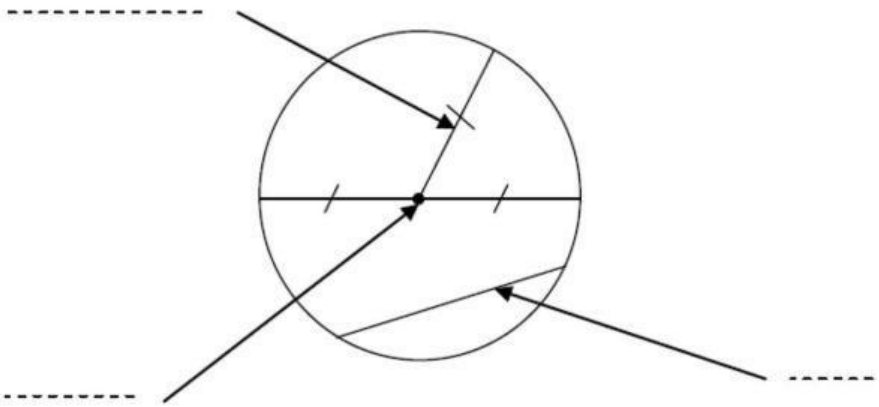

نصف قطر

مركز الدائرة

وتر

صنف كلا من المثلثات إلى : حاد الزوايا ، أو قائم الزاوية ، أو منفرج الزاوية :-

٩٠° ، ٦٠° ، ٣٠°

LIVEWORKSHEETS