Nama :..... Kelas :.....

SIFAT-SIFAT CAHAYA

Amati gambar berikut ini kemudian tarik garis untuk menentukan sifat-sifat cahaya yang tepat!

Cahaya Mengalami Pelenturan

Menembus Benda Bening

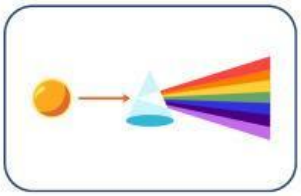

Bisa Dipantulkan

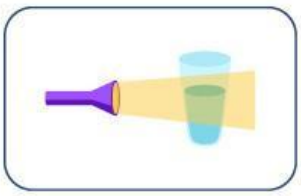

Bisa Diuraikan

Merambat Lurus

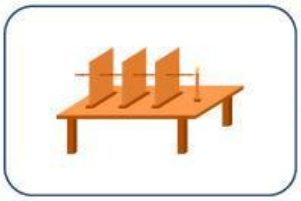

Cahaya Bisa Dibiaskan

LIVEWORKSHEETS

SIFAT CAHAYA

Selesaikan teka-teki silang di bawah ini dengan tepat!

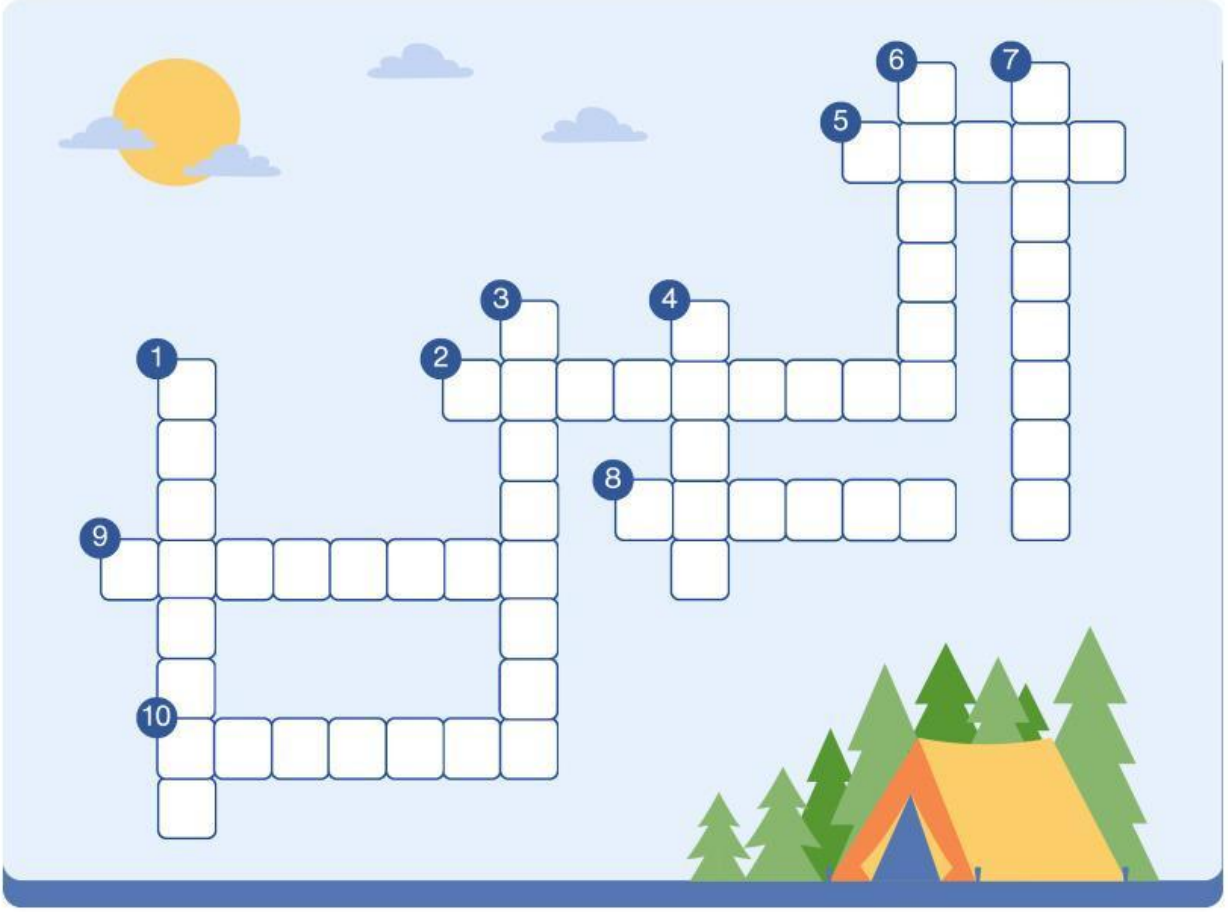

Mendatar

2. Ketika cahaya mengenai cermin, cahaya tersebut akan di.....
5. Cahaya tidak dapat menembus benda .....
8. Benda yang menghasilkan cahaya disebut ..... cahaya.
9. Cahaya bisa dibiaskan atau .....
10. Pelangi terbentuk karena cahaya matahari yang di.....

Menurun

1. Cahaya dapat ..... benda bening.
3. Cahaya yang terhalang benda akan membentuk .....
4. Cahaya bergerak atau merambat dalam garis .....
6. Benda yang dapat memantulkan cahaya.
7. Sumber energi cahaya utama dan terbesar di Bumi.

LIVEWORKSHEETS