Тапсырмалар

1. Егер 3x + 5 = 20 болса, x мәні:
A) 3
B) 5
C) 7
D) 10

2. Қатар: 2, 6, 18, 54, ... келесі сан қандай?
A) 72
B) 108
C) 162
D) 216

3. Егер барлық мысықтар жануар, ал кейбір жануарлар қара болса, онда:
A) Барлық мысықтар қара
B) Кейбір мысықтар қара
C) Мысықтар міндетті түрде қара емес
D) Барлық жануарлар мысық

4. 5 адам бір-бірімен қол алысса, неше қол алысу болады?
A) 5
B) 10
C) 15
D) 20

5. Барлық тақ сандар жай сан.

Жауабы:

6. Егер a > b, онда a + c > b + c.

Жауабы:

7. Үшбұрыштың бұрыштарының қосындысы 180°.

Жауабы:

8. Сәйкестендіріңіз

Тізбектер	Заңдылық
2,4,6,8	Әр сан 2-ге көбейеді
3,6,12,24	Әр санға 2 қосылады
5,10,20,40	Әр сан екіге еселенеді

9. Дұрыс жауапты сәйкестендіріңіз

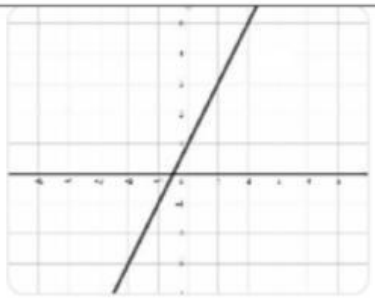	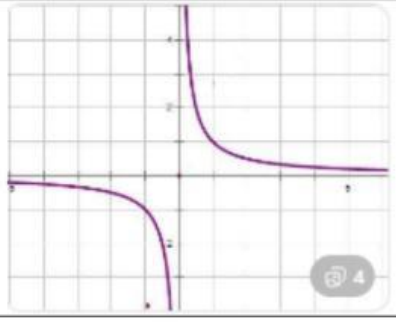	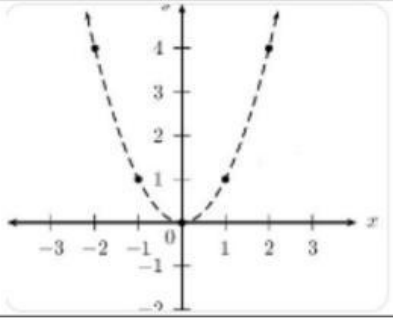

$y=x^2$ **$y=2x+1$** **$y=1/2$**

LIVEWORKSHEETS