מגרף לתכונות

By Rottem De-Picciotto

שם:_____

שאלה 1

ew

1 of 10 Next

כמה נקודות אפס יש לפונקציה הנתונה ומהי נקודת החיתוך עם ציר ה y?

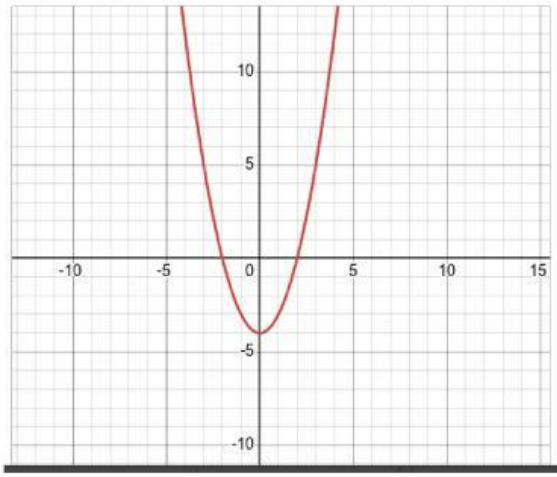

מספר נקודות אפס	נקודת חיתוך עם ציר ה y
	(,)

שאלה 2

מהו תחום השליליות של הפונקציה?

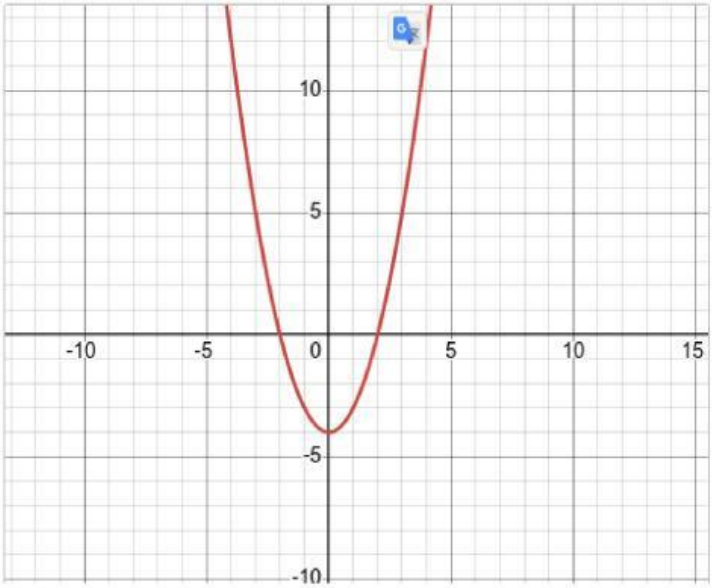

- $x > 2,\ x < -2$
- $-4 < x < 2$
- $-2 < x < 2$
- $x < -4,\ x > 2$

LIVEWORKSHEETS

שאלה 3

כמה נקודות אפס יש לפונקציה הנתונה ומהי נקודת החיתוך עם ציר ה y?

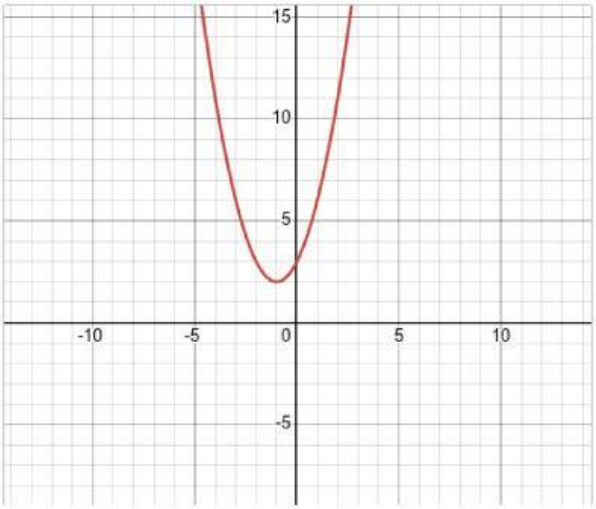

מספר נקודות אפס	נקודת חיתוך עם ציר ה y
	(,)

שאלה 4

נתון כי גרף הפונקציה הנתונה שלילית עבור כל x

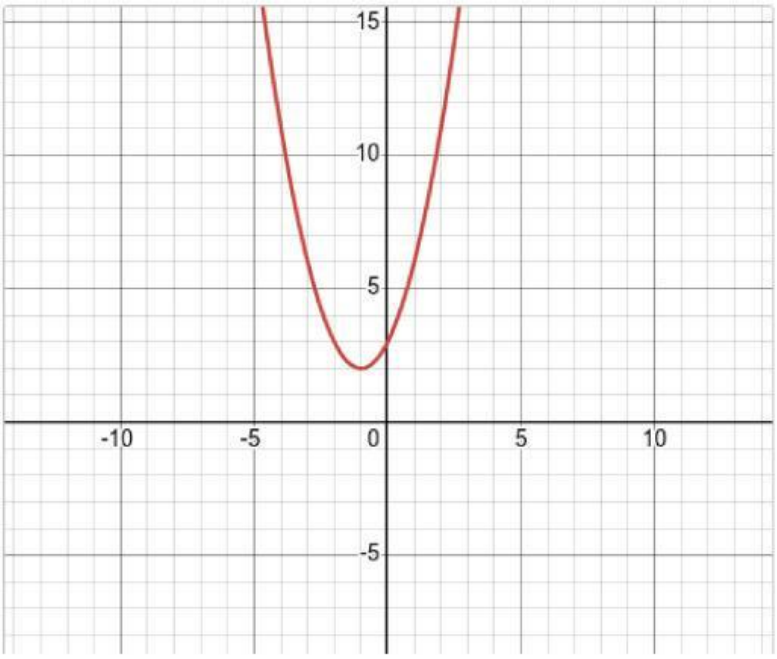

- נכון
- לא נכון
- לא ניתן לדעת

LIVEWORKSHEETS

שאלה 5

כמה נקודות אפס יש לפונקציה הנתונה ומהי נקודת החיתוך עם ציר ה y?

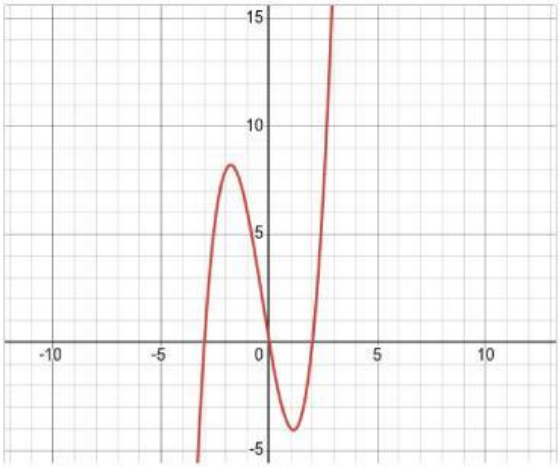

מספר נקודות אפס	נקודת חיתוך עם ציר ה y
	(,)

שאלה 6

מהו תחום החיוביות של הפונקציה?

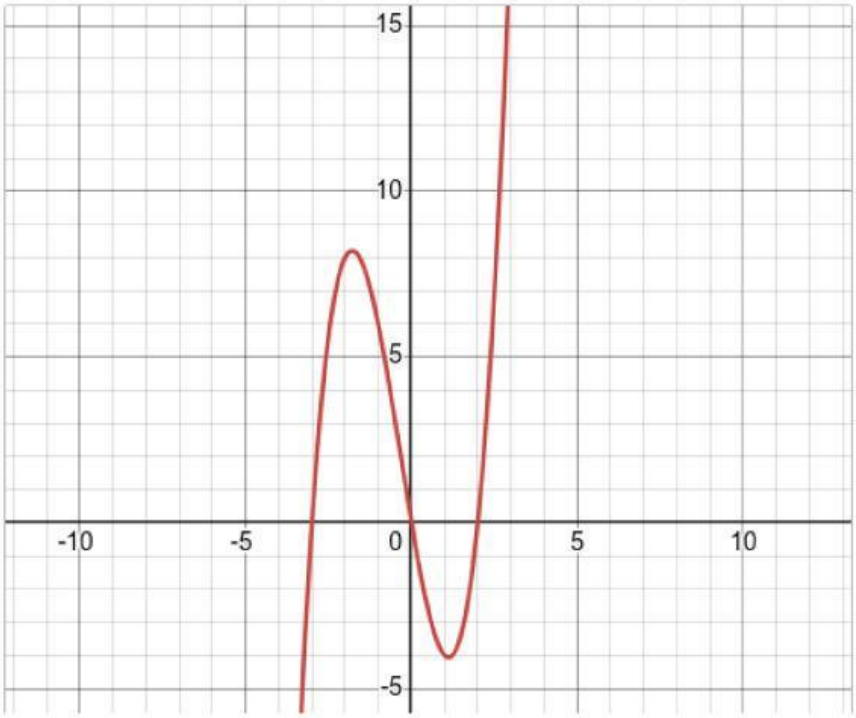

- $-3 < x < 2$
- $x < -3,\ 0 < x < 2$
- $x < -3,\ x > 2$
- $-3 < x < 0,\ \ x > 2$

LIVEWORKSHEETS

שאלה 7

כמה נקודות אפס יש לפונקציה הנתונה ומהי נקודת החיתוך עם ציר ה y?

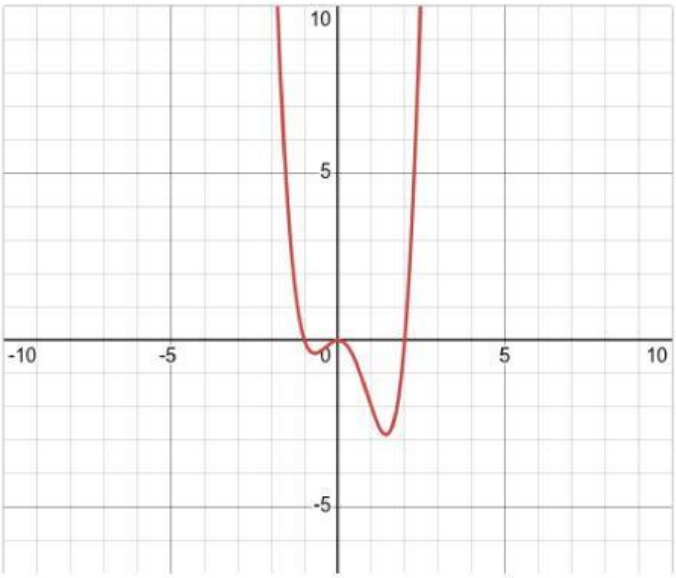

מספר נקודות אפס	נקודת חיתוך עם ציר ה y
	(,)

שאלה 8

מהו תחום השליליות של הפונקציה?

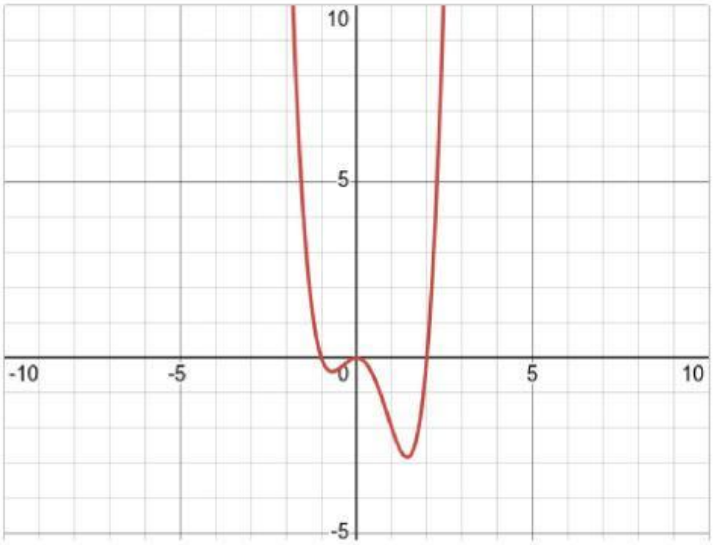

LIVEWORKSHEETS

שאלה 9

כמה נקודות אפס יש לפונקציה הנתונה ומהי נקודת החיתוך עם ציר ה y?

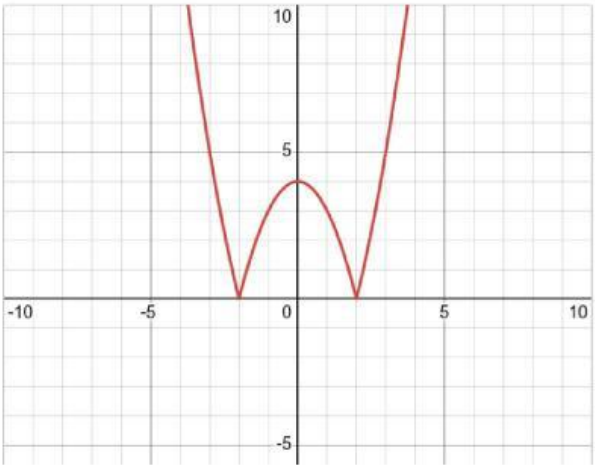

מספר נקודות אפס	נקודת חיתוך עם ציר ה y
	(, |)

שאלה 10

מהו תחום החיוביות של הפונקציה?

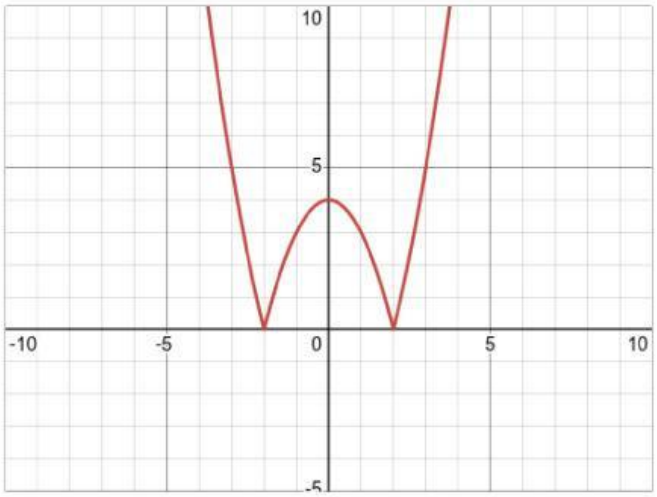

LIVEWORKSHEETS