Провера знања

1. Осенчене делове фигура представи разломком и у сваком од њих одреди бројилац и именилац.

а)

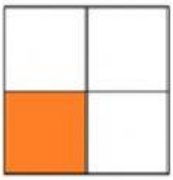

$\frac{\square}{\square}$

б)

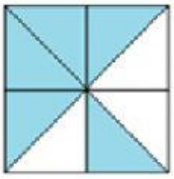

$\frac{\square}{\square}$

в)

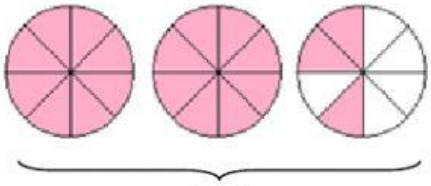

$\frac{\square}{\square}$

2. Мешовит број напиши у облику неправог разломка: а) $2\frac{3}{4} = \frac{\square}{\square}$ б) $7\frac{2}{5} = \frac{\square}{\square}$

3. Дате разломке прошири бројем 6 : а) $\frac{2}{3} = \frac{\square}{\square}$ б) $\frac{8}{5} = \frac{\square}{\square}$

4. Дате разломке скрати до несводљивог: а) $\frac{10}{15} = \frac{\square}{\square}$ б) $\frac{48}{72} = \frac{\square}{\square}$

5. Упореди разломке (упиши знак >, < или =):

$\frac{9}{11}$ ☐ $\frac{13}{11}$; 2 ☐ $\frac{8}{3}$; $\frac{12}{10}$ ☐ $\frac{12}{11}$; $\frac{5}{5}$ ☐ 1

6. На кружници k(O, 3cm) обележи тачке А и В тако да дуж АВ буде пречник, МА тетива и два ОВ полупречник круга.

7. Централном симетријом пресликај:

а) дуж АВ у односу на центар симетрије О.

б) троугао АВС у односу на тачуку О као центар симетрије.

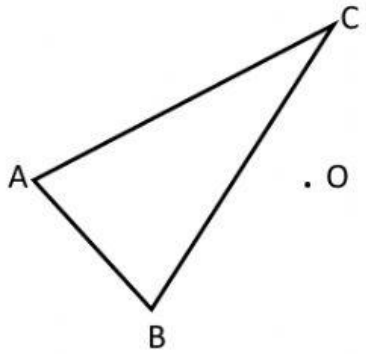

LIVEWORKSHEETS