تعليم متمايز

عنوان الدرس : مساحة الدائرة والقطاع الدائري

ناتج تعلم (2): التوسع في دراسة مساحات القطاع الدائري

تقييم ختامي

التمرين وحل المسائل

تعطى المساحة A لكل منطقة مظللة. جـد قيمة x.

28. $A = 94\ cm^2$

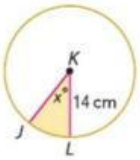

جـد مساحة كل قطاع مظلل وقربها إلى أقرب جزء من عشرة إذا لزم الأمر.

23.

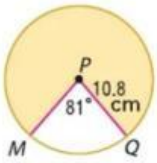

20.

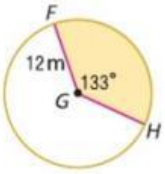

LIVEWORKSHEETS

LIVEWORKSHEETS