الاسم:-

الطول و الارتفاع

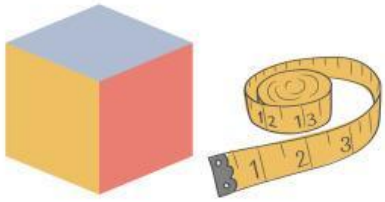

احسب عدد المكعبات التي تُعبر عن طول كل مجسم. اكتب عدد المكعبات في الخط المحدد.

_____

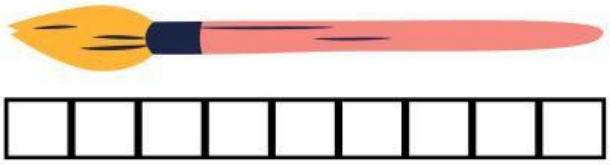

_____

_____

_____

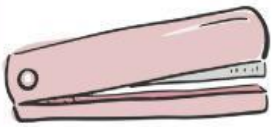

_____

_____

https://t.me/hajar_alkaabi605

LIVEWORKSHEETS