A. Kegiatan Enaktif

MENGENAL BUAH

Perhatikan gambar buah di bawah ini.

Sebutkan nama buah tersebut dengan mengucapkan jawabannya (dengan bantuan orangtua/guru).

LIVEWORKSHEETS

MENGENAL BUAH

Perhatikan gambar buah di bawah ini.

Sebutkan Jumlah buah tersebut dengan mengucapkan jawabannya (dengan bantuan orangtua/guru).

LIVEWORKSHEETS

BERHITUNG BUAH

Perhatikan gambar buah di bawah ini.

Mari Pindahkan buah kedalam keranjang yang kosong sambil berhitung

LIVEWORKSHEETS

B. KEGIATAN IKONIK

Perhatikan gambar buah di bawah ini.

Sebutkan Jumlah buah tersebut dengan mengucapkan jawabannya (dengan bantuan orangtua/guru).







LIVEWORKSHEETS

KEGIATAN MENARIK DAN MENGHITUNG BUAH

Perhatikan gambar buah di bawah ini.

Mari menghitung buah dan memasukkannya ke keranjang (dengan bantuan orangtua/guru).

6 7 8 9 10

LIVEWORKSHEETS

KEGIATAN MENGHITUNG BUAH

Perhatikan gambar buah di bawah ini.

Mari menghitung buah dan memasukkannya ke keranjang (dengan bantuan orangtua/guru).

Ibuk Tina Ingin Membeli apel 6 tetapi apel dikeranjang pak tani hanya ada 2. berapakah apel yang harus dipanen oleh pak tani

LIVEWORKSHEETS

BELAJAR PENGURANGAN

Hitunglah jumlah buah yang busuk, kemudian hubungkan sesuai jumlahnya dengan cara menarik garis!









8

10

6

9

7

LIVEWORKSHEETS

C. Kegiatan Simbolik

URUTKAN ANGKA

Perhatikan gambar buah di bawah ini.

Susunlah menjadi urutan yang benar dari 1 sampai 10.

.....

LIVEWORKSHEETS

URUTKAN ANGKA

Perhatikan gambar buah di bawah ini.

Susunlah menjadi urutan yang benar dari 11 sampai 20.

.....

LIVEWORKSHEETS

COCOKKAN ANGKA

Perhatikan angka dan gambar buah di bawah ini.

Tarik garis untuk menghubungkan angka dengan jumlah buah yang sesuai.







2

1

3

4

6

LIVEWORKSHEETS

SOALCERITA

Baca cerita di bawah ini.

Kemudian hitung dan tuliskan jawabannya.

Ani punya 2 apel , lalu diberi 1 apel lagi .

Jadi, jumlah apel Ani sekarang =

Budi punya 3 pisang , lalu dimakan

1 pisang . Sisa pisang Budi =

Siti punya 1 jeruk , lalu diberi 2 jeruk lagi

Jadi, jumlah jeruk Siti sekarang =

Andi punya 4 anggur , lalu dimakan

2 anggur . Sisa anggur Andi =

Rina punya 2 alpukat dan diberi 2 alpukat

lagi. Jadi, jumlah alpukat Rina sekarang =

LIVEWORKSHEETS

PENJUMLAHAN

Perhatikan gambar buah di bawah ini.

Hitung dengan benar, lalu tuliskan jawabannya.



LIVEWORKSHEETS

PENGURANGAN

Perhatikan gambar buah di bawah ini.

Hitung dengan benar, lalu tuliskan jawabannya.



LIVEWORKSHEETS