٢) أوجد دجـ في الشكل المجاور.

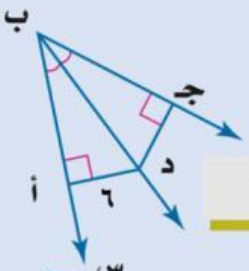

أ ١٢

ب ٤

ج ٣

د ٦

١) أوجد قـ ع ص و في الشكل المجاور.

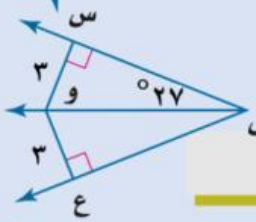

أ ٢٧

ب ٥٤

ج ٣٣

د ٥٠

١) أوجد م ر في الشكل المجاور.

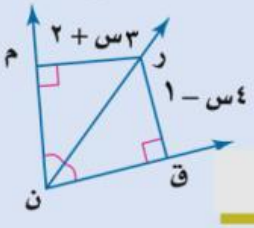

أ ١٣°

ب ١١°

ج ٣°

د ٥°

https://www.liveworksheets.com/worksheets/ar/الثالث اعدادي/والمتصفات في المثلث&db=2&r=aq&sr=n&l=et&i=sfddto&t=mlu9m57kppv
LIVEWORKSHEETS