2-р анги “Математик” Бататгал

1. Дараалыг ажиглан тоог нөхөж бичээрэй.

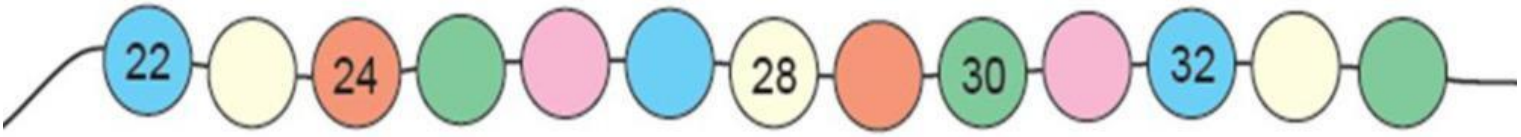

2. Зүй тогтолын дагуу тоог бодож зөв тоог бичнэ үү?



3. 4-д хуваагдах тоонуудыг олоод, будаарай.

	4	5	6
7	8		10
11		13	
15	16		

4. Тэгш хэмтэй зургийг сонгоно уу?



5. Зүй дараалалыг ажиглан буруу тоог олоорой.

LIVEWORKSHEETS

6. Дараах зурагт юу байгааг ажиглан аль нь тоглоом, аль нь хичээлийн хэрэгсэл вэ? Дараах хүснэгтэнд зөөж тавина уу?

Хичээлийн хэрэгсэл	Тоглоом

7. Дараах аравтын блокыг тоолон хүснэгтэнд нөхөж бодно уу?

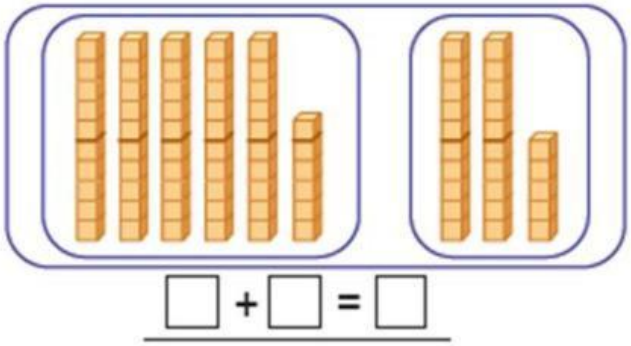

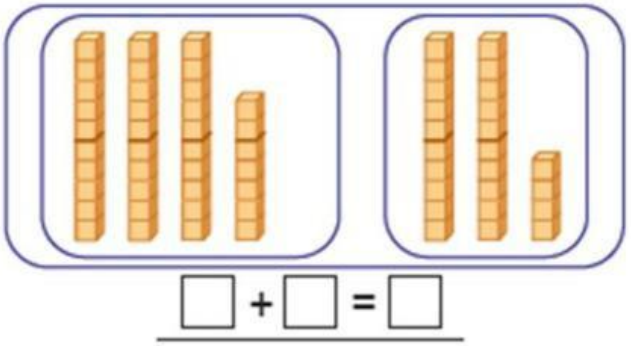

8. 16 чихрийг 2, 2-оор хайрцагт хуваааж хийгээрэй.

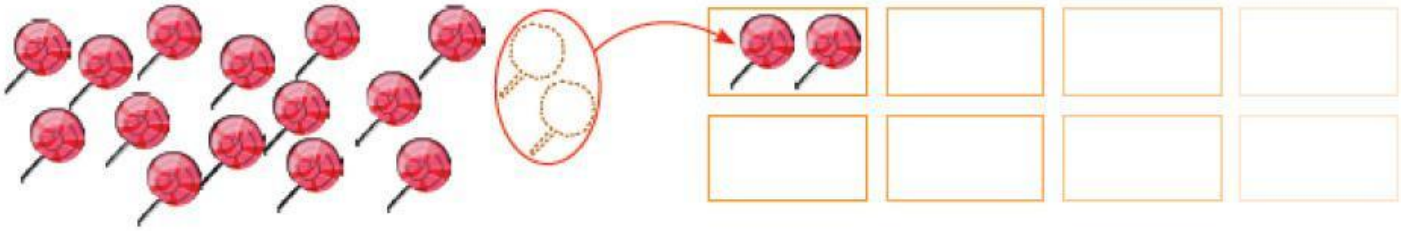

LIVEWORKSHEETS

9. Аналоги цагийг уншаад , тохирох үйл явдалтай холбоорой . Аль цагт, ямар үйлийг хийж болох вэ?

10. Зургийг цагтай холбоорой.

LIVEWORKSHEETS