# ورقة عمل 1

**السؤال رقم (1)**

أي مما يأتي حلا للمعادلة: $x - 9 = 3$ ؟

A $3$

B $6$

C $12$

D $27$

**السؤال رقم (2)**

أي مما يلي يمثل حلا للمعادلة $b - 3 = 3$ ؟

A $9$

B $6$

C $5$

D $3$

**السؤال رقم (3)**

إذا كان $3x = 12$ فأي من خواص المساواة استعملت لإبقاء طرفي المعادلة:
$3x \div 5 = 12 \div 5$ متساويين؟

A خاصية الجمع للمساواة

B خاصية الضرب للمساواة

C خاصية الطرح للمساواة

D خاصية القسمة للمساواة

**السؤال رقم ( 4 )**

ما المتباينة التي تمثل الموقف التالي : "عدد اللترات n لا يساوي 12 لتر"؟

A $n > 12$

B $n \neq 12$

C $n < 12$

D $n \leq 12$

LIVEWORKSHEETS

**السؤال رقم (5)**

حدد القيمة التي تمثل حلا للمتباينة $t > 16$

A **10**

B **12**

C **16**

D **18**

**السؤال رقم (6)**

ما نسبة عدد النجوم إلى عدد الدوائر في الشكل أدناه؟



A **3 : 8**

B **8 : 3**

C **5 : 3**

D **3 : 5**

**السؤال رقم (7)**

أي النسب التالية تكافئ 2:5 ؟

A 4:15

B 10:4

C 2:10

D 4:10

**السؤال رقم (8)**

أي النسب التالية تكافئ 1:3 ؟

A 3:1

B 3:5

C 2:6

D 2:4

LIVEWORKSHEETS

## السؤال رقم (9)

يعرض التمثيل البياني أدناه العلاقة بين عدد البالونات وتكلفتها.

ما تكلفة شراء 12 بالونا؟

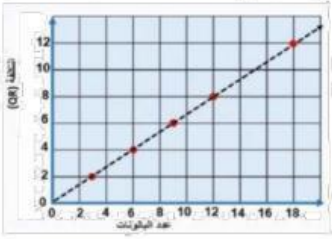


A 4

B 8

C 10

D 12

## السؤال رقم (10)

يعرض التمثيل البياني أدناه العلاقة بين عدد البالونات وتكلفتها.

ما تكلفة شراء 18 بالونا؟

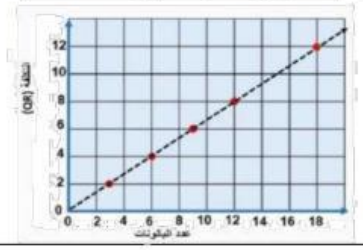


A 4

B 8

C 10

D 12

LIVEWORKSHEETS