Pembelajaran Kelas 6
Tema 8 Subtema 3
Pembelajaran 1

Bumi, Matahari, dan Bulan

Baca Materi Berikut ini!

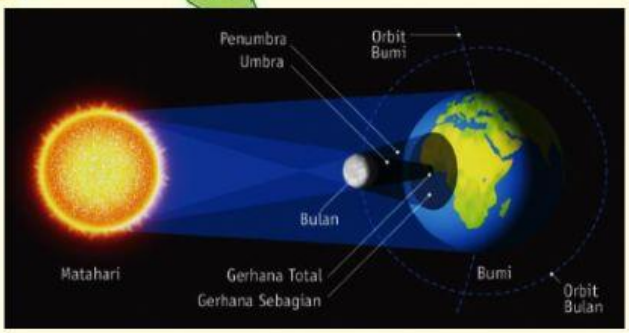

Gerhana matahari jika Matahari, bulan bumi terletak pada satu garis lurus. Gerhana Matahari terjadi pada waktu siang hari.

Gerhana Matahari terjadi karena cahaya matahari yang menuju bumi terhalang oleh bulan.

LIVEWORKSHEETS

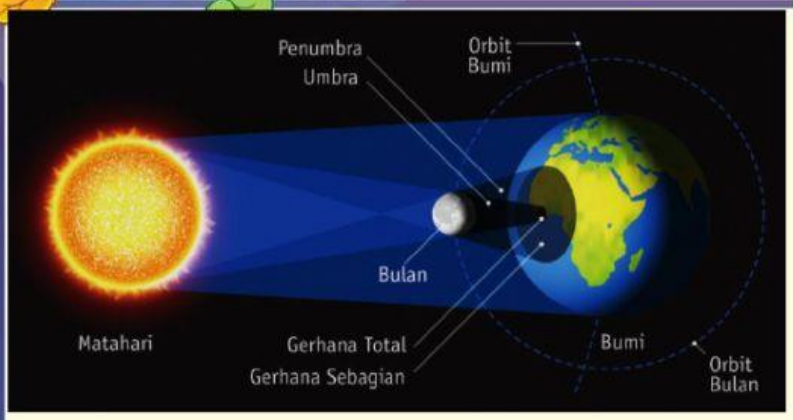

Gerhana matahari Total jika Matahari, bulan bumi terletak pada satu garis lurus. Bagian permukaan bumi tertutup bayangan inti/umbra bulan

Gerhana matahari Sebagian , apabila sebagian matahari terhalang bulan, sehingga Bagian permukaan bumi tertutup bayangan kabur/penumbra bulan

LIVEWORKSHEETS

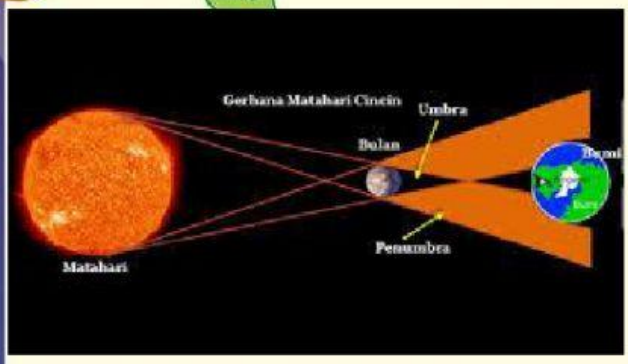

Gerhana matahari Cincin , apabila Bulan berada pada titik terjauh dari bumi, sehingga Bagian permukaan bumi tertutup perpanjangan dari bayangan inti/umbra bulan

Cara menemukan info penting

1. Membaca dengan seksama suatu bacaan(membaca intensif)
2. Menemukan kata kunci
3. Menemukan ide pokok
4. Menemukan kalimat utama
5. Memahami isi dari bacaan

LIVEWORKSHEETS

Selamat Bergabung

Uji Kompetensi I
Tema 8 Subtema 3

Tuliskan namamu

Nama Siswa

Pilihlah jawaban yang benar

1. Pada waktu gerhana matahari terjadi, cahaya matahari tidak dapat dilihat dari...

A. Bumi

B. Bulan

C. Planet

D. meteor

LIVEWORKSHEETS

2. Jika matahari, bulan, dan bumi, berada pada satu garis lurus maka akan terjadi gerhana matahari....

A. sebagian

B. cincin

C. total

D. penumbra

3. Gambar berikut menunjukkan terjadinya gerhana matahari.....

A. cincin

B. sebagian

C. penumbra

D. total

LIVEWORKSHEETS

4. Informasi yang tertulis dalam bacaan disebut informasi ....

A. tersirat

B. tersurat

C. tertulis

D. terbaca

5. Kita perlu memahami isi bacaan sebelum menemukan.....dalam bacaan

A. alinea

B. Pengarang

C. informasi penting

D. kata serapan

LIVEWORKSHEETS