LKPD

Menuliskan dan Membandingkan Pecahan

Nama :
Kelas :
No. Absen :

Tujuan

Mereka dapat membandingkan dan mengurutkan antarpecahan, serta dapat mengenali pecahan senilai.

Petunjuk

1. **Perhatikan setiap gambar dengan teliti.**
2. **Amati bagian yang diarsir (diwarnai) pada setiap bangun.**
3. **Hitung berapa banyak bagian yang sama besar pada setiap bangun (sebagai penyebut).**
4. **Hitung bagian yang berwarna (sebagai pembilang).**
5. **Tuliskan bentuk pecahan.**
6. **Kerjakan semua soal nomor 1–4 dengan langkah yang sama.**
7. **Untuk soal perbandingan (nomor 5–10), Perhatikan kedua pecahan yang diberikan.**
8. **Samakan penyebut (jika perlu) atau ubah ke bentuk desimal sederhana.**
9. **Bandingkan nilainya.**
10. **Untuk perbandingan, bandingkan kedua pecahan lalu beri tanda <, >, atau =.**
11. **Periksa kembali jawaban.**

1. 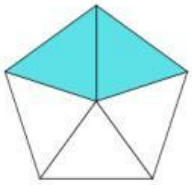

$\frac{\text{.....}}{\text{.....}}$

2. 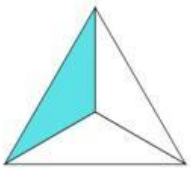

$\frac{\text{.....}}{\text{.....}}$

3. 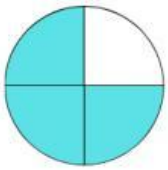

$\frac{\text{.....}}{\text{.....}}$

4. 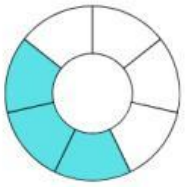

$\frac{\text{.....}}{\text{.....}}$

5. $\frac{1}{2}$ ..... $\frac{1}{5}$

7. $\frac{1}{4}$ ..... $\frac{1}{7}$

9. $\frac{1}{9}$ ..... $\frac{1}{3}$

6. $\frac{1}{8}$ ..... $\frac{1}{8}$

8. $\frac{1}{16}$ ..... $\frac{1}{8}$

10. $\frac{1}{12}$ ..... $\frac{1}{8}$

LIVEWORKSHEETS