ما القيم
المستقل في المثال 1؟ اكتب
فيما يلي:

أمثلة

1. المُخرج أكبر من المُدخل بمقدار 7. أكمل جدول الدالة لهذه العلاقة.

قاعدة الدالة هي $x + 7$. أضف 7 لكل مُدخل.

المُدخَل (x)	$x + 7$	المُخرج
10		
12		
14		

المُدخَل (x)	$x + 7$	المُخرج
10	$10 + 7$	17
12	$12 + 7$	19
14	$14 + 7$	21

2. المُخرَج يساوي 5 أضعاف المُدخل. أكمل جدول الدالة لهذه العلاقة.

قاعدة الدالة هي $5x$. اضرب كل مُدخل في 5.

المُدخَل (x)	$5x$	المُخرج
8		
10		
12		

المُدخَل (x)	$5x$	المُخرج
8	$5 \cdot$	
10	$5 \cdot$	
12	$5 \cdot$	

تأكد من فهمك أوجد حلولاً للمسائل التالية لتتأكد أنك فهمت.

a.

المُدخَل (x)	$x - 4$	المُخرج
4		
7		
10		

b.

المُدخَل (x)	$3x$	المُخرج
0		
2		
5		

McGraw-Hill Education حقوق الطبع والتأليف © محفوظة لصالح مؤسسة
LIVEWORKSHEETS

مثال

3. أوجد المُدخَل لجدول الدالة.

المُدخَل (x)	$3x$	المُخرج
		6
		15
		21

استخدم إستراتيجية *الحل بترتيب عكسي* لتحديد المُدخَل. وإذا كان يتم إيجاد المُخرَج عن طريق الضرب في 3، فحينها يتم إيجاد المُدخَل عن طريق القسمة على 3.

القيم المُدخَلة هي $6 \div 3$ أو 2، و $15 \div 3$ أو 5، و $21 \div 3$ أو 7.

تأكد من فهمك أوجد حلولاً للمسائل التالية لتتأكد أنك فهمت.

c.

المُدخَل (x)	$2x - 1$	المُخرج
		1
		3
		5

d.

المُدخَل (x)	$3x + 2$	المُخرج
		17
		20
		29

LIVEWORKSHEETS

تمرين موجّه

التحقق

1. يشتري أسامة حبوب الجيلي. وبالجملة، يكلف الكيلوجرام الواحد منها AED 3 ويكلف الطبق الواحد من الحلوى AED 2. ويمكن استخدام قاعدة الدالة، $3x + 2$، حيث x هو عدد الكيلوجرامات، لإيجاد التكلفة الإجمالية لعدد x من الكيلوجرامات من حبوب الجيلي وطبقٍ واحد من الحلوى. أنشئ جدولاً يوضح إجمالي تكلفة شراء 2 أو 3 أو 4 كيلوجرامات من حبوب الجيلي وطبقٍ واحد من الحلوى. (المثالان 1 و 2)

الكيلوجرامات (x)	$3x + 2$	التكلفة (AED) (y)

2. يقطع ماجد 4 كيلومترات في الساعة سيرًا على الأقدام. وقاعدة الدالة التي تمثل هذه الحالة هي $4x$، حيث x هو عدد الساعات. أنشئ جدولاً لإيجاد عدد الساعات التي قضاها سيرًا على الأقدام عندما قطع 8 و 12 و 20 كيلومترًا. ثمّ مثّل الدالة بيانيًا. (المثالان 3 و 4)



الكيلومترات	$4x$	الساعات

3. **الاستفادة من السؤال الأساسي** كيف يمكن أن يساعدك جدول الدالة على إيجاد المُدخَل أو المُخرَج؟

قيّم نفسك!

هل أنت مستعد للمتابعة؟ ظلل القسم الذي ينطبق.

مطوياتي حان وقت تحديث مطويتك!

حقوق الطبع والتأليف © محفوظة لصالح مؤسسة McGraw-Hill Education

LIVEWORKSHEETS

1

المُدخَل (x)	$3x + 5$	المُخرج
0		
3		
9		

2.

المُدخَل (x)	$x - 4$	المُخرج
4		
8		
11		

3.

المُدخَل (x)	$x + 2$	المُخرج
		2
		3
		8

4.

المُدخَل (x)	$2x + 4$	المُخرج
		18
		22
		34

5 لدى هناء إجمالي 30 قطعة من الكعك من أجل ضيوفها. ويمكن استخدام قاعدة الدالة، $30 \div x$ حيث x هو عدد الضيوف. لإيجاد عدد قطع الكعك لكل ضيف. أنشئ جدولاً بالقيَم التي توضِّح عدد قطع الكعك التي سيحصل عليها كل ضيف إذا كان هناك 6 أو 10 أو 15 ضيفًا. ثمَّ مثِّل الدالة بيانيًا. (المثالان 1 و 2)

عدد الضيوف (x)	$30 \div x$	قطع الكعك لكل ضيف (y)

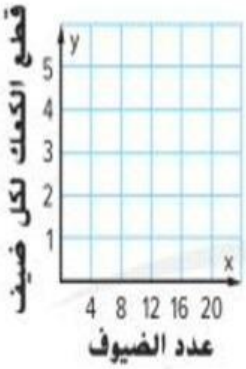

6. تقطع هدى بعجلات التزلج مسافة 8 كيلومترات في الساعة. وقاعدة الدالة التي تمثل هذه الحالة هي $8x$، حيث x هي عدد الساعات. أنشئ جدولاً للتوصل إلى عدد الساعات التي قضتها في التزلج عندما قطعت مسافة 16 و 24 و 32 كيلومترًا. ثمَّ مثِّل الدالة بيانيًا (المثالان 3 و 4)

الساعات (x)	$8x$	الكيلومترات (y)



7. ارجع إلى التمرين 6. كم عدد الكيلومترات التي ستقطعها هدى إذا تزلجت

Mohammed Bin Rashid Smart Learning Program
حقوق الطبع والتأليف © محفوظة لصالح مؤسسة McGraw-Hill Education
LIVEWORKSHEETS