Siska Prastiani,S.Pd

SD Negeri No.106212 Rambung Sialang

LATIHAN 1

NAMA SISWA / KELAS :

Perhatikan video dibawah ini!

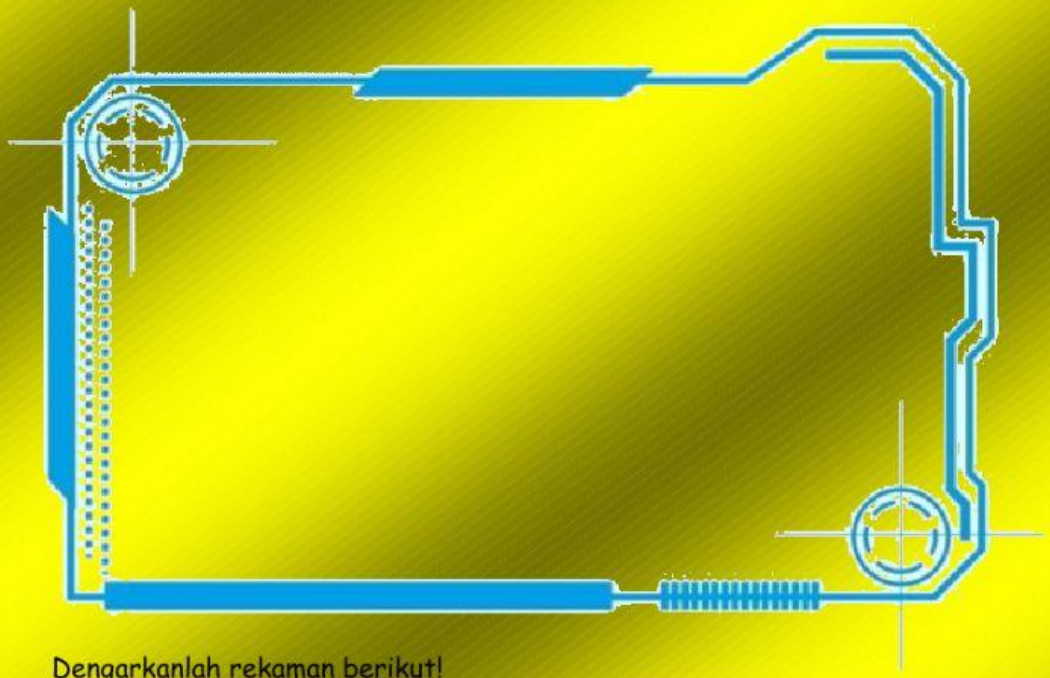

Dengarkanlah rekaman berikut!

1.Tuliskanlah informasi yang kamu peroleh setelah menonton dan mendengarkan vidio dan rekaman tadi!

LIVEWORKSHEETS

2. Gambar disamping menujukkan hubungan simbiosis

.....



3. Antara pohon jambu dan benalu memiliki hubungan simbiosis.....

- Mutualisme
- Komensalisme
- Parasitisme
- Ekosistem

4. Berilah tanda centang pada nama-nama disamping yang merupakan bagian dari ekosistem sawah!

- [ ] Kelinci
- [ ] belalang
- [ ] Padi

5. Tariklah garis dari huruf A/B ke arah kotak pasangannya berdasarkan hubungannya!

"Kupu-kupu dengan bunga"	A. Komensalisme
"Anggrek dan pohon mangga"	B. Mutualisme

LIVEWORKSHEETS

6. Klik/sentuh gambar-gambar dibawah, kemudian geser dan lepas diatas garis yang tersedia agar menjadi susunan rantai makanan yang tepat



LIVEWORKSHEETS