תרגילים

3. כתבו את שם המרובע.

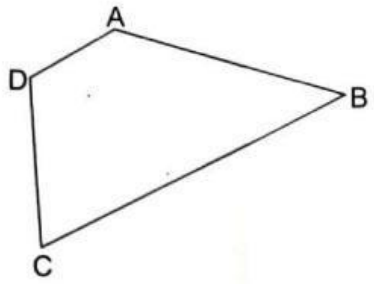

4. כתבו את שם המחומש.

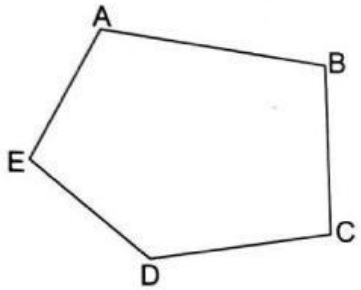

5. **א.** מצאו בסרטוט מרובע וכתבו את שמו.

ב. מצאו בסרטוט משולש וכתבו את שמו.

ג. מצאו בסרטוט מחומש וכתבו את שמו.

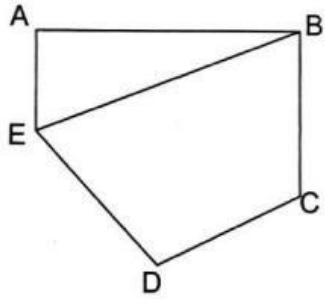

6. **א.** מצאו בסרטוט 3 משולשים. כתבו את שמותיהם.

ב. מצאו בסרטוט מרובע. כתבו את שמו.
האם תוכלו למצוא מרובע נוסף? מה שמו?

ג. מצאו בסרטוט מחומש וכתבו את שמו.

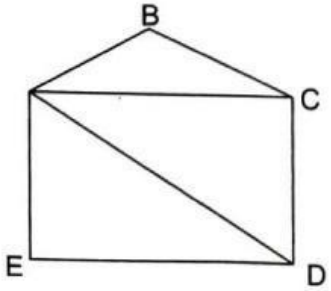

© מתמטיקה רבתה
LIVEWORKSHEETS