בס"ד

אחוזים- תרגול

1. כמה אחוזים משטח כל ריבוע צבועים **בירוק**?
כמה אחוזים משטח כל ריבוע אינם צבועים **בירוק**?

א.
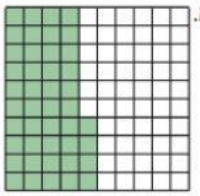
החלק הצבוע :
החלק שאינו צבוע:

ב.

החלק הצבוע:
החלק שאינו צבוע:

ג.

החלק הצבוע:
החלק שאינו צבוע:

ד.

החלק הצבוע :
החלק שאינו צבוע:

2. כִּתבו כאחוזים.

דוגמה: $\frac{45}{100}$ מהשלם הם 45%.

א. $\frac{15}{100}$ מהשלם הם % _____

ב. $\frac{1}{100}$ מהשלם הם % _____

ג. $\frac{28}{100}$ מהשלם הם % _____

ד. $\frac{60}{100}$ מהשלם הם % _____

ה. $\frac{5}{100}$ מהשלם הם % _____

ו. $\frac{100}{100}$ מהשלם הם % _____

3. 35% משטח של ריבוע צבועים.

א. כמה אחוזים משטח הריבוע לא צבועים?

ב. מה גדול יותר: השטח הצבוע או השטח שאינו צבוע?

4. בקופסת חרוזים 35% מהחרוזים צהובים, 25% מהחרוזים אדומים והשאר ירוקים.

א. מה אחוז החרוזים הירוקים?

ב. באיזה צבע מספר החרוזים בקופסה הוא הקטן ביותר?

5. בכל סעיף, צילום מתוך מסמך מחשב. מִצאו את האחוז וכִּתבו בשבר פשוט.

א.

כמה אחוזים נותר למחשב לטעון?

ב.

כמה אחוזים בערך נותר למחשב להעתיק?

6. בכל סעיף, כִּתבו את החלק מהשלם כאחוז.

א. $\frac{9}{10}$ מהשלם הם %____ מהשלם.

ב. $\frac{3}{100}$ מהשלם הם %____ מהשלם.

ג. $\frac{4}{5}$ מהשלם הם %____ מהשלם.

ד. $\frac{7}{20}$ מהשלם הם %____ מהשלם.

ה. $\frac{4}{50}$ מהשלם הם %____ מהשלם.

ו. $\frac{9}{25}$ מהשלם הם %____ מהשלם.

7. כִּתבו כשבר פשוט וכאחוזים את החלק משטח העיגול הצבוע **בירוק**.

א.

שבר פשוט: ____
אחוזים: %____

ב.

שבר פשוט: ____
אחוזים: %____

ג.
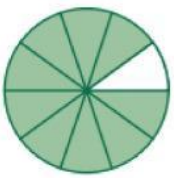
שבר פשוט: ____
אחוזים: %____

ד.

שבר פשוט: ____
אחוזים: %____

LIVEWORKSHEETS