نشاط ختامي متمايز

السؤال الأول: أوجدي مساحة المستطيل:

١١----

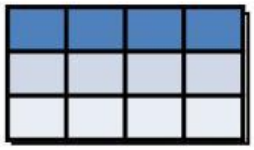

..... وحدة مربعة

السؤال الثاني: أوجدي مساحة المستطيل:

١٢----

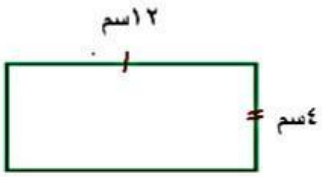

.....

.....

السؤال الثالث: اكتشف الخطأ: قام محمد وعلي بإيجاد مساحة المستطيل، أيهما إجابته صحيحة؟

١٢-----

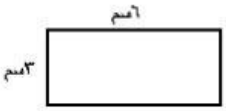

إجابة .....

LIVEWORKSHEETS